AYT

ÖSYM TARZINDA HAZIRLANMIŞTIR

TARİH

SORU KÜTÜPHANESİ

- MODÜLER TESTLER
- MEB KAZANIM TESTLERİ
- ÜNİTE ÖLÇME TESTLERİ
- ÖZEL TEST
- KARMA TESTLER
- GENEL TARAMA TESTLERİ

PRF YAYINLARI
Hedefine Paraf At

PRF YAYINLARI

İÇİNDEKİLER

ÜNİTE 1: TARİH VE ZAMAN 9

ÜNİTE 2: İNSANLIĞIN İLK DÖNEMLERİ 13

ÜNİTE 3: ORTA ÇAĞ'DA DÜNYA 25

ÜNİTE 4: İLK VE ORTA ÇAĞLARDA TÜRK DÜNYASI 29

ÜNİTE 5: İSLAM MEDENİYETİNİN DOĞUŞU 41

ÜNİTE 6: TÜRKLERİN İSLAMİYET'İ KABULÜ VE İLK TÜRK İSLAM DEVLETLERİ 49

GENEL TARAMA TESTLERİ (1-6. ÜNİTELER) 57

ÜNİTE 7: YERLEŞME VE DEVLETLEŞME SÜRECİNDE SELÇUKLU TÜRKİYESİ 75

ÜNİTE 8: BEYLİKTEN DEVLETE OSMANLI SİYASETİ (1302-1453) 81

ÜNİTE 9: DEVLETLEŞME SÜRECİNDE SAVAŞÇILAR VE ASKERLER 87

ÜNİTE 10: BEYLİKTEN DEVLETE OSMANLI MEDENİYETİ 91

ÜNİTE 11: DÜNYA GÜCÜ OSMANLI (1453-1595) 95

ÜNİTE 12: SULTAN VE OSMANLI MERKEZ TEŞKİLATI 107

ÜNİTE 13: KLASİK ÇAĞDA OSMANLI TOPLUM DÜZENİ 111

GENEL TARAMA TESTLERİ (7-13. ÜNİTELER) 115

ÜNİTE 14: DEĞİŞEN DÜNYA DENGELERİ KARŞISINDA OSMANLI SİYASETİ 133

ÜNİTE 15: DEĞİŞİM ÇAĞINDA AVRUPA VE OSMANLI 143

ÜNİTE 16: ULUSLARARASI İLİŞKİLERDE DENGE STRATEJİSİ (1774-1914) 149

ÜNİTE 17: DEVRİMLER ÇAĞINDA DEĞİŞEN DEVLET-TOPLUM İLİŞKİLERİ 161

ÜNİTE 18: SERMAYE VE EMEK 171

ÜNİTE 19: XIX VE XX. YÜZYILDA DEĞİŞEN GÜNDELİK HAYAT 177

GENEL TARAMA TESTLERİ (14-19. ÜNİTELER) 181

PRF YAYINLARI

İÇİNDEKİLER

ÜNİTE 20: XX. YÜZYIL BAŞLARINDA OSMANLI DEVLETİ VE DÜNYA 199

ÜNİTE 21: MİLLÎ MÜCADE (HAZIRLIK DÖNEMİ) 207

MİLLÎ MÜCADE (BÜYÜK MİLLET MECLİSİ DÖNEMİ) 215

MİLLÎ MÜCADE (CEPHELER) 219

MİLLÎ MÜCADE (MUDANYA'DAN LOZAN'A) 227

ÜNİTE 22: ATATÜRKÇÜLÜK VE TÜRK İNKILABI (ATATÜRK İLKELERİ) 231

ATATÜRKÇÜLÜK VE TÜRK İNKILABI (İNKILAPLAR) 237

GENEL TARAMA TESTLERİ (20-22. ÜNİTELER) 247

ÜNİTE 23: İKİ SAVAŞ ARASINDAKİ DÖNEMDE TÜRKİYE VE DÜNYA 265

ÜNİTE 24: II. DÜNYA SAVAŞI SÜRECİNDE TÜRKİYE VE DÜNYA 273

ÜNİTE 25: II. DÜNYA SAVAŞI SONRASINDA TÜRKİYE VE DÜNYA 279

ÜNİTE 26: TOPLUMSAL DEVRİM ÇAĞINDA DÜNYA VE TÜRKİYE 285

ÜNİTE 27: XXI. YÜZYILIN EŞİĞİNDE TÜRKİYE VE DÜNYA 291

GENEL TARAMA TESTLERİ (23-27. ÜNİTELER) 297

CEVAP ANAHTARI 313

PRF YAYINLARI

PRF YAYINLARI

Hedefine Paraf At

TARİH VE ZAMAN

Test - 1

1. **Aşağıdakilerden hangisi tarih biliminin doğrudan incelediği konulardan biri değildir?**

A) Savaşlar
B) Göçler
C) İhtilaller
D) Islahatlar
E) Kıtlık ve kuraklıklar

2. **Geçmiş olay ve olguların sebep-sonuç ilişkisiyle birbirine bağlanmasının, tarih bilimine aşağıdakilerden hangisini kazandırdığı savunulabilir?**

A) Objektiflik
B) Millilik
C) Bütünsellik
D) Evrensellik
E) Güncellik

3. **Tarih araştırmalarını kolaylaştıran aşağıdaki belgelerden hangisinin birinci el kaynaklar içerisinde yer aldığı söylenemez?**

A) Ferman
B) Madeni para
C) Orhun Abideleri
D) Nutuk
E) Osmanlı Tarihi Ansiklopedisi

4. Tarihî bir olayın ortaya çıkmasında kendisinden önce gerçekleşen birtakım olaylar etkilidir. Aynı şekilde bu tarihî olay da ortaya çıkardığı neticelerle başka olayların başlamasına ortam hazırlar.

Bu durumun tarih araştırmalarında aşağıdaki yöntemlerden hangisini gerekli hâle getirdiği savunulabilir?

A) Olayların neden - sonuç ilişkisi içinde incelenmesini
B) Olaylar ile ilgili kaynak taraması yapılmasını
C) Elde edilen kaynakların incelenmesinde diğer bilimlerden yararlanılmasını
D) Olayın meydana geldiği yerde araştırma yapılmasını
E) Olayların konularına göre sınıflandırılmasını

5. **Vaka (olay) ile ilgili aşağıda verilen bilgilerden hangisi yanlıştır?**

A) Kendine has özelliklere sahiptir.
B) Somut bilgiler içerir.
C) Yer ve zaman bildirir.
D) Uzun süreli gelişmelerdir.
E) Tekrarı yoktur.

6. **Aşağıdakilerden hangisinin tarih araştırmalarını kolaylaştırdığı savunulamaz?**

A) Farklı bilim dallarından yararlanılmasının
B) Olaylarla ilgili deney ve gözlemler yapılmasının
C) Tarihî olayların yer, zaman ve mekanlarına göre sınıflandırılmasının
D) Olayların basılı ve görüntülü kayıtlarının bulunmasının
E) Eski dönemlere ait yazılı ve yazısız belgelere ulaşılmasının

7. **Tarihî bilgiye ulaşmamızda yardımcı olan aşağıdaki kaynaklardan hangisinin güvenilirliği diğerlerine göre daha azdır?**

A) Tabletler B) Fermanlar C) Destanlar D) Arkeolojik buluntular E) Paralar

8.

> Müslüman Araplar ile Çinliler arasında 751 yılında gerçekleşen Talas Savaşı'nda Çinliler ağır bir mağlûbiyete uğradı (I). Türk boyları Çin baskısından kurtuldu (II). Batı Türkistan'da sarsılan Türk nüfuzu yeniden kuruldu (III). Türk-Arap mücadelesinin yerini dostluğa ve iş birliğine bırakmasıyla sağlanan barış ortamında Türklerin İslamlaşma süreci hız kazandı (IV). Savaşta esir alınan Çinliler, Çin dışında ilk defa Semerkant'ta kağıt üretti (V).

Talas Savaşı'yla ilgili bu metinde kaç numaralı cümle bir "tarihî olgu" yu ifade eder?

A) I B) II C) III D) IV E) V

Prf Yayınları
PRF YAYINLARI

9. Zamanı geriye döndürmek mümkün olmadığından tarih, geçmişte meydana gelen ve aynıyla tekrarlanamayan olayları inceler.

Buna göre aşağıdakilerden hangisi tarih araştırmalarında kullanılan bir yöntem olamaz?

A) Belgeleri sınıflama
B) Tarihî olayları gözlemleme
C) Eldeki belgeleri tahlil edip kullanılabilir duruma getirme
D) Kaynakları eleştiriye (tenkit) tabi tutma
E) Verileri terkip ederek tarihî bir sonuca ulaşma

10. Belgeleri tür, şekil ve içerik bakımından inceleyen bilimdir. Belgelerin sahte olup olmadığını değerlendirir. Belgelerin üzerindeki işaretlerin hangi anlama geldiği, devletler arası yazım şekilleri, bürokrasi gibi konularda tarihe yardımcı olur.

Yukarıda özellikleri verilen bilim alanı aşağıdakilerden hangisidir?

A) Filoloji B) Diplomasi C) Etnoğrafya D) Nümizmatik E) Paleografi

11. Araştırma sonucunda elde edilen bilgi ve verilerin kaynak değeri açısından yeterli olup olmadığını öğrenmeye ve sınıflandırılan bilgilerin içeriğini değerlendirmeye çalışır. Bilginin güvenilirliğine ve nesnelliğine dikkat eder.

Yukarıdaki bilgiyle tarih araştırmalarının aşağıda verilen aşamalarından hangisi tanımlanmıştır?

A) Tarama B) Tasnif C) Tahlil D) Tenkit E) Terkip

12. Tarihe tanıklık yapan her türlü malzemeye kaynak veya belge denir. Tarihî olayların doğru ve güvenilir bir şekilde değerlendirilebilmesi için en önemli unsur da kaynaktır.

Buna göre aşağıdakilerden hangisi tarihî kaynaklar arasında gösterilemez?

A) Fotoğraflar B) Şecereler C) Paralar D) Coğrafi şekiller E) Kitabeler

13. Tarih biliminin araştırma yöntemleri aşağıdakilerden hangisinde doğru olarak sıralanmıştır?

A)	Tarama	Tasnif	Tahlil	Tenkit	Terkip
B)	Tarama	Tahlil	Tasnif	Tenkit	Terkip
C)	Tarama	Tenkit	Tasnif	Tahlil	Terkip
D)	Tahlil	Tarama	Tasnif	Tenkit	Terkip
E)	Tasnif	Tarama	Tahlil	Tenkit	Terkip

14. Tarih çok geniş bir çalışma alanına sahiptir. Çalışma alanının geniş olması onun incelenmesini zorlaştırmıştır.

Bu durumun, tarih araştırmalarında aşağıdakilerden hangisini zorunlu hâle getirdiği savunulabilir?

A) Tarihî olayları incelemek için zaman, mekan ve konuya göre sınıflandırma yapılmasını
B) Tarihî olayların üzerinden belirli bir zaman geçtikten sonra incelenmesini
C) Tarihî gelişmelerin millî bakış açısı ile yorumlanmasını
D) Tarihî olayın geçtiği bölgenin ziyaret edilmesini
E) Tarihî olaylarda ikinci elden kaynakların değerlendirilmesini

15. Nümizmatik bilimi bir devletin;

I. mali gücü,
II. siyasi tarihi,
III. kullandığı yazı türü

konularından hangileri hakkında bilgi verebilir?

A) Yalnız I B) Yalnız II C) I ve II D) I ve III E) I, II ve III

16. Yazının bulunmadığı "Tarih Öncesi Dönemler"**in aydınlatılmasında aşağıdaki bilimlerden hangisinin tarihe yardımcı olamayacağı söylenebilir?**

A) Coğrafya
B) Diplomasi
C) Kimya (Karbon 14 Metodu)
D) Arkeoloji
E) Antropoloji

Prf Yayınları
PRF YAYINLARI

İNSANLIĞIN İLK DÖNEMLERİ

Test - 1

1. Çatalhöyük, Anadolu coğrafyasında 2.000 yıldan fazla bir zamanda köy yaşamından kentsel hayata geçişin önemli bir kanıtıdır. İlk yerleşim yerlerinden biri olması nedeniyle insanlık tarihi açısından büyük önem taşıyan Çatalhöyük'te ezme ve öğütme taşlarının bulunması, buradaki insanların kendi ekmek ihtiyaçlarını karşıladıklarını göstermektedir.

Buna göre Çatalhöyük'teki buluntuların aşağıdaki dönemlerin hangisinin aydınlatılmasına katkı sağladığı söylenebilir?

A) Eski Taş Devri
B) Yeni Taş Devri
C) Tunç Devri
D) Demir Devri
E) İlk Çağ

2. **İnsanların yerleşik yaşama geçmeleri sonrasında keşfettikleri icat aşağıdakilerden hangisidir?**

A) Havan B) Yazı C) Para
D) Saban E) Ateş

3. **Aşağıdakilerden hangisi tarih öncesi devirlerde görülen gelişmelerden biri değildir?**

A) Ticarette para kullanılması
B) Madenlerin işlenmesi
C) Taş ve topraktan eşya yapılması
D) Tarımsal üretimin başlaması
E) Şehir devletlerinin kurulması

4. Diyarbakır'ın Ergani ilçesindeki Çayönü'nde yapılan arkeolojik kazılarda günümüzden 7000 yıl kadar önceye tarihlenen tahıl saplarını kesmek ve tahıllı un hâline getirmek için çakmak taşından ve volkanik camdan yapılmış orak ve bıçaklar ile tahıl öğütme taşları bulunmuştur.

Yalnız bu bilgiye bakarak Çayönü'nde yaşayanlarla ilgili aşağıdakilerden hangisi söylenebilir?

A) Tarımsal üretim yaptıkları
B) Yazıyı kullanmaya başladıkları
C) Devletleşme sürecini başlattıkları
D) Farklı kültürlerle etkileşim içinde oldukları
E) Göçebe yaşam sürdükleri

5. Tahılların beslenmede kullanılması, yemek hazırlama işlemini gerektirmiş ve bunun için de uygun araç-gereçler üretilmiştir.

Aşağıdakilerden hangisi bu türden araç-gereçlerden biri olamaz?

A) Dibek B) Öğütme taşı
C) Havan D) Çanak ve çömlek
E) Mızrak

6.

Günümüzden yaklaşık 12 bin yıl önce iklim giderek insan yaşamına uygun hâle gelmesi sonucunda Anadolu'nun güneydoğusu, Mısır'ın kuzeydoğusu ile Mezopotamya'da, ilk yerleşme ile ilgili hareketliliklerin görüldüğü bölgeye aşağıdaki isimlerden hangisi verilmiştir?

A) Cafer Höyük
B) Bereketli Hilal
C) Göbeklitepe
D) Maveraünnehir
E) Çatalhöyük

7. Taş ve kerpiçten evlerin bulunduğu bir höyükte çıkan eşyalar arasında el değirmenleri, kömür haline gelmiş buğday ve arpa taneleri, üzerleri boyanıp süslenmiş kilden yapılma çömlekler ile insan ve hayvan heykelleri yer almıştır.

Bu bilgilere göre, burada yaşamış olan insanlarla ilgili olarak aşağıdakilerden hangisi kesin olarak söylenemez?

A) Sanatla uğraştıkları
B) Yerleşik hayata geçtikleri
C) Demirden tarım araçları yaptıkları
D) Topluluk halinde yaşadıkları
E) Ateşi kullandıkları

Prf Yayınları
PRF YAYINLARI

8. I. Efsaneler
II. Mitler
III. Destanlar

Yukarıdakilerden hangileri insanlığın yazılı olmayan tarihini oluşturan sözlü kültür ögelerine örnek gösterilebilir?

A) Yalnız I B) Yalnız II C) Yalnız III
D) II ve III E) I, II ve III

9. **Tarih öncesi dönemlere ait;**

I. mağara duvarlarına resimlerin çizilmesi,
II. orak ve saban gibi aletlerin kullanılması,
III. el değirmenlerinin kullanılması

gelişmelerden hangileri bir yörede tarım yapıldığına kesin kanıt olarak gösterilebilir?

A) Yalnız I B) Yalnız II C) Yalnız III
D) I ve III E) II ve III

10. Tarihte tek tek meydana gelen değişimlere olay, aynı türdeki olayları bir bütün olarak tanımlamaya olgu denir.

Bu tanıma göre aşağıdakilerden hangisi tarihi bir olguya örnek olarak verilebilir?

A) II. Dünya Savaşı
B) Demokratikleşme hareketleri
C) Karlofça Antlaşması
D) Haçlı Seferleri
E) Kurtuluş Savaşı

11. **Yeni Taş (Cilalı Taş) Devri yerleşim alanlarından biri olan UNESCO Dünya Mirası" listesine de alınan Şanlıurfa'daki Göbeklitepe'nin, insanlık tarihi açısından aynı devre ait Diyarbakır Çayönü'nü alanından farklı olan özelliği aşağıdakilerden hangisidir?**

A) Yerleşik hayatın görülmesi
B) Bakırdan yapılmış süs eşyalarına rastlanılması
C) Bilinen en eski dinî mimarinin (tapınak) bulunması
D) İlk şehir yerleşmesi olarak kabul edilmesi
E) Heykelciklerin bulunması

12. "Mezopotamya'da insanlar ilk olarak bölgenin dağlık kuzey kısmına yerleşmiştir. Çünkü taştan başka silahları olmayan bu insanlar, düz alanlara yerleşmeye cesaret edememiştir."

Emel, bu anlatımıyla, ilk insanların yerleşim yeri seçiminde aşağıdakilerden hangisinin belirleyici olduğunu vurgulamıştır?

A) Su kaynaklarına yakın olmanın
B) Tarım ve hayvancılığa uygunluğun
C) Yaşamaya elverişli iklim koşullarının
D) Can ve mal güvenliğini sağlamanın
E) Başka topluluklarla iletişim kurmanın

13. **Anadolu'da yapılan kazılarda;**

- tahıl saplarını kesmek ve tahıllı un haline getirmek için çakmak taşından ve volkanik camdan yapılmış orak, bıçak ve öğütme taşlarının,
- ana tanrıça heykelcikleri, penceresiz ve girişleri çatıdan kerpiç evlerin,
- Dünya'nın en eski duvar resimleri ve Anadolu'nun en eski çömleklerinin

bulunması aşağıdakilerden hangisini göstermez?

A) Yerleşik yaşamın başladığını
B) Tarım yapıldığını
C) Korunaklı evlerin inşa edildiğini
D) Kanunların yazılı hâle getirildiğini
E) Sanat ve din alanlarında gelişmeler görüldüğünü

14. Tarih öncesi devirlerin, başlangıç ve bitiş zamanları bölgelere göre farklılıklar göstermektedir.

Bu durumun nedeni aşağıdakilerden hangisi olabilir?

A) Toplumlar arasında dil ve yazı farklılıklarının olması
B) Tarih araştırmalarında milliyetçi bir yaklaşımın benimsenmesi
C) Mevcut bilgilerin daha çok arkeolojik kazılar sonucu elde edilmesi
D) Elde edilen yeni bulguların mevcut bilgilerin değişmesine neden olması
E) Yazıdan önceki dönemlerde, uygarlaşmada bütün toplumların aynı sıralamayı takip etmemesi

Prf Yayınları
PRF YAYINLARI

ORTA ÇAĞ'DA DÜNYA

Test - 1

1. Batı ve Orta Avrupa ülkelerinde toprak sahibi olan ----- ; siyasi, ekonomik, hukuki ve askerî haklara sahip olduğu ve temeli toprak köleliğine dayanan toplum düzenine "feodalizm" denilmektedir.

Bu parçada boş bırakılan yere aşağıdakilerden hangisinin getirilmesi uygun olur?

A) kilisenin
B) kralın
C) senyörün
D) şövalyenin
E) papanın

2. **Sasani madenî paralarının bir yüzünde hükümdarın, diğer yüzünde kutsal ateşin resmedilmesinin öncelikle aşağıdakilerden hangisini kolaylaştırdığı savunulabilir?**

A) Kralların meşruiyet kazanmasını
B) Ticaret faaliyetlerini
C) Sosyal devlet anlayışını
D) Sınırların genişlemesini
E) Ateşperestliğin yaygınlaşmasını

3. Kavimler Göçü'nden sonra Avrupa'nın her tarafında derebeylikler kurulmuş ve Orta Çağ boyunca güçlerini devam ettirmişlerdir.

Bu durumun ortaya çıkmasında derebeylerin,

I. güçlü kalelere ve büyük şatolara sahip olmaları,
II. kendilerine ait toprakların bulunması,
III. silahlı güçlerinin olması

özelliklerinden hangilerinin etkili olduğu savunulabilir?

A) Yalnız I
B) Yalnız II
C) I ve II
D) I ve III
E) I, II ve III

4. Yerleşik düzene geçilmesi ve tarım ekonomisinin gelişmeye başlamasıyla birlikte insan emeğine duyulan ihtiyaç artmıştır.

Bu durumun aşağıdakilerden hangisini ortaya çıkardığı söylenebilir?

A) Kolonicilik
B) Madencilik
C) Toplayıcılık
D) Kölelik düzeni
E) Madencilik

5. **İlk Çağ'da, Hint medeniyetinde görülen, tarihin en katı sosyal sınıflaşması olarak kabul edilen ve Hindistan'da millî birliğin gelişmesini engelleyen yapı aşağıdakilerden hangisidir?**

A) Feodalizm
B) Brahmanizm
C) Kolonizasyon
D) Kast Teşkilatı
E) Budizm

6. **Sasaniler,**

I. Mısır,
II. İran,
III. Mezopotamya,
IV. Kafkasya

bölgelerinden hangilerinde hâkimiyet kurmuşlardır?

A) I ve II
B) II ve III
C) III ve IV
D) I, II ve III
E) II, III ve IV

7. **Aşağıdakilerden hangisi Orta Çağ'da görülen gelişmeler arasında gösterilemez?**

A) Katolik-Ortodoks bölünmesinin yaşanması
B) Yüzyıl Savaşlarının başlaması
C) Avrupa'da Frank, Vizigot, Ostrogot, Sakson gibi Germen krallıklarının kurulması
D) Anadolu'da Asur kolonilerinin kurulması
E) İngiltere'de Magna Carta (Manga Karta)'nın imzalanması

8. **Aşağıdakilerden hangisi, Bizans İmparatorluğu'nun özelliklerinden biri değildir?**

A) Hellenizm kültürünün benimsenmesi
B) Batı Roma İmparatorluğu olarak adlandırılması
C) Orta Çağ'da; Anadolu, Balkanlar, Mısır, Suriye, Filistin ve Kuzey Afrika coğrafyasında etkili olması
D) Ortodoksluk mezhebinin benimsenmesi
E) Ordularında; İngiliz, Frank, Norman, Bulgar, Gürcü, Peçenek, Kıpçak, Uz gibi ücretli askerlere görev verilmesi

Prf Yayınları
PRF YAYINLARI

9. **Mısır'da özel mülkiyetin gelişmediğine;**

I. tüm toprakların firavuna ait olması,
II. toprakları kullananların kiracı sayılması,
III. üretim ve ticaretin devlet tarafından planlanıp denetlenmesi

gelişmelerinden hangileri kanıt olarak gösterilebilir?

A) Yalnız I B) Yalnız II C) Yalnız III
D) I ve II E) I, II ve III

10. "--- İyon ve Yunan şehir devletlerinde ticari faaliyetlerin yapıldığı yer olup kent meydanı, çarşı, pazar yeri anlamına gelmektedir. Adli, dinî ve siyasi fonksiyonları da olan ---; sanatın yoğunlaştığı, felsefenin temellerinin atıldığı, anıtların, sunakların, heykellerin bulunduğu yer yani tüccarların kalbiydi." **cümlesindeki boşluklara aşağıdaki ticaret mekanlarından hangisi yazılırsa doğru olur?**

A) agora B) kervansaray
C) ribat D) bedesten
E) arasta

11. **Aşağıdakilerden hangisinin ticaret faaliyetlerini kolaylaştırdığı ve yaygınlaştırdığı söylenemez?**

A) Madenî paranın ortaya çıkmasının
B) Ticaret yollarının güvenliğinin sağlanmasının
C) Savaşların artmasının
D) Kolonicilik faaliyetlerinin artmasının
E) Tüccarın devlet adamları tarafından desteklenmesinin

12. Orta Çağ'da Avrupa'da 1347 - 1351 yılları arasında veba salgını yaşanmıştır.

Aşağıdakilerden hangisi bu salgının Avrupa toplumları üzerindeki etkilerinden biri değildir?

A) Avrupa'nın demografik haritasının değişmesi
B) Haçlı Seferlerine ara verilmesi
C) Halkın psikolojik olarak güvensizlik ve korku yaşaması
D) Sosyal ilişkilerin zayıflaması
E) Ticaret ve dinî uygulamaların durma noktasına gelmesi

13. Mezopotamya'da çiftçiler ürünlerini ziggurat denilen tapınaklara teslim ederlerdi. Tapınaklarda toplanan ürünlerin kaydını tutan din adamları, dağıtımı da kontrol ederlerdi. Bu durum Mezopotamya toplumlarında rahipler sınıfı adıyla üstün bir sosyal tabakanın ortaya çıkmasına neden olmuştur.

Yalnız bu bilgilere bakarak aşağıdaki yargılardan hangisine ulaşılabilir?

A) Zigguratlar yapılış amacı dışında kullanılmıştır.
B) Ürünlerin bir merkezde toplanması ve dağıtılması toplumda tabakalaşmaya neden olmuştur.
C) Din adamlarının güçlenmesi üretimin artmasını sağlamıştır.
D) Toplumsal sınıflar arasındaki mücadele hukuk fikrini geliştirmiştir.
E) Sosyal sınıfların oluşması zigguratların yapılmasına neden olmuştur.

14. Orta Çağ'da temel geçim kaynağı büyük ölçüde tarıma dayalıdır. Bunun yanında ticaret ve hayvancılık da önemli geçim kaynağı olmaya devam etmiştir. İhtiyaç fazlası ürüne **"artı ürün"** denilmiştir.

Artı ürün,

I. toplumun sosyal tabakalara ayrılması,
II. çiftçilik dışında yeni mesleklerin ortaya çıkması,
III. soyluların ve din adamlarının ayrıcalıklarını kaybetmesi

sonuçlarından hangilerine ortam hazırlamıştır?

A) Yalnız I B) Yalnız II C) Yalnız III
D) I ve II E) I, II ve III

15. Hindistan'da uygulanan kast sisteminde; meslekler babadan oğula geçerdi. Her üye doğduğu kast içinde yaşamını sürdürürdü. Sınıflar arasında evlilikler ve geçiş yasaktı.

Buna göre kast sisteminin Hindistan'da aşağıdakilerden hangisini engellediği savunulabilir?

A) Tarım ve ticaret faaliyetlerini
B) Yerleşik yaşama geçilmesini
C) Millet olma bilincinin oluşmasını
D) Eğitim faaliyetlerinin sürdürülmesini
E) Çok tanrılı din anlayışının ortaya çıkmasını

Prf Yayınları
PRF YAYINLARI

1. Türk adının hangi anlama geldiği konusunda birçok araştırma yapılmıştır.

Aşağıdakilerden hangisi Türk adına yüklenen anlam ile ilgili yanlış bir eşleştirmedir?

A) Uygur metinlerinde - "Güç, kuvvet"
B) Divan-ı Lügati't Türk - "Olgunluk çağı"
C) Çin Kaynaklarında - "Miğfer"
D) Bizans Kaynaklarında - "Türemek"
E) Ziya Gökalp - "Kanun ve nizam sahibi"

2.

Orta Asya haritasında ■ sembolü ile gösterilen yerlerin çevresinde yapılan arkeolojik kazılar sonucunda aşağıdakilerden hangisi ortaya çıkarılmamıştır?

A) Alişar Kültürü
B) Afanesyevo Kültürü
C) Andronova Kültürü
D) Karasuk Kültürü
E) Tagar Kültürü

3. Türkler çeşitli sebeplerle Orta Asya'dan batıya doğru göç etmek zorunda kalmışlardır.

Aşağıdakilerden hangisi Türklerin, Orta Asya'dan göç etmelerinin sosyal ya da siyasal sebeplerinden biri değildir?

A) Boylar arası mücadele
B) Komşu devletlerin baskıları
C) Otlak ve tarım alanlarının daralması
D) Fetih arzusu ve yeni vatanlar kurma fikri
E) Bağımsız yaşama isteği

4. Türkiye adı;

- VI. yüzyılda Orta Asya için,
- IX ve X. yüzyılda Volga nehrinden Orta Avrupa'ya kadar olan bölge için,
- XII. yüzyılda Anadolu için kullanılmıştır.

Buna göre aşağıdakilerden hangisi söylenemez?

A) Türk tarihini bir bütün olarak incelemek zordur.
B) Türkler farklı coğrafyalarda devlet kurmuştur.
C) Bölgeler, yönetici güce göre isimlendirilmiştir.
D) Türkler, bağımsız yaşadıkları her yeri vatan kabul etmiştir.
E) Orta Asya'dan göç eden Türkler zamanla millî benliklerini yitirmiştir.

5. Eski Türkler dönemini aydınlatmak için gerçekleştirilen arkeolojik kazılarda kemer tokaları, kılıç kabzaları, süs eşyaları, at koşum takımları gibi taşınabilir eşyalar bulunmuştur. Bu eşyaların üzerinde pars, kaplan, kurt, geyik, koyun ve at gibi hayvanların birbirine karşı mücadelelerini gösteren figürler işlenmiştir.

Bu durum Türklerle ilgili aşağıdakilerden hangisinin göstergesidir?

A) Komşu devletlerle iyi ilişkiler kurulduğunun
B) Sanatın konar-göçer hayat şartlarına uygun olarak geliştiğinin
C) Halkın büyük bölümünün yerleşik hayat yaşadığının
D) Kalıcı mimari eserler verildiğinin
E) En önemli geçim kaynağının ticaret olduğunun

6. Büyük Hun hakanı Mete Han, MÖ 187 tarihinde Çin imparatoriçesine yazdığı mektubunda kendi hayatının ilk dönemiyle ilgili olarak şöyle demiştir: "Irmaklar ve göller arasında doğdum, geniş yaylalarda sığırlar ve atlar arasında büyüdüm, kendimi sık sık sınır boylarında buldum."

Bu ifadelere bakarak Hunlarla ilgili,

I. Temel geçim kaynakları hayvancılıktır.
II. Göçebe bir yaşam sürmüşlerdir.
III. Askerliğe önem vermişlerdir.

yorumlarından hangileri yapılabilir?

A) Yalnız I B) Yalnız II C) I ve III D) II ve III E) I, II ve III

Prf Yayınları
PRF YAYINLARI

7. Türkler, MÖ. 2000'lerden itibaren Orta Asya'dan Güney Asya, Avrupa ve Afrika kıtalarına göç etmiştir.

Türklerin göçlerini kolaylaştıran unsurlar arasında aşağıdakilerden hangisi yoktur?

A) Konar-göçer yaşam tarzı
B) Atın evcilleştirilmesi
C) Tekerleğin kullanılması
D) Gök Tanrı inancı
E) Teşkilat yapıları

8. **Orta Asya'da görülen yarı göçebe yaşamın sonucu olarak aşağıdakilerden hangisi gösterilemez?**

A) Bağımsızlık duygusu gelişmiştir.
B) Toprağa dayalı sınıflaşma (feodalite) yoktur.
C) Taşınabilir eser yapılmıştır.
D) Ordu millet anlayışı vardır.
E) Yerleşim merkezlerinin etrafı surlarla çevrilmiştir.

9.

> **Afanesyevo Kültürü:** Çakmak taşından ok uçları, bıçaklar, kemik iğneler, bakır eşyalar, basit çömlekler bu kültürün belli başlıca eserleridir.
>
> **Andronova Kültürü:** Tunçtan ve altından yapılmış eşyalara ilk olarak bu kültürde rastlanmıştır.

Bu bilgilerle,

I. Afanesyevo kültürü, en eski Orta Asya kültürüdür.
II. Andronova kültürü, Afenesyova kültüründen daha gelişmiştir.
III. Afanesyevo kültürünü meydana getirenler yerleşik yaşama geçmişlerdir.

ifadelerinden hangilerine kesin olarak ulaşılabilir?

A) Yalnız I B) Yalnız II C) Yalnız III
D) I ve III E) II ve III

10. **Aşağıdakilerden hangisi Orta Asya'daki kültür merkezlerinden Tagar bölgesine ait bir özellik değildir?**

A) Karasuk kültürünün devamı niteliğindedir.
B) Kendinden önceki Türk kültürlerinin sentezidir.
C) Tunçtan bıçak ve ok uçları yapmışlardır.
D) İlk yerleşim izlerine rastlanmıştır.
E) Otağ şeklinde ağaç evler bulunmuştur.

11. Türkler bazı nedenlerle Orta Asya'dan farklı bölgelere göç etmişlerdir.

Bu göçler sonrasında Türklerin, aşağıdaki bölgelerden hangisine yerleştiği söylenemez?

A) Güneydoğu Asya
B) Orta Doğu
C) Kuzeybatı Afrika
D) Avrupa
E) Balkanlar

12. **İslamiyet öncesi Türk topluluklarının genellikle göçebe yaşam sürmelerinin aşağıdaki alanlardan hangisinin gelişmesine engel olduğu söylenebilir?**

A) Mimari B) Hayvancılık C) Dokuma
D) Askerlik E) Ticaret

13. **İskit kültürünü oluşturan atlı-göçebe kültürünün Orta Asya'ya yayılmasını sağlayan kültür aşağıdakilerden hangisidir?**

A) Truva B) Karasuk C) Cafer Höyük
D) Lagaş E) Kartaca

Prf Yayınları
PRF YAYINLARI

İSLAM MEDENİYETİNİN DOĞUŞU

Test - 1

1. **İslamiyet'in doğduğu sırada aşağıdakilerden hangisi dünyadaki egemen güçlerden biri değildir?**

A) Habeş Krallığı
B) Göktürk Kağanlığı
C) Büyük Selçuklu Devleti
D) Bizans İmparatorluğu
E) Sasani İmparatorluğu

2. İslamiyet'ten önceki dönemde Arabistan'da genel olarak Putperestlik hâkimdi. Bunun yanı sıra Hristiyanlık, Musevilik ve Haniflik (Hz. İbrahim'in dini) dinlerine inananlar da vardı.

Yalnız bu bilgilere bakarak İslam öncesi Arap toplumu ile ilgili,

I. Dil birliği sağlanamamıştır.
II. İnanç birliği tam olarak gerçekleşmemiştir.
III. Halkın çoğunluğu göçebe yaşam sürmektedir.

yorumlarından hangileri yapılabilir?

A) Yalnız I B) Yalnız II C) I ve II
D) I ve III E) I, II ve III

3. **İslamiyet'ten önce Arap Yarımadası'nda siyasi ve dini birliğin sağlanamadığına aşağıdakilerden hangisi kanıt olarak gösterilemez?**

A) Şehir devletlerinin bulunması
B) Mekke'ye birçok ticaret kervanının gelmesi
C) Hristiyan, Yahudi ve putperestlerin olması
D) Kabile yaşantısının devam etmesi
E) Kan davalarının olması

4.
- Müslümanların, Mekkeli Müşriklerle yaptıkları ilk savaştır.
- Savaş sonunda ganimetlerle ilgili savaş hukuku oluşturulmuştur.

Yukarıdaki bilgileri verilen Hz. Muhammed dönemine ait savaş aşağıdakilerden hangisidir?

A) Bedir B) Uhud C) Hendek
D) Hayber E) Tebük

5. **Arap toplumunun İslamiyet öncesi dönemine,** "Cahiliye Dönemi" **denilmesinin nedenleri arasında aşağıdakilerden hangisi yer almamıştır?**

A) Bedeviliğin yaygın olması
B) Okuma yazma bilenlerin az olması
C) Bilgisizlik ve gaflet içerisinde bulunmaları
D) İnsanların medeniyet bakımından geri kalmaları
E) Halkın çoğunun putlara tapması

6. Aşağıda İslamiyet'ten önce Arabistan ve Arap toplumu ile ilgili bazı kavramların açıklaması rakamlarla gösterilmiştir:

1	İslam öncesi Arabistan'da zayıfları korumak ve adaleti sağlamak için kurulan cemiyet
2	Yerleşik yaşam sürenler
3	Göçebe yaşam sürenler
4	Ticaretle uğraşan zenginler
5	Haram aylarda (zilkade, zilhicce, muharrem ve recep) yapılan savaşlar

Buna göre verilen açıklamalarla ilgili kavramlar aşağıdakilerin hangisinde yanlış eşleştirilmiştir?

A) 1 Hilfu'l-Fudûl
B) 2 Hadariler
C) 3 Bedeviler
D) 4 Mevaliler
E) 5 Ficar Savaşları

7. **Hz. Muhammed Dönemi'nde yaşanan aşağıdaki gelişmelerden hangisi Müslümanların siyasal bir güç haline geldiğinin göstergesi olamaz?**

A) Bedir Savaşı
B) Hudeybiye Antlaşması
C) Vatandaşlık Sözleşmesi
D) Ensar ve muhacirin kardeş kabul edilmesi
E) Hayber'in fethedilmesi

Prf Yayınları
PRF YAYINLARI

8. **Müslümanlar ile Bizans arasında yapılan ilk savaş aşağıdakilerden hangisidir?**

A) Mute B) Tebük C) Hayber D) Hendek E) Huneyn

9. Bu antlaşma sonucunda Mekkeliler, Müslümanları resmen tanımış, Kureyş ittifakı parçalanmış, İslam'ın yayılması hızlanmış ve birkaç sene içerisinde neredeyse Arap Yarımadası'nın tamamına Müslümanlar hâkim olmuştur.

Yukarıda sonuçları verilen antlaşma hangisidir?

A) Akabe
B) Medine
C) Hudeybiye
D) Taif
E) Beni Kaynuka

10. Hz. Muhammed döneminde dağınık hâldeki ve birbirleriyle düşman olan Arap kabileleri İslamiyet etrafında birleştirilerek İslam Devleti kurulmuştur.

Buna göre Hz. Muhammed döneminde,

I. Araplar arasında güç birliğinin sağlandığı,
II. Arapçanın uluslararası nitelik kazandığı,
III. Arabistan'da huzur ve barış ortamının sağlandığı

durumlarından hangilerinin gerçekleştiği söylenemez?

A) Yalnız I B) Yalnız II C) Yalnız III D) II ve III E) I, II ve III

11. ➘ İlk kez cizye vergisi alınmıştır.
➘ Şam ticaret yolunun güvenliği sağlanmıştır.

Yukarıda özellikleri verilen gelişme aşağıdakilerden hangisidir?

A) Mekke'nin Fethi
B) Uhud Savaşı
C) Hayber'in Fethi
D) Mute Savaşı
E) Hendek Savaşı

12. ➘ Arabistan dışında yapılan ilk seferdir.
➘ Hz. Peygamberin son seferidir.
➘ Bu sefer esnasında ilk kez karantina uygulaması görülmüştür.

Özellikleri verilen bu olay aşağıdakilerden hangisidir?

A) Tebük Seferi B) Huneyn Savaşı C) Taif Seferi D) Mute Savaşı E) Hayber'in Fethi

13. Bedir ve Uhud Savaşlarında amaçlarına ulaşamayan Mekkeliler, çevredeki Yahudi ve Arap kabileleri ile ittifak kurarak Medine'ye saldırmışlar, ancak Hendek Savaşı'nda yenilerek geri çekilmişlerdir. Bu mücadeleler sırasında ticaret yollarında denetimi de kaybeden Mekkeliler, Medine'yi alamayacaklarını anlamışlardır. 628 tarihinde iki taraf arasında Hudeybiye Antlaşması imzalanarak barış yapılmıştır.

Bu bilgiler ışığında aşağıdaki yargılardan hangisine ulaşılamaz?

A) Mekkeliler ticarî üstünlüklerini kaybetmişlerdir.
B) Mekkeliler Müslümanların güçlenmesini önleyememişlerdir.
C) Müslümanlar Medine'yi başarı ile savunmuşlardır.
D) Bazı Yahudi ve Arap kabileleri Müslümanlarla savaşmışlardır.
E) Arap Yarımadası dışında fetihler başlamıştır.

14. 628 tarihinde Mekkeliler ile Medineliler arasında imzalanan Hudeybiye Antlaşması'nda,

- İki taraf arasında on yıl süreyle savaş yapılmayacaktır.
- Arap kabileleri diledikleri taraf ile ittifak yapabilecektir.

hükümleri yer almıştır.

Hudeybiye Antlaşması'nın bu hükümlerinin,

I. Müslümanların başka bölgeler üzerine sefer düzenlemelerinin kolaylaşması,
II. Mekkelilerin, Müslümanları yalnızlaştırma politikasının başarısız olması,
III. Mekkeliler ile Medineliler arasında ilişkilerin gelişmesi

sonuçlarından hangilerine ortam hazırladığı savunulabilir?

A) Yalnız I B) Yalnız II C) I ve II D) I ve III E) I, II ve III

Prf Yayınları
PRF YAYINLARI

TÜRKLERİN İSLAMİYET'İ KABULÜ VE İLK TÜRK İSLAM DEVLETLERİ Test - 1

1. **Aşağıdakilerden hangisi Türklerin Müslüman olmasını kolaylaştıran unsurlardan biri değildir?**

A) Gök Tanrı inancı ile Allah inancının birbirine benzemesi
B) Türklerdeki cihangirlik anlayışı ile İslamiyet'teki gaza ve cihat anlayışının örtüşmesi
C) Abbasilerin Türklere karşı uyguladığı hoşgörü politikası
D) İslamiyet'in ibadet merkezli bir din olması
E) İslamiyet öncesi Türklerin de ahiret inancının olması

2. **Aşağıdakilerden hangisi Karahanlıların özellikleri arasında gösterilemez?**

A) İkili yönetim anlayışını uygulamaları
B) Resmî dil olarak Arapçayı kullanmaları
C) Ribat adı verilen kervansaraylar inşa etmeleri
D) İslamiyet'i Orta Asya'da yaymaları
E) Türk-İslam kültürünün oluşum sürecini başlatmaları

3. Gazneliler Devleti'nde halkın çoğunluğunu Afgan, Hint, Fars ve çeşitli Türk boyları oluşturuyordu. Ordudaki askerler de değişik etnik topluluklardan toplanıyordu. Gazneliler Devleti'nin yönetim anlayışı, bir grup ayaklanırsa diğer toplulukları ayaklananların üzerine göndererek düzeni sağlamak şeklindeydi.

Bu bilgilere bakarak Gazneliler Devleti ile ilgili aşağıdaki yorumlardan hangisi yapılabilir?

A) Ülkedeki farklı etnik grupların birbirine karşı denge unsuru olarak kullanıldığı
B) Çok uluslu yapının sınırların genişlemesini engellediği
C) Ordunun yönetim üzerinde baskı oluşturduğu
D) Hükümdarların ordu komutanları arasından seçildiği
E) Ülkede farklı toplulukların olmasının bilim, kültür ve sanatın gelişmesini engellediği

4. **Aşağıdaki kavimlerden hangisi arasında İslamiyet'in kitleler hâline yayıldığı söylenemez?**

A) Araplar B) Slavlar C) Acemler D) Kürtler E) Türkler

5. I. Karluk
II. Yağma
III. Çiğil

Yukarıdaki Türk boylarından hangileri Karahanlıların kurulmasında rol oynamıştır?

A) Yalnız I B) Yalnız II C) I ve III D) II ve III E) I, II ve III

6. I. Nihavent Savaşı'ndan sonra Türklerle Müslüman Araplar sınır komşusu olmuşlardır.
II. İslamiyet'i ilk kez devlet dini olarak kabul edenler İtil (Volga) Bulgarlarıdır.
III. Talas Savaşı'ndan sonra Müslümanlar kâğıt yapma tekniğini Çinlilerden öğrenmişlerdir.

Yukarıdaki bilgilerden hangileri doğrudur?

A) Yalnız I B) Yalnız II C) Yalnız III D) I ve II E) I, II ve III

7. 751'de Çinliler ile Araplar arasında yapılan Talas Savaşı'nda Türkler Arapları desteklemiş ve Araplar galip gelmiştir.

Aşağıdakilerden hangisi bu savaşın sonuçlarından biri değildir?

A) Orta Asya Çin egemenliğine girmekten kurtulmuştur.
B) Türk - Arap mücadelesi sona ermiş ve ilişkiler düzelmeye başlamıştır.
C) Türkler Anadolu'da hakimiyet kurmaya başlamıştır.
D) Türkler Abbasi Devleti'nin yönetiminde görev almaya başlamıştır.
E) Türk boyları Çin baskısından kurtulmuştur.

8. **Tolunoğulları ve İhşidiler aşağıdaki devletlerden hangisinin siyasi gücünün zayıflamasından yararlanarak bağımsızlıklarını kazanmışlardır?**

A) Abbasiler
B) Gazneliler
C) Büyük Selçuklular
D) Emeviler
E) Endülüs Emevileri

Prf Yayınları
PRF YAYINLARI

9. Gaznelilerle ilgili olarak aşağıda verilenlerden hangisi yanlıştır?

A) Hindistan'a on yedi kez sefer düzenlemişlerdir.
B) Abbasi halifesini Şii Büveyhilerin baskısından kurtarmışlardır.
C) Hükümdarları "Sultan" unvanını kullanan ilk Türk devletidir.
D) Çok uluslu olup milli birliği kuramamışlardır.
E) Sultan Mahmut'un yönettiği Dandanakan Savaşı'nı kaybetmişlerdir.

10. Karahanlılar, İpek Yolu güzergahında kurulan bir Türk-İslam devletidir.

Bu durumun aşağıdakilerden hangisini Karahanlılarda en önemli gelir kaynağı hâline getirdiği savunulabilir?

A) Madenciliği
B) Hayvancılığı
C) Tarımsal üretimi
D) Ticaret faaliyetlerini
E) Avcılık ve toplayıcılığı

11. Aşağıdaki Türk-İslam devletlerinden hangisi kurulduğu yerin ismini almıştır?

A) Selçuklular
B) Gazneliler
C) Tolunoğulları
D) İhşitler
E) Memlükler

12. Karahanlılar hangi hükümdarlarının döneminde İslamiyet'i resmî din olarak kabul etmiştir?

A) Ebu Nasr Ahmet
B) Bilge Kül Kadir Han
C) Satuk Buğra Han
D) Tamgaç Buğra Han
E) Ahmet Arslan

13. Şii Fatimi Devleti'ne son veren ..... Devleti 1187'de ..... Savaşı ile ..... şehrini Haçlılardan geri alarak III. Haçlı Seferi'ne neden olmuşlardır.

Yukarıdaki boşluklara sırasıyla aşağıdakilerden hangisi getirilmelidir?

A) Eyyubiler – Hıttin – Kudüs
B) Memlükler – Dandanakan – Kudüs
C) Tolunoğulları – Yassıçemen – Urfa
D) Tolunoğulları – Pasinler – Kahire
E) Eyyubiler – Hıttin – Urfa

14. Aşağıdakilerden hangisi Gazneli Mahmut'un Hindistan'a düzenlemiş olduğu seferlerin kültürel sonuçlarından biridir?

A) Gaznelilerin sınırları genişlemiştir.
B) Gaznelilerin vergi gelirleri artmıştır.
C) Gaznelilerin ordu yapılanmasında değişiklikler olmuştur.
D) Hindistan'da İslamiyet yayılmaya başlamıştır.
E) Gazneliler, Hindistan'da tampon bölge kurmuştur.

15. Abbasilerden ayrılarak kurulan Tolunoğulları, kısa bir süre sonra taht kavgaları yaşanınca yeniden Abbasi egemenliğine girmiştir.

Bu bilgilerde Tolunoğulları Devleti'nin uzun ömürlü olamamasında etkili olan nedenlerden hangisine değinilmiştir?

A) Tolunoğlu Ahmet'in vefat etmesine
B) Yöneticilerin Türk, halkın Arap olmasına
C) Siyasi istikrarın korunamamasına
D) Ekonomik sorunların yaşanmasına
E) Güçlü ordular oluşturulamamasına

16. Mısır'da kurulan Türk-İslam Devletleri arasında aşağıdakilerden hangisi yoktur?

A) Tolunoğulları
B) İhşidiler
C) Eyyubiler
D) Memlükler
E) Fâtımiler

Prf Yayınları
PRF YAYINLARI

1. **Tarih öncesi dönemlerde insanların yerleşik hayata geçmesinin ardından aşağıdakilerden hangisinin ortaya çıkmış olması beklenemez?**

A) İnsanların tarımla uğraşması
B) Kanunların yazılı hâle getirilmesi
C) Üretim fazlası ticaretin başlaması
D) Avcılık ve toplayıcılığın önemini yitirmesi
E) İlkel tarım aletlerin yapılmaya başlanması

2. Tarih dersinde Volkan Öğretmen öğrencilerine tarihe yardımcı bilimler ile alanlarını sormuştur.

Öğrencilerden;

I. Ali : Heraldik – Arma Bilimi
II. Mustafa : Antropoloji – Irk Bilimi
III. Kerem : Filoloji – Yazı Bilimi
IV. Ayşegül : Paleografi – Dil bilimi

olarak cevaplamıştır.

Volkan Öğretmenin sorusuna aşağıdaki öğrencilerden hangileri yanlış cevap vermiştir?

A) Kerem – Ayşegül
B) Ali – Mustafa
C) Kerem – Mustafa
D) Ali – Ayşegül
E) Kerem – Ali

3. Tarih boyunca toplumlar farklı takvimler kullanmışlardır. İlk ve Orta Çağda Çinlilerin, Türklerin, Arapların, Romalıların, Hristiyanların ve Müslümanların kullandığı takvimler birbirinden farklı olmuştur. Günümüzde ise tüm dünyada ortak bir takvimin kullanılmasına özen gösterilmekte, bu durum bir ihtiyaç olarak kabul edilmektedir.

Bu durumun ortaya çıkmasında,

I. toplumlar arasında siyasi, sosyal ve ekonomik ilişkilerin gelişmesi,
II. eski toplumların kullandığı takvimlerin başlangıç tarihlerinin birbirinden farklı olması,
III. astronomi biliminde önemli ilerlemelerin yaşanması

gelişmelerinden hangilerinin doğrudan etkili olduğu söylenebilir?

A) Yalnız I B) Yalnız II C) Yalnız III
D) I ve II E) II ve III

4. "Tarih yazmak, tarih yapmak kadar mühimdir, yazan yapana sadık kalmazsa, değişmeyen hakikat insanlığı şaşırtacak bir mahiyet alır."

Atatürk'ün yukarıdaki sözüyle tarih araştırmalarında uygulanan,

I. olayların gerçeğe uygun olarak ele alınması,
II. tarih yazımında tarafsızlığın korunması,
III. olayların araştırılmasında farklı kaynaklardan yararlanılması

durumlarından hangilerinin önemini vurguladığı savunulabilir?

A) Yalnız I B) Yalnız II C) I ve II
D) I ve III E) I, II ve III

5. **Roma İmparatorluğu'nda;**

- On İki Levha Kanunlarının hazırlanması,
- Hristiyanlığın resmî din olarak kabul edilmesi,
- lejyonerlik sistemin uygulanması,
- yol, köprü ve su kanallarının yapılması

gelişmeleri dikkate alındığında aşağıdaki alanlardan hangisinde faaliyet yapıldığından söz edilemez?

A) Askerî B) Ulaşım C) Hukuk
D) Eğitim E) Tarım

6. **İlk Çağ uygarlıklarında kültürel etkileşimi hızlandıran gelişmeler arasında aşağıdakilerden hangisi gösterilemez?**

A) Yazının icat edilmesi
B) Anadolu'da Karum pazarlarının kurulması
C) Kral Yolu'nun yapılması
D) Kolonicilik faaliyetlerinin yapılması
E) Monarşik teokrasilerin görülmesi

7. Tarih öncesi dönemin sonlarına doğru insanlar bakır, tunç, demir gibi madenleri kullanmaya başlamışlardır.

Bu durum aşağıdaki gelişmelerin hangisi üzerinde etkili olduğu söylenemez?

A) Dayanıklı silahların yapılması
B) Tarımsal faaliyetlerin daha kolay yapılması
C) Ateşin kullanılmaya başlanması
D) İnsanların bilgi birikimlerinin artması
E) Taş devirlerinin sona ermesi

Prf Yayınları
PRF YAYINLARI

8. **Önceleri çok tanrılı bir dini inancı benimseyen Roma İmparatorluğu aşağıdakilerden hangisi ile Hristiyanlığı resmen kabul etmişlerdir?**

A) Anotolios Antlaşması
B) Margos Antlaşması
C) Milano Fermanı
D) On İki Levha Kanunları
E) Kadeş Antlaşması

9. Anadolu'ya egemen olan Persler ve Romalılar eski ticaret yollarını onarmışlar ve yeni yollar yapmışlardır. İhtiyaç duydukları tarım ve dokuma ürünlerini ülkelerine götürmüşlerdir.

Bu durum Persler ve Romalılar ile ilgili aşağıdakilerden hangisinin göstergesidir?

A) Anadolu sanatından etkilendiklerinin
B) Birbirleriyle sürekli mücadele ettiklerinin
C) Sınırlarını güvenlik altına almayı amaçladıklarının
D) Anadolu'nun ekonomik imkanlarından faydalanmak istediklerinin
E) Merkezi otoritelerinin sarsıldığının

10. Dünya tarihinde ilk defa kanun yapan ve yazıya geçiren Sümerler olmuştur. Sümerler ticaret, evlenme, boşanma ve miras gibi konuları kanunlarla düzenlemişlerdir.

Aşağıdakilerden hangisi bu durumun sonuçları arasında gösterilemez?

A) Hukuk devleti anlayışının güçlenmesi
B) Siyasi birliğin sağlanması
C) Aynı suça aynı cezanın verilmesi
D) Anlaşmazlıkların çözümünün kolaylaşması
E) Temel hakların devlet güvencesi altına alınması

11. **Aşağıdakilerden hangisi, Hindistan'da kast sisteminin uygulanması sonuçları arasında gösterilemez?**

A) Millet kavramının gelişmemesi
B) Toplumsal eşitliğin sağlanamaması
C) Hukuk devleti anlayışının gelişmemesi
D) Sınıflı bir toplum yapısının yaşanması
E) Brahmanizm inancının ortaya çıkması

12. **Roma İmparatorluğu'nda,**

I. krallık,
II. cumhuriyet,
III. imparatorluk

dönemleri aşağıdakilerin hangisinde verilen sıraya göre yaşanmıştır?

A) I, II, III
B) I, III, II
C) II, I, III
D) II, III, I
E) III, I, II

13.

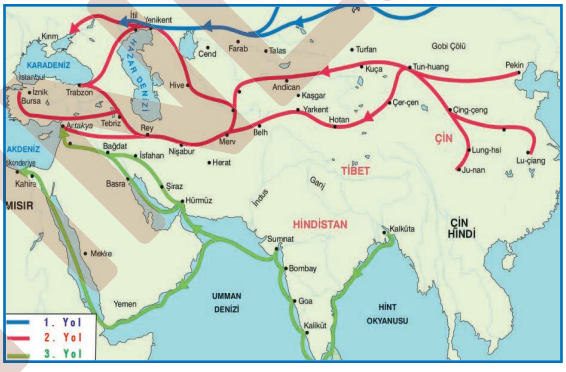

Haritada verilen ticaret yolları aşağıdaki seçeneklerin hangisinde doğru gruplanmıştır?

	1. Yol	2. Yol	3. Yol
A)	Kral Yolu	İpek Yolu	Baharat Yolu
B)	İpek Yolu	Baharat Yolu	Kürk Yolu
C)	Kürk Yolu	İpek Yolu	Baharat Yolu
D)	Kral Yolu	Kürk Yolu	İpek Yolu
E)	Kürk Yolu	Baharat Yolu	Kral Yolu

14. **Orta Asya Türk kültürüyle ilgili aşağıda verilen bilgilerden hangisi yanlıştır?**

A) Hazarlar, Museviliği benimseyen tek Türk devleti olup ülkesinde farklı dinleri barındırmışlardır.
B) Peçenekler, Bizans ordusu için paralı asker olmuşlardır.
C) Oğuzlar, X. yüzyılda Oğuz Yabgu Devleti'ni kurmuşlardır.
D) Avarlar hem Asya, hem de Avrupa'da devlet kurmuşlardır.
E) Hunlarda din adamları devlet yönetiminde en etkin güçtür.

Prf Yayınları
PRF YAYINLARI

ÜNİTE ÖLÇME TESTİ

Test - 1

1. Türkler, İslamiyet'i kabul ettikten sonra ay yılı esasına göre düzenlenen hicri takvimi kullanmaya başlamışlardır. Ancak Büyük Selçuklular ve Osmanlılar bu takvimin yanı sıra güneş yılı esasına göre düzenlenen takvimler de (Celali - Rumi) kullanma gereği duymuşlardır.

Selçuklu ve Osmanlı devletlerinin güneş yılı esaslı takvim kullanmalarında,

I. dinî,
II. mali,
III. siyasi

alanların hangilerinde karşılaştıkları sorunları çözme düşüncesi etkili olmuştur?

A) Yalnız I B) Yalnız II C) Yalnız III
D) I ve II E) I ve III

2. **Bir toplumda tarih bilincinin güçlü olmasının,**

I. millî hafızanın canlı tutulması,
II. millî birlik ve beraberliğin güçlenmesi,
III. milletin aynı duygular etrafında birleşmesi

kazanımlarından hangilerine katkı sağladığı ileri sürülebilir?

A) Yalnız I B) Yalnız II C) Yalnız III
D) I ve II E) I, II ve III

3. Tarihçiler, yakın zamana kadar ilk tapınakların tarımla uğraşan yerleşik toplumlar tarafından yapıldığını kabul ediyordu. Oysa 1995 yılında başlayan arkeolojik kazılar sonunda Şanlıurfa ilimiz yakınlarındaki Göbeklitepe'de göçebe toplumlar tarafından yapılmış dünyanın en eski tapınağı bulunmuştur. Böylece ilk tapınağın yerleşik toplumlar tarafından yapıldığı şeklindeki tarih görüşü değişmiştir.

Bu bilgiyle,

I. Tarihî olayları yorumlamak hatalı yargılara neden olur.
II. Tarihî gerçekler ancak gözlemleyerek ortaya çıkarılabilir.
III. Araştırmalar sonucunda ortaya çıkan yeni belge ve kanıtlar tarihin yeniden değerlendirilmesini gerektirir.

yargılarından hangilerine ulaşılabilir?

A) Yalnız I B) Yalnız II C) Yalnız III
D) I ve II E) I ve III

4. Tarihî olayın geçtiği döneme ait her türlü bulguya birinci elden kaynak denir.

Buna göre aşağıdakilerden hangisinin Tarih öncesi dönemler için birinci elden kaynak olduğu söylenebilir?

A) Seyahatnamelerin
B) Paraların
C) Kitabelerin
D) Arkeolojik buluntuların
E) Antlaşmaların

5. Anadolu uygarlıklarından Hititlerle ilgili araştırma yapan Zeynep'e şu aşamaları takip etmesi önerilmiştir:

1. **Tarama** (Kaynak arama): Hititlerle ilgili bilgilere ve kaynaklara ulaşmalısın.
2. **Tasnif** (Sınıflandırma): Ulaştığın kaynakları belirli bir sistem içerisinde zamana, mekana ve konuya göre sınıflandırmalısın.
3. **Tahlil** (Çözümleme): Kaynaklardan elde ettiğin bilgileri ortaya çıkararak yeterli olup olmadığını kontrol etmelisin.
4. **Terkip** (Sentez): Topladığın verileri birleştirerek metin hâline getirmelisin.
5. **Tenkit** (Eleştirme): Topladığı verilerin güvenilir olup olmadığını tespit etmeli, belgelerin orijinalliğini araştırmalısın.

Zeynep'in yapılan önerideki sıralamanın doğru olması için kaç numaralı aşamaların yeri değiştirilmelidir?

A) 1 ve 2 B) 2 ve 3 C) 2 ve 4
D) 3 ve 4 E) 4 ve 5

6. **Paleografya, aşağıdaki sorulardan hangisinin yanıtlanmasında tarih bilimine yardımcı olur?**

A) İklim koşulları insan topluluklarının göçlerini nasıl etkilemiştir?
B) Çivi yazısı, hiyeroglif ve harf yazısının icadı ve gelişimi nasıl olmuştur?
C) İpek Yolu'nun devletler arası ilişkiler ve kültürler arasında etkileşimdeki rolü nedir?
D) Türklerin İslamiyet'i kabul etme sürecine etki eden faktörler nelerdir?
E) Margos ve Anatolios Antlaşmalarının Türk siyasetindeki önemi nedir?

Prf Yayınları
PRF YAYINLARI

7. Yazıdan önceki dönemin aydınlatılabilmesi için en önemli unsur arkeolojik araştırmalar sonucunda elde edilen araç ve gereçlerdir. Bu buluntulardan elde edilen bilgiler, yazıdan önceki dönemin doğru okunabilmesinde oldukça önemlidir.

Aşağıdakilerden hangisi yazıdan önceki dönemin aydınlatılmasını sağlayacak arkeolojik buluntulardan biri olamaz?

A) Kerpiçten ilkel konutlar
B) Taştan ve kemikten aletler
C) Mağara duvarlarına çizilmiş resimler
D) Asurlara ait ticari tabletler
E) Seramikten yapılmış çanak ve çömlekler

8. Mısır'da Nil Nehri etrafında verimli ovaların oluşması Mısır'ın temel geçim kaynağının tarım olmasını sağlamıştır. Mezopotamya'da Dicle ve Fırat nehirlerinin suladığı verimli toprakların sağladığı zenginlik bölgenin uygarlık merkezi olmasını sağlamıştır. Geniş bozkırlardan oluşan Orta Asya'da yaşayan Türklerde temel geçim kaynağı hayvancılıktır.

Aşağıdakilerden hangisi bu bilgilerden çıkarılabilecek en genel yargıdır?

A) Tarım toplumları arasındaki rekabet uygarlığın gelişmesini sağlamıştır.
B) Mısır, Mezopotamya ve Orta Asya arasında kültürel etkileşim yaşanmıştır.
C) Medeniyetlerin ekonomik yaşamında coğrafya belirleyici bir unsurdur.
D) Mısır, Mezopotamya ve Orta Asya toplumları benzer ihtiyaçlara sahiptir.
E) Uygarlığın gelişmesi farklı toplumların katkıları ile olmuştur.

9. **Neolitik (Yeni Taş) Çağı ile Paleolitik (Eski Taş) Çağı arasında aşağıdakilerden hangisinin ayırt edici bir özellik olduğu savunulamaz?**

A) Ateşin kullanılması
B) Tarımın yapılması
C) Hayvanların evcilleştirilmesi
D) Bitki liflerinden kumaş dokunması
E) Köylerin kurulması

10. **Yazıdan önceki dönemlere ait bir yerleşim yerinde yapılacak kazılarda burada yaşayan insanlarla ilgili aşağıdakilerden hangisi hakkında bilgi edinme ihtimali daha zordur?**

A) Yönetim şekilleri
B) Üretim yapıp yapmadıkları
C) Geçim kaynakları
D) Kullandıkları araç gereçler
E) Gelişmişlik düzeyleri

11. **Aşağıdakilerden hangisi, Mezopotamya uygarlıkları ile ilgili bir kavram değildir?**

A) Tapetes B) Midas C) Patesi D) Ziggurat E) Lagaş

12. **Helenistik Dönem'de yaşanan aşağıdaki gelişmelerden hangisi pozitif bilimlerin geliştiğine kanıt olarak gösterilemez?**

A) Matematikte Arşimet, coğrafyada Batlamyus'un yetişmesi
B) İskenderiye ve Antakya akademilerinin kurulması
C) Mısır'da, İskenderiye Kütüphanesi'nin yapılması
D) Asklepion Sağlık Merkezi'nin kurulması
E) Tanrıların insan şeklinde tasvir edilmesi

13. I. İbraniler
II. Yunanlar
III. Romalılar

Yukarıdaki medeniyetlerden hangileri miladi takvimin oluşumuna katkıda bulunmuştur?

A) Yalnız I B) Yalnız II C) I ve II D) II ve III E) I, II ve III

Prf Yayınları
PRF YAYINLARI

ÖZEL TEST (İLERİ DÜZEY SORULAR) Test - 1

1. Aşağıda İlk Çağ uygarlıkları ile ilgili kavramların yer aldığı bir tablo verilmiştir:

Anal	Firavun	12 Levha Kanunları
Ziggurat	Nom	Pankuş

Tabloda hangi uygarlığa ilişkin kavrama yer verilmemiştir?

A) Frigler
B) Mısırlılar
C) Romalılar
D) Sümerler
E) Hititler

2. **Tarihsel empatinin, insanlara,**

I. geçmişi anlama becerisinin artması,
II. araştırma ve kanıt kullanma becerisinin gelişmesi,
III. geçmişte yaşamış insanların değer yargılarının, olaylara ve dünyaya nasıl baktıklarının anlaşılması

durumlarından hangileri ile ilgili yarar sağladığı savunulabilir?

A) Yalnız I B) Yalnız II C) Yalnız III
D) I ve III E) II ve III

3. Tarihî olayların başlangıcı ve bitişi belli iken tarihî olgular soyuttur, geneldir ve süreklilik gösterir.

Buna göre aşağıdakilerden hangisi tarihî olgudan çok tarihî bir olay olarak değerlendirilebilir?

A) İslamlaşma
B) Kültürel değişim
C) Demokratikleşme
D) Çağdaşlaşma
E) İkili antlaşma

4. Hititlerin başkenti Hattuşa'da tarihte bilinen ilk yazılı antlaşma olan Kadeş Antlaşması ile ilgili metin bulunmuştur.

Bu metnin incelenmesinde,

I. nümizmatik,
II. diplomasi,
III. paleografya

bilimlerinin hangilerinden yararlanıldığı söylenebilir?

A) Yalnız I B) Yalnız II C) I ve II
D) I ve III E) II ve III

5. I. Avcılık ve besin toplayıcılığı
II. Konar-göçer yaşam tarzı
III. Yerleşik yaşam biçimi
IV. Tek Tanrı inancı

Yukarıdakilerden hangileri arasında neden - sonuç ilişkisi kurulabilir?

	Neden	Sonuç
A)	I	II
B)	II	III
C)	III	I
D)	IV	II
E)	IV	III

6.
- İlk güneş yılı esaslı takvimi hazırladılar.
- Tek tanrılı semavi din inancını benimsemişlerdir.
- Bugünkü Latin alfabesinin temeli sayılan alfabeyi icat etmişlerdir.
- Aristokratik yönetim anlayışını polis adı verilen şehir devletlerinde uygulamışlardır.

Yukarıda verilen bilgiler aşağıdaki uygarlıklarla eşleştirildiğinde hangi medeniyet açıkta kalır?

A) Fenike B) Babil C) Yunan
D) Mısır E) İbrani

Prf Yayınları
PRF YAYINLARI

7. **Tarih öncesi dönemlerde toplumlar arasında kültürel etkileşimin yaşanmasında, aşağıdakilerden hangisinin daha az etkili olduğu söylenebilir?**

A) Göçlerin B) Savaşların C) İstilaların
D) Avcılık ve toplayıcılığın E) Ticaretin

8. Hititlerin siyasi tarihindeki en önemli olay Kuzey Suriye bölgesi için Mısırlılarla yapılan savaş sonucunda MÖ 1280 yılında imzalanan ve dünyanın bilinen ilk yazılı antlaşması kabul edilen Kadeş Antlaşması'dır.

Bu bilgilere dayanarak Hitit ve Mısır uygarlıklarıyla ilgili olarak,

I. Tarih çağlarına girmişlerdir.
II. Diplomatik ilişkileri belgelemişlerdir.
III. Eski güçlerini kaybetmişlerdir.

yorumlarından hangilerine ulaşılabilir?

A) Yalnız I B) Yalnız II C) I ve II
D) I ve III E) II ve III

9. Babil Kralı Hammurabi, rahiplerin egemenliğini sınırlayan ve toplumsal yaşayışı düzenleyen kanunlar yapmıştır.

Aşağıdakilerden hangisi doğrudan bu durumun sonuçları arasında gösterilebilir?

A) Ticaretin gelişmesi
B) Komşu ülkelerle ilişkilerin gelişmesi
C) Hammurabi'nin iktidarını güçlendirmesi
D) Devletin en parlak dönemini yaşaması
E) Bilim ve sanat faaliyetlerinin gelişmesi

10. **Genellikle aynı esnaf grubuna ait dükkânların bir sokak üzerinde karşılıklı sıralanması ile meydana gelen ticaret merkezi aşağıdakilerden hangisidir?**

A) Panayır B) Ribat
C) Kervansaray D) Arasta
E) Agora

11. I. Kalkolitik
II. Paleolitik
III. Mezolitik
IV. Neolitik

Yukarıdaki dönemlerin kronolojik sıralaması aşağıdakilerin hangisinde doğru olarak verilmiştir?

A) I, II, III, IV B) II, III, IV, I C) III, I, II, IV
D) III, IV, II, I E) IV, III, II, I

12. **Konar-göçer ordu için kullanılan** "Ordu, ayağa kalkmış bir halk, yürüyen bir ulustur. Bu ordularda kadınlar da gerektiğinde savaşa katılırdı." **ifadesi aşağıdakilerden hangisini gösterir?**

A) Paralı askerlik anlayışının benimsendiğini
B) Konar-göçer ordusunun dağınık bir kalabalık olduğunu
C) Ordunun tamamının atlı birliklerden oluştuğunu
D) Eli silah tutan herkesin asker kabul edildiğini
E) Konar-göçerlerin komşu devletlerle sürekli savaş hâlinde olduğunu

13. **Aşağıdakilerden hangisinin Roma İmparatorluğu'nu olumsuz yönde etkilediği savunulabilir?**

A) Haçlı Seferlerinin
B) Nihavend Savaşı'nın
C) Miryokefalon Savaşı'nın
D) Coğrafi Keşiflerin
E) Kavimler Göçü'nün

14. Orta Çağ'da krallar, meclislerinde kontlarla piskoposlara danışarak karar almıştır. Kontlar, imparatorun tebaasını ruhban sınıfına itaate zorlamış, piskoposlar da halkı kontların yerel iktidarına tabi olmaya çağırmıştır. Ruhban ile soylular arasındaki birlikte yaşama geleneği, zaman içinde kökleşmiştir.

Bu durumun,

I. feodalizm,
II. dogmatizm,
III. liberalizm

kavramlarından hangilerinin Orta Çağ boyunca Avrupa'da egemen olmasını kolaylaştırdığı savunulabilir?

A) Yalnız I B) Yalnız III C) I ve II
D) I ve III E) II ve III

Prf Yayınları
PRF YAYINLARI

ÖZEL TESTİN ÇÖZÜMLERİ - 1

ÇÖZÜM

1. **Anal:** Hititlerin Tanrılarına hesap vermek için tutturdukları, yıllık.

Ziggurat: Sümer tapınaklarına verilen isim.

Firavun: Mısır'da tanrı-kral olarak kabul edilen hükümdarlara verilen unvan.

Nom: Mısır'da şehir devletlerine verilen isim.

On İki Levha Kanunları: Roma halkının görev ve sorumlulukları, halk arasındaki ilişkiler gibi pek çok konuya açıklık getiren ve bugünkü Avrupa ülkelerinde uygulanan hukuk sisteminin temelini oluşturan yasalar.

Pankuş: Hititlerde devlet işlerinde krala yardımcı olan, danışmanlık yapan meclis.

Tabloda Friglerle ilgili bir kavram verilmemiştir.

Cevap A

ÇÖZÜM

2. Empati en basit ifadeyle, kişinin kendini başka birinin yerine koyabilmesini ifade eden bir kavramdır. Tarihsel empati ile geçmişte yaşamış insanların değer yargıları, olaylara ve dünyaya nasıl baktıkları, ne hissettikleri anlaşılabilir. Bu yönüyle tarihsel empati insanların geçmişi anlama becerisini artırır.

Tarihî bir bilgiye araştırma yaparak ve kaynak kullanılarak ulaşılır. Ulaşılan farklı kaynaklarda tespit edilen çelişkili ifadeler, insanların sorgulama ve eleştirel düşünme becerilerini de geliştirir. Bu durum tarihsel empatiden çok tarih biliminin insanlarda araştırma ve kanıt kullanma becerisinin geliştirmesiyle ilişkili bir durumdur.

Cevap D

ÇÖZÜM

3. Tarihî olaylar; kendine has özelliklere sahiptir, somut bilgiler içerir, yer ve zaman bildirir. Olayların başlangıç ve bitiş süreleri de bellidir. Tarihî olgular ise geneldir, süreklilik gösterir, soyuttur. Tarihî olay biriciktir, özgündür, tekrarlanamaz tarihî olgu ise geneldir ve tekrar edebilir.

Bu açıklamalar ışığında A) İslamlaşma, B) Kültürel değişim, C) Demokratikleşme ve D) Çağdaşlaşma kavramları tarihî olgulardır. E) İkili antlaşma ise iki devlet arasında belirli bir tarihte, belirli süreliğine imzalandığından tarihî bir olaydır.

Cevap E

ÇÖZÜM

4. **Nümizmatik:** Tarih içerisinde basılan paraları inceleyen bilim.

Diplomasi: Siyasi belgelerin cins, şekil ve içerik olarak değerlendirmesini yapan bilim.

Paleografya: Yazıları, alfabeleri ve bunların zaman içerisindeki değişimlerini inceleyen bilim.

Kadeş Antlaşması uluslararası bir antlaşma olması yönüyle siyasi bir belgedir. Bu nedenle antlaşmanın incelenmesi sırasında diplomasi biliminden yararlanılır. Kadeş tabletleri çivi ve hiyeroglif yazılarla yazılmıştır. Bu yazıların çözülmesinde paleografya biliminden yararlanılır.

Cevap E

ÇÖZÜM

5. İlk insanların hayat tarzı avcılık ve besin toplayıcılığı şeklinde başlamıştır. Hayat tarzına bağlı olarak beslenme biçimi gelişen insanoğlu, besin kaynakları bulabilmek için yer değiştirmek zorunda kalmıştır. Bu yaşam biçimi uzun süre devam etmiş ve zamanla etin yanında çeşitli yabani meyveler ve bitkiler de insanın yiyecek türleri arasına girmiştir. Dolayısıyla avcılık ve toplayıcılık faaliyetleri insanların konar-göçer yaşamalarına etki etmiştir.

Yerleşik yaşam biçimi tarımsal üretim sürecinde ortaya çıkmıştır. İnanç sistemlerinin şekillenmesi yerleşme ile doğrudan ilgili değildir.

Cevap A

ÇÖZÜM

6.
- Mısırlılar, ilk güneş yılı esaslı takvimi hazırladılar.
- İbraniler, tek tanrılı semavi din inancını benimsemişlerdir.
- Fenikeliler, bugünkü Latin alfabesinin temeli sayılan alfabeyi icat etmişlerdir.
- Yunanlılar, aristokratik yönetim anlayışını polis adı verilen şehir devletlerinde uygulamışlardır.

Sorunun öncülünde Babillere ait bir özellik verilmemiştir.

Cevap B

Prf Yayınları
PRF YAYINLARI

ÇÖZÜM

7. İnsan toplulukları arasında etkileşim yaşanması için toplulukların karşı karşıya gelmesine neden olacak önemli gelişmeler yaşanması gerekir. Göç, savaş, istila ve ticaret faaliyetleri bu tür önemli gelişmelerdendir. Bu olaylar toplumlar ve uygarlıklar arasında etkileşimin yaşanmasını sağlamışlardır.

Avcılık ve toplayıcılık faaliyetleri daha çok insanların beslenme ihtiyaçlarını karşılamak amacıyla yaptıkları uğraşlar olduğundan kültürel etkileşimde diğerleri kadar öne çıkmamıştır.

Cevap D

ÇÖZÜM

8. Hitit ve Mısırlıların Kadeş Antlaşması'nı imzalamaları yazıyı kullandıklarını dolayısıyla tarih çağlarına girdiklerini gösterir. Bu antlaşma aynı zamanda iki devletin diplomatik ilişkileri belgelediklerinin de kanıtıdır.

Sorunun paragrafında iki devletin güç kaybedip etmediklerini gösteren bir bilgi verilmediğinden III. yoruma ulaşılamaz.

Cevap C

ÇÖZÜM

9. Hammurabi'nin, hazırladığı kanunlarla rahiplerin egemenliğini sınırlaması ve toplumsal yaşayışı düzenlemesi öncelikle iktidarını daha güçlü hâle getirici etkiye sahiptir.

Cevap C

ÇÖZÜM

10. **Panayır:** Günümüzdeki fuarlara benzeyen ticari etkinliklerin yapıldığı yerler.

Ribat: İslamiyet'in ilk dönemlerinde daha çok askerî amaçlı inşa edilerek karakol veya ordugâh olarak kullanılan, XI. yüzyıldan sonra sınırların genişlemesiyle birlikte iç bölgelerde kaldıklarından işlev değiştirerek ticari konaklama amacıyla kullanılan yapılar.

Kervansaray: Türk-İslam devletlerinde yollar üzerinde kurulan ve halk yararına çalışan ticari yapılar.

Arasta: Genellikle aynı esnaf grubuna ait dükkânların bir sokak üzerinde sıralanması ile meydana gelen ticari mekan.

Agora: Antik Yunan kentlerinde, şehirle ilgili politik, dinî, ticari faaliyetin gerçekleştiği, kamu binalarının etrafında sıralandığı halka ait geniş açık mekanlara verilen isim.

Cevap D

ÇÖZÜM

11. Tarih öncesi dönemleri sırasıyla yaşayan toplumlar sorunun öncülünde verilen dönemleri aşağıdaki tabloda verilen sıraya uygun yaşamışlardır.

Paleolitik (II)	Mezolitik (III)	Neolitik (IV)	Kalkolitik (I)
Eski Taş Çağı	Orta Taş Çağı	Yeni Taş Çağı	Bakır Taş Çağı

Cevap B

ÇÖZÜM

12. Sorunun paragrafında geçen "Ordu, ayağa kalkmış bir halk, yürüyen bir ulustur. Bu ordularda kadınlar da gerektiğinde savaşa katılırdı." sözü ordu millet anlayışını ifade eder. Türkler gibi ordu millet anlayışını benimseyen topluluklarda eli silah tutan herkes asker kabul edilir.

Cevap D

ÇÖZÜM

13. Hunların Avrupa'ya girmesiyle başlayan Kavimler Göçü (375) sırasında Roma İmparatorluğu kendi sınırlarını koruyacak durumda değildi. Bu göç dalgasına karşı koyamayan İmparatorluk, 395 yılında Roma merkezli Batı Roma ve İstanbul merkezli Doğu Roma (Bizans) olmak üzere ikiye ayrıldı. Batı Roma İmparatorluğu, 476 yılında yıkıldı.

Cevap E

ÇÖZÜM

14. **Feodalizm:** Orta Çağ Avrupası'nda siyasi yapıyı şekillendiren sistemdir. Bu sisteme göre siyasi güç; krala ait olup kral, siyasi otoritesini mutlak sadakat koşuluyla derebeyleriyle paylaşmıştır.

Dogmatizm: Düşüncenin bağımsızlığını ve özgürlüğünü sınırlayan ya da ortadan kaldıran her türlü katı düşünme biçimine dogmatizm denir. Orta Çağ'da Katolik Kilisesinin etkisiyle dogmatizm yönetim ve toplum hayatını etkilemiştir.

Liberalizm: Özgürlük, serbestlik anlamlarına gelen liberalizm, insanların özgürlüğünü savunan bir düşünce sistemidir. Tarihsel kökeni XVII. yüzyılın başlarına kadar gider.

Orta Çağ'da kralların, feodal düzenin parçası kontlar ve kilisenin temsilcisi piskoposlara danışarak karar alması feodalizm ve dogmatizmi güçlendirmiştir.

Cevap C

Prf Yayınları
PRF YAYINLARI

1.

Yukarıdaki haritada XI. yüzyıl sonlarında Anadolu'nun siyasi durumu gösterilmiştir.

Haritaya bakılarak aşağıdakilerden hangisine ulaşılamaz?

A) Türkler Anadolu'nun değişik yerlerinde hâkimiyet alanları oluşturmuştur.

B) Türkiye Selçuklularının etkinlik alanı Marmara bölgesinden Akdeniz'e kadar uzanmaktadır.

C) Türkler ağırlıklı olarak Doğu Anadolu ve İç Anadolu'da etkili olmuşlardır.

D) Bizans İmparatorluğu Anadolu'daki bütün topraklarını kaybetmiştir.

E) Anadolu'da Türk siyasi birliği henüz kurulamamıştır.

2. **Anadolu Selçuklularının Kuruluş Dönemi'nde sınırlarını doğu yönünde genişletmesi, aşağıdaki devletlerden hangisinin tepkisini çekmiştir?**

A) Gazneliler B) Karahanlılar

C) Büyük Selçuklular D) Tolunoğulları

E) Hazarlar

3. XI. yüzyılda Doğu Anadolu'da yaşayan Ermeni ve Süryaniler ile Orta Anadolu'da yaşayan halk, Bizans'ın ağır vergiler alması ve adaletsiz idaresi nedeniyle Türklere karşı Bizans İmparatorluğu'nun yanında yer almamıştır. Bu yüzden Bizans XI. yüzyıl başlarında Doğu Anadolu'daki Ermeni prensliklerini yıkıp buradaki halkı kitleler hâlinde Orta Anadolu'ya sürmüştür. Bizans'ın Ortodoks mezhebini bu milletlere dayatması, halkı Bizanslılardan daha da uzaklaştırmıştır.

Bu bilgilere göre Bizans'ın Anadolu'da yaşayan topluluklara hangi alanda baskı yaptığı savunulamaz?

A) Dinî B) Sosyal

C) Siyasi D) Ekonomik

E) Eğitim

4. 40 parçalık donanmasıyla Midilli, Sakız, Sisam ve Rodos gibi stratejik öneme sahip adaları fetheden Çaka Beyliği'nin kuruluş tarihi olan 1081 yılı Türk Deniz Kuvvetlerinin kuruluş yılı olarak da kabul edilmektedir.

Bu durum Çaka Beyliğinin,

I. Bizans'ı tehdit etmesi,

II. ilk Türk denizci beyliği olması,

III. Türkiye Selçuklular ile ilişkileri geliştirmesi

durumlarından hangileriyle açıklanabilir?

A) Yalnız I B) Yalnız II C) Yalnız III

D) I ve II E) II ve III

5. Malazgirt Savaşı'ndan sonra Türklerin Anadolu'yu fethederek Bizans'ı tehdit etmesi Haçlı Seferlerinin başlamasında etkili olmuştur.

Yalnızca bu bilgiye dayanarak,

I. Türklerin batıya doğru ilerlemeleri,

II. İslam dünyasının bilimsel alanda Avrupa'dan ileri olması,

III. ham madde kaynaklarının Müslümanların elinde olması

gelişmelerinden hangilerinin Haçlı Seferlerinin nedenleri arasında olduğunu gösterir?

A) Yalnız I B) Yalnız II C) Yalnız III

D) I ve II E) II ve III

6. Anadolu, VI ve VII. yüzyıllarda Sasani ile Bizans imparatorlukları arasında mücadelelere sahne olmuş, bu mücadeleler Anadolu coğrafyası için zamanla tam bir yıkım oluşturmuştur. Daha sonra başlayan Bizans-Müslüman mücadeleleri de Anadolu'daki şehir ve kasabaları harabeye çevirmiş, bölgede nüfus oldukça seyrelmiştir.

Bu bilgilere dayanarak,

I. Yapılan mücadeleler Anadolu'nun sosyal yaşamını olumsuz etkilemiştir.

II. Anadolu, farklı millet ve inançtan toplumların güç mücadelesine sahne olmuştur.

III. Anadolu'da yapılan egemenlik mücadelesinden Bizans üstün çıkmıştır.

yargılarından hangilerine ulaşılamaz?

A) Yalnız I B) Yalnız II C) Yalnız III

D) I ve II E) I ve III

Prf Yayınları
PRF YAYINLARI

7. **Büyük Selçuklular Dönemi'nde Oğuzların Anadolu'ya göç etmesinde aşağıdakilerden hangisinin etkisinden söz edilemez?**

A) Tuğrul Bey'den itibaren devlet politikası olarak göçlerin teşvik edilmesi
B) Büyük Selçukluların Pasinler ve Malazgirt Savaşlarında Bizanslıları yenilgiye uğratması
C) Anadolu'nun coğrafi koşulları, iklimi ve yeryüzü şekilleriyle Türklerin konargöçer yaşayışlarına uygun olması
D) Selçuklu topraklarının Moğol istilasına uğraması
E) Horasan ve Maveraünnehir bölgesinde Oğuzlar üzerinde baskıların artması

8.
- Selçuklu komutanı Ahmet Gazi tarafından kurulmuştur.
- Merkezi Sivas'tır.
- Haçlılara karşı mücadele etmiştir.

Yukarıda bazı özellikleri verilen Türk beyliği aşağıdakilerden hangisidir?

A) Danişmentliler B) Saltuklular
C) Mengücekliler D) Artuklular
E) Çaka Beyliği

9.
- Malazgirt Savaşı sonrasında Erzurum merkez olmak üzere kurulmuştur.
- Haçlılara karşı başarılı mücadele vermiştir.
- Gürcülerle savaşmıştır.

Yukarıda bazı özellikleri verilen Türk beyliği aşağıdakilerden hangisidir?

A) Hamitoğulları B) Çaka Beyliği
C) Artuklular D) Mengücekliler
E) Saltuklular

10. **Mardin, Hasankeyf ve Harput bölgelerinde 1102-1409 yılları arasında hüküm süren beylik aşağıdakilerden hangisidir?**

A) Germiyanoğulları B) Danişmentliler
C) Dulkadiroğulları D) Artuklular
E) Mengücekliler

11. **Bizans'ın XI. yüzyıldaki,**

I. Ani Krallığı'nın ilhak edilip bölgedeki 50 000 kişilik yerel muhafız gücün dağıtılarak paralı askerlerden bir ordu kurulması,
II. Halka ağır vergiler konulması,
III. Ortodokslar dışındaki halka mezhep farkından dolayı baskı ve işkence yapılması

politikalarından hangileri Türklerin Anadolu'ya girişini kolaylaştırmıştır?

A) Yalnız I B) Yalnız II C) I ve II
D) I ve III E) I, II ve III

12. I. Malabadi Köprüsü
II. Divriği Ulu Camii
III. Alara Han

Yukarıdakilerden hangileri Mengücekliler Dönemi'ne ait eserlerdendir?

A) Yalnız I B) Yalnız II C) I ve II
D) II ve III E) I, II ve III

13. **Artuklular Dönemi'nde yaşayan ve Türk tarihinin önemli bilim adamlarından olan Cezeri'nin icatları arasında aşağıdakilerden hangisi yoktur?**

A) Dişli çarkla çalışan makinalar
B) Boşluk ve denge sistemine dayanan robotlar
C) Kendiliğinden açılıp kapanan fıskiyeler
D) Uçuş için kanatlar
E) Su saatleri

14. **Anadolu'da kurulan ilk Türk beyliklerinin aşağıdaki alanların hangisinde etkili oldukları söylenemez?**

A) Türk kültürünün yayılması
B) Merkeziyetçi yönetimlerin kurulması
C) Bizans'ın nüfuzunun kırılması
D) Haçlılarla mücadele edilmesi
E) Anadolu'nun İslamlaşması

Prf Yayınları
PRF YAYINLARI

BEYLİKTEN DEVLETE OSMANLI SİYASETİ (1302-1453) Test - 1

1. Malazgirt Zaferi'nden sonra diğer Türk boyları gibi Anadolu'ya göç ederek önce Doğu Anadolu'ya yerleşen Kayılar, daha sonra I. Alaeddin Keykubad tarafından kendilerine yurt olarak verilen Ankara yakınlarındaki Karacadağ'a yerleştiler. Kösedağ Savaşı'ndan sonra, Anadolu'da Moğol baskısının artması nedeniyle daha batıya göç ederek Bizans-Selçuklu sınırındaki Söğüt ve Domaniç'e yerleştiler. Söğüt'ü kışlak, Domaniç'i ise yaylak olarak kullanıp buralara kendi kültürlerini yansıttılar.

Kayılar ile ilgili verilen bu bilgilere dayanarak aşağıdakilerden hangisine ulaşılamaz?

A) Selçuklular ile Moğolların ittifak yapmalarına neden olduklarına
B) Anadolu'da doğudan batıya doğru yer değiştirdiklerine
C) Anadolu'nun farklı yerlerinde bulunduklarına
D) Anadolu'nun Türkleşme sürecine katkı sağladıklarına
E) Siyasal gelişmelerden etkilendiklerine

2. Halil İnalcık, XIII ve XIV. yüzyıllarda meydana gelen uçlardaki sosyal değişime dikkat çekerek Moğolların yönetimine girmek istemeyen Türkmenlerin göçleri ve bölgede buna bağlı oluşan nüfus baskısının önemli olduğunu belirtir. Bizans sınırında gaza ideolojisiyle donanmış bu nüfus potansiyeli, iyi yönlendirilmiş ve yeni bir Türk Beyliği'nin doğuşunu sağlamıştır.

Yalnızca bu bilgilere dayanarak Osmanlı Beyliği'nin kuruluşu ile ilgili,

I. insan potansiyeli,
II. Bizans'ın siyasi yapısı,
III. gaza ve cihat duygusu

etkenlerinden hangilerinin rolü üzerinde durulduğu savunulabilir?

A) Yalnız I B) Yalnız II C) Yalnız III
D) I ve III E) II ve III

3. Osmanlı Beyliği'ni kuran hanedanın menşeine dair iki farklı görüş ortaya atılmıştır. Bunlardan ilki; Ertuğrul Gazi'nin babasının Süleyman Şah olduğu yönündeki rivayettir. İkincisi ise babasının Gündüz Alp olduğu yönündeki genel kabul gören görüştür.

Aşağıdakilerden hangisi ikinci görüşü savunan tarihçilerden biri değildir?

A) Ahmedî B) Aşıkpaşazâde
C) Enverî D) Ruhi Çelebi
E) Karamanî Mehmet Paşa

4. I. Türkmenlerin, gaza ruhu ile Bizans üzerine seferler yapması
II. Selçuklu Devleti'nin zayıflaması
III. Kuruluş Dönemi hükümdarlarının yetenekli olması

Mehmet Fuat Köprülü'nün Osmanlı Devleti'nin kuruluşu ve büyümesiyle ilgili yukarıda verdiği bilgiler dinî, siyasi ve teşkilatçılık olarak gruplandırılırsa aşağıdakilerden hangi seçenek doğru olur?

	I	II	III
A)	Teşkilatçılık	Siyasi	Dinî
B)	Teşkilatçılık	Dinî	Siyasi
C)	Dinî	Siyasi	Teşkilatçılık
D)	Dinî	Teşkilatçılık	Siyasi
E)	Siyasi	Dinî	Teşkilatçılık

5. I. Gaziyan-ı Rum
II. Ahiler
III. Tekfurlar

Osmanlı Beyliği'nin sınırlarını genişletmek için Bizans topraklarını hedef seçmesi yukarıdakilerden hangilerinin desteğini kazanmasını sağlamıştır?

A) Yalnız I B) Yalnız II C) Yalnız III
D) I ve II E) I, II ve III

6. I. Yahşî Fakih Menâkıbnâmesi
II. Aşıkpaşazâde Tarihi
III. Ahmedî'nin İskendernâmesi

Yukarıdakilerden hangileri Osmanlılar hakkında ilk tarihî bilgileri veren eserler arasında gösterilebilir?

A) Yalnız I B) Yalnız II C) Yalnız III
D) I ve III E) I, II ve III

7. I. Pachymeres (Pakimires)
II. Nikephoros (Nikeforos)
III. İbn-i Batuta
IV. İbn-i Haldun

Yukarıdaki yazarlardan hangilerinin eserleri Osmanlı Devleti'nin Kuruluş Dönemi'ne ışık tutmaktadır?

A) Yalnız I B) Yalnız III C) III ve IV
D) I, II ve III E) I, II, III ve IV

Prf Yayınları
PRF YAYINLARI

8. **Aşağıdakilerden hangisi Osmanlı Devleti'ni kuran Kayı boyu ile ilgili değildir?**

A) Oğuzların Bozok koluna bağlıdır.
B) Ertuğrul Gazi zamanında Bizans sınırındaki Söğüt ve Domaniç yörelerine yerleştirilmişlerdir.
C) Moğolların Orta Asya'yı istilası üzerine Anadolu'ya göç etmişlerdir.
D) Türkiye Selçuklu Sultanı I. Alâeddin Keykubat tarafından Ankara yakınlarındaki Karacadağ yöresine yerleştirilmişlerdir.
E) Damgaları (sembol) üç hilal ve yıldızdır.

9. "Osman Gazi, bir padişah oğlu değildir. Toprakları küçük ve halkı az olmasına rağmen devleti, seneden seneye düzenli ve sürekli olarak büyümüştür. Bu kesintisiz büyüme ise, elbette onu gerçekleştiren dehânın gerçek büyüklüğünü gösterir."

Tarihçi Gibbons'un bu yorumuna bakarak Osman Bey hakkında,

I. Başarılı bir devlet adamıdır.
II. Planlı ve disiplinli çalışmıştır.
III. Hükümdarlık iddiasında bulunmamıştır.

yorumlarından hangileri yapılabilir?

A) Yalnız I B) Yalnız II C) Yalnız III
D) I ve II E) I ve III

10. Osman Bey bağımsızlığını ilan ettikten sonra öncelikle beyliğin sınırlarını Bizans yönünde genişletmeye çalışmıştır.

Osman Bey'in bu tutumunda aşağıdakilerden hangisinin etkili olduğu savunulamaz?

A) Bizans'ta sık sık taht kavgalarının yaşanmasının
B) Bizans'ın denizlerde güçlü olmamasının
C) Ağır vergiler altında ezilen Bizans halkının yönetimden hoşnut olmamasının
D) Bizans tekfurlarının imparatoru dinlemeyerek kendi başlarına hareket etmelerinin
E) Gaza ve cihat yapmak isteyen çok sayıda Türk'ün Osmanlı Beyliği'ne gelmesinin

11. **Osman Bey'in bağımsızlığını ilan etmesinde,**

I. Türkiye Selçuklu sultanının tahttan indirilerek İran'a götürülmesi ile Anadolu'da iktidar boşluğu oluşması,
II. Anadolu Selçuklu yöneticilerinden bazılarının Osman Bey'in hizmetine girmesi,
III. Koyunhisar Savaşı'nda Bizans tekfurlarının yenilgiye uğratılması

durumlarından hangilerinin etkili olduğu savunulabilir?

A) Yalnız I B) Yalnız II C) I ve II
D) I ve III E) II ve III

12. Osmanlı Beyliği'nin kurucularının; menşei, hangi boya mensup oldukları, Anadolu'ya ilk ne zaman geldikleri, hangi yörelerde yaşadıkları ve hatta beyliğin tam olarak ne zaman ve nerede kurulduğu hâlâ tartışma konusudur.

Bu durumun en önemli nedeni aşağıdakilerden hangisidir?

A) Kuruluş Dönemi kaynaklarının yetersiz olması
B) Balkanlarda fetihlerin yapılması
C) Beylikler arasında hâkimiyet mücadelelerinin yaşanması
D) Taht kavgalarının yaşanması
E) Devşirme sisteminin uygulanması

13. **Osmanlı Devleti, Sazlıdere Savaşı sonucunda aşağıdaki şehirlerden hangisini fethetmiştir?**

A) Edirne B) Bursa
C) Belgrad D) Selanik
E) Bilecik

14. Osman Bey, Anadolu'da Türkmen beylikleri arasındaki mücadelelere karışmayarak yönünü Bizans'a çevirdi. Bizans tekfurlarının kendi aralarında yapmış olduğu mücadelelerden faydalanarak yeni topraklar fethetmek istedi.

Osman Bey'in bu politika ile,

I. sınırlarını genişletme,
II. Bizans'ın durumundan yararlanma,
III. Anadolu'da Türk birliğini sağlama

hedeflerinden hangilerine ulaşmak istediği savunulamaz?

A) Yalnız I B) Yalnız II C) Yalnız III
D) I ve III E) II ve III

Prf Yayınları
PRF YAYINLARI

DEVLETLEŞME SÜRECİNDE SAVAŞÇILAR VE ASKERLER

Test - 1

1. Ertuğrul Gazi'nin vefatı üzerine Osman Bey'in huzuruna gelen çevre illerin beyleri "Siz Kayı Han neslindensiniz. Kayı Han bütün Oğuz Beylerinin hanları idi. Töre gereğince Oğuz neslinden başka kimse olmayınca hanlık ve padişahlık Kayı soyu varken başka bir boy soyuna düşmez." demişlerdir.

Türkmen beylerinin Osman Gazi'ye söylediklerine bakılarak,

I. Kayı boyunun diğer Oğuz boyları içinde özel bir yeri olduğu,
II. Oğuz neslinin sadece Kayı boyundan oluştuğu,
III. hanlık ve padişahlığın Türk boyları arasında dönüşümlü yapıldığı

ifadelerinden hangilerine ulaşılabilir?

A) Yalnız I B) Yalnız II C) Yalnız III
D) II ve III E) I, II ve III

2. Osmanlı yöneticileri, Bursa kuşatması sırasında aşiret kuvvetlerinin uzun kale kuşatmalarında yetersiz kaldığını görmüşlerdir.

Bu durumun sonuçları arasında aşağıdakilerden hangisi gösterilebilir?

A) Fethedilen yerlerin elden çıkması
B) Düzenli ordu birliklerine geçilmesi
C) Ücretli asker bulundurulmaya başlanması
D) Bizans ile diplomatik ilişkilerin kurulması
E) Fetih hareketlerinin durması

3. **Aşağıdakilerden hangisi, Osmanlı Devleti'nin tımarlı sipahileri yeniçerilere karşı bir denge unsuru olarak kullandığına kanıt gösterilebilir?**

A) Tımarlı sipahilerin savaş olmayan zamanlarda taşrada belirlenen arazilerde yaşamlarını sürdürmeleri
B) Köylünün can ve mal güvenliğinin sağlanması
C) Vergilerin tımarlı sipahilerin aracılığı ile toplanması
D) Bu askerî gruplardan herhangi birisinin imtiyazlı ve güçlü bir sınıf hâline gelmesine izin verilmemesi
E) Sipahilerin savaş teçhizatlarının devlet tarafından karşılanması

4.
- Osmanlılar ilk dönemlerden itibaren padişahın mutlak otoritesine dayanan merkeziyetçi bir devlet sistemini benimsemiştir. Bu anlayışın ürünü olan tımar sisteminde, tımar sahibi sadece hizmeti karşılığı hak ettiği ücreti o bölgenin vergilerinden tasarruf eden bir devlet memurudur. Devlet, toprağın mülkiyet hakkını her zaman muhafaza etmiştir.
- Tımar sahibi ile reaya arasındaki ilişkiler kanunlarla ayrıntılı şekilde belirlenmiştir. Tımar sahibi sorumlu olduğu hizmetleri yapmaması veya reayaya kötü davranması durumunda görevden alınmıştır.

Tarih öğretmeni bu açıklamayı aşağıdaki sorulardan hangisi üzerine yapmış olabilir?

A) Osmanlı Devleti neden düzenli orduya geçme ihtiyacı duymuştur?
B) Devşirme sistemi neden başarılı olmuştur?
C) Osmanlı Devleti'nin bir dünya gücü olmasında ordunun rolü nedir?
D) Osmanlı Devleti'nde Avrupa'daki gibi feodal yapının olmamasının sebebi nedir?
E) Osmanlı yöneticileri neden Türk saltanat sisteminde değişikliğe gitmişlerdir?

5. Osmanlılarda,
- Osman Bey döneminde gazi ve alplar,
- Orhan Gazi döneminde yaya ve müsellemler,
- I. Murat döneminde yeniçeriler

seferlere katılmıştır.

Bu duruma bakılarak aşağıdakilerden hangisi söylenebilir?

A) Edirne'nin fethinin gönüllü birliklerle gerçekleştirildiği
B) Devletin zamanla düzenli ordu yapılanmasına geçtiği
C) Yaya ve müsellemlerin I. Murat döneminde başarısız olduğu
D) Orhan Gazi döneminde Bizans'la ittifak yapıldığı
E) Rumeli'ye geçilmesinde yeniçerilerin etkili olduğu

6. **Osmanlı Devleti'nin ilk daimi ve düzenli askerî birlikleri aşağıdakilerden hangisidir?**

A) Tımarlı sipahiler B) Yeniçeriler
C) Yaya ve müsellemler D) Cebeciler
E) Humbaracılar

Prf Yayınları

PRF YAYINLARI

7. **Osmanlı Beyliği Dönemi'nde** "Alperen yüreği, ordunun direği" **ifadesi aşağıdakilerden hangisi için kullanılmıştır?**

A) Baciyanırum
B) Müsellemler
C) Ahiler
D) Anadolu abdalları
E) Gaziler ve Alplar

8. "... Böylece devletin elinde toplanan çok sayıda Pencik oğlandan, sultan kapısında yeni bir asker (yeniçeri) yapma fikri oluşur. Oğlanlar Bursa civarında Türk köylerine gönderilir, Türkçe öğrenip İslamlaşması sağlanır, sonra bunlar bir kışlada toplanıp sultanın emrine "yoldaş" yeniçeri ordusunu oluştururlar.

Ünlü tarihçi Halil İnalcık'ın, pencik sistemi ile ilgili yukarıdaki açıklamalarına dayanarak aşağıdaki yargılardan hangisine ulaşılamaz?

A) Sistem ile toplananlardan yeni bir askerî kaynak oluşturulduğuna
B) Oluşturulan yeni ordunun doğrudan sultana bağlı olduğuna
C) Pencik oğlanlarının Türklerin yaşadıkları bölgelerden toplandığına
D) Asker olacaklara Türk-İslam kültürünün öğretildiğine
E) Askerî ocağa girmeden önce Türklerin yanında bir süre yaşadıklarına

9. Eski Türk devletlerinin kuruluşunda etkili olan alplar, İslami Dönem Türk devletlerinde de Alp gaziler olarak misyonlarını devam ettirdiler. Alp gaziler, gaza ve cihat anlayışı ile yeni vatan topraklarının fethinde önemli görevler aldılar. Alp Arslan'ın yönlendirdiği alperenler Anadolu'yu fethederek bir Türk ülkesi hâline getirdiler.

Türklerdeki alp kültürü ile ilgili yukarıdaki bilgilere dayanarak,

I. hem İslam öncesi hem de İslamiyet'in kabulünden sonra etkili oldukları,
II. fetihlerde sadece alplardan yararlanıldığı,
III. alpların Anadolu'nun vatan yapılmasında aktif görev aldıkları

sonuçlarından hangilerine ulaşılamaz?

A) Yalnız I B) Yalnız II C) Yalnız III
D) I ve III E) II ve III

10. I. Devşirme sistemi
II. İstimalet politikası
III. İskân siyaseti

Osmanlı Devleti yukarıda verilenlerden hangilerini sürekli ordu kurmak için uygulamıştır?

A) Yalnız I B) Yalnız II C) Yalnız III
D) I ve II E) I, II ve III

11. **Osmanlı Devleti'nde piyadelerine "yaya" atlılarına "müsellem" adı verilen ilk düzenli askerî birlikler aşağıdakilerden hangisi döneminde oluşturulmuştur?**

A) Orhan Bey B) II. Murat C) II. Mehmet
D) I. Murat E) I. Mehmet

12. Garipname'ye göre alpda olması gereken dokuz özellikten ilki; hiçbir şeyden ürkmemesi ve sağlam duruşlu olmasıdır. "Alperen yüreği, ordunun direği"dir.

Bu bilgiye göre alp için aşağıdakilerden hangisi söylenebilir?

A) Alpların devşirme sistemi ile yetiştiği
B) Alplık sisteminin Osmanlı Devleti'nin yıkılışına kadar devam ettiği
C) Alpların kahramanlık ve cesareti ile ordunun en önemli unsurlarından biri olduğu
D) Alpların düzenli birlikler olduğu
E) Pencik sisteminin uygulanması ile alplığın sona erdiği

13. Osmanlı Devleti'nin uyguladığı tımar sistemi ile bürokratlar, din görevlileri, kadılar ve diğer sivil görevlilerin maaşları karşılığı gelir tahsisleri yapılmıştır. Sistemin uygulanmasında üretimin devamını sağlamak ve seferler için asker beslemek de amaçlanmıştır.

Bu bilgilere göre tımar sisteminin devletin,

I. ekonomi,
II. tarım,
III. askerlik

alanlarındaki politikalarından hangilerini şekillendirdiği savunulabilir?

A) Yalnız II B) Yalnız III C) I ve III
D) II ve III E) I, II ve III

Prf Yayınları
PRF YAYINLARI

1. **Hacı Bektaş-ı Veli'nin** "Oturduğun yeri pak et, kazandığın lokmayı hak et" **özdeyişiyle,**

I. temizlik,
II. bilim,
III. çalışkanlık

olgularından hangilerinin önemini vurguladığı savunulabilir?

A) Yalnız I B) Yalnız II C) Yalnız III
D) I ve III E) I, II ve III

2. I. Akşemseddin
II. Uluğ Bey
III. Ali Kuşçu

Türk İslam dünyasının yetiştirdiği yukarıdaki bilim insanlarından hangileri çalışmalarını Osmanlı coğrafyasında yürütmemiştir?

A) Yalnız I B) Yalnız II C) Yalnız III
D) I ve III E) II ve III

3. **Öğretisinin temelini ahlaki hürriyete oturtan, hakkı bilmek için önce kendini bilmek ve ölmeden önce ölmek anlayışını benimsemiş olan mutasavvıf aşağıdakilerden hangisidir?**

A) Ahmet Yesevi B) Mevlana
C) Gazali D) Yunus Emre
E) Hacı Bektaş-ı Veli

4. **Anadolu'nun Türkleşip İslamlaşmasında aşağıdakilerden hangisinin etkisi yoktur?**

A) Ahi Evran B) İbn-i Sina
C) Yunus Emre D) Hacı Bayram-ı Veli
E) Hacı Bektaş-ı Veli

5.

"Gel, gene gel, ne olursan ol, gel!
İster kâfir, ister ateşe, ister puta tapan ol!
Kapımız umutsuzluk kapısı değildir,
Yüz kez tövbeni bozmuş olsan da gel!"

Mevlânâ'nın yukarıdaki dörtlüğünden yararlanarak aşağıdaki ifadelerden hangisine ulaşılamaz?

A) İnancı, ırkı ve sosyal statüsü ne olursa olsun insanlar birbirlerine karşı hoşgörülü olmalıdır.
B) İnsanın her zaman ümitle yaşaması ve başkalarına da ümit vermesi gerekir.
C) İnsan bir kere hata yaptı mı toplumdan dışlanmalıdır.
D) Farklılıklar olsa da insanlık paydası altında buluşulabilir.
E) İnsanlar başkalarının hatalarına karşı affedici olmalıdır.

6. "Biz pergel gibiyiz. Bir ayağımız din üzerinde sağlamca durur, öteki ayağımız yetmiş iki milleti dolaşır."

Yukarıdaki ifadelerine bakarak Mevlânâ ile ilgili aşağıdakilerden hangisi söylenemez?

A) Bütün insanları tek millet kabul ettiği
B) Müslüman olarak tüm insanlığı kucaklayabildiği
C) İnsani ilişkilerde din ve millet ayrımı yapmadığı
D) Evrensel değerlere önem verdiği
E) "Önce insan" tezini benimsediği

7. ....., dinî konular dışında zamanla örf, âdet ve geleneklerle ilgili hususlarda da fikir beyan etmeye başlamış hatta kiliselerdeki seçim ihtilaflarını halletme konusunda bile fetvalar vermişlerdir. Bununla birlikte mühim devlet işlerinde de fikir ve düşüncelerinden istifade edilmiş; savaş ilanında, barış yapılmasında, ıslahatların uygulanmasında bile kendisinden fetva alınmıştır.

Bu parçadaki boşluğa aşağıdaki görevlilerden hangisi getirilmelidir?

A) Müderris B) Veziriazam
C) Şeyhülislam D) Kazasker
E) Kadı

Prf Yayınları
PRF YAYINLARI

8. Osmanlı Devleti'nde taşra teşkilatının çekirdeğini merkezden atanan bir kadı ile güvenlik ve adaletten sorumlu bir subaşı oluşturmuştur. Sadaret kethüdası tarafından tayin listesi yapılmış ve sadrazam tarafından atamalar gerçekleştirilmiştir.

Bu durum aşağıdakilerden hangisine önem verildiğini gösterir?

A) Kanunların ülkede duyulmasına
B) Padişahın devlet işlerine karıştırılmamasına
C) Taşrada asker yetiştirilmesine
D) Eğitim öğretim faaliyetlerinin sorunsuz sürdürülmesine
E) Merkeziyetçi bir yönetimin kurulmasına

9. I. Eğitim - öğretim faaliyetlerinin sürdürülmesi
II. İdari ve adli hizmetlerin yerine getirilmesi
III. Yönetim, sosyal, askerî ve idarî konularda dinin görüşünün açıklanması

Yukarıdakilerden hangileri Osmanlı Devleti'nde ilmiye sınıfının görevleri arasında sayılabilir?

A) Yalnız I B) Yalnız II C) Yalnız III
D) II ve III E) I, II ve III

10. **Aşağıdakilerden hangisi Osmanlı Devleti'nde halk kültürünün sözlü ögelerinden biri değildir?**

A) Menkıbeler B) Ozanlar
C) Minyatür D) Meddahlar
E) Hacivat - Karagöz

11. **XVII. yüzyılda, İngiltere'de Greenwich Gözlemevi'ni kuran John Flamsteed (Con Fileymstid) "**Britanya Gök Tarihi**" adlı eserini hazırlarken aşağıdakilerin hangisinden yararlanmıştır?**

A) Uluğ Bey'den
B) Ali Kuşçu'dan
C) Zembilli Ali Efendi'den
D) Akşemseddin'den
E) Takiyyüddin Mehmet'ten

12. Fatih Sultan Mehmet, Rumeli'den İstanbul'a dönerken rastladığı Kazasker Manisazâde'ye Arapça bir beyit sormuş, Manisazâde'nin düşünmek için süre istemesi üzerine âlimi kazaskerlikten azletmiş ve Sahn-ı Seman Medreselerinden birine eğitim için göndermiştir.

Bu bilgilere göre,

I. İlmiye teşkilatı hiyerarşik bir yapıya sahip olsa da son karar mercii padişahtır.
II. Kazasker, Divandaki görevlerini yerine getirmede yetersiz kalmıştır.
III. Kazasker Manisazâde kalemiye sınıfına mensuptur.

yorumlarından hangilerine ulaşılamaz?

A) Yalnız I B) Yalnız II C) Yalnız III
D) II ve III E) I, II ve III

13. **Osmanlı Devleti'nde önemli görevler üstlenen ilmiye sınıfı üyeleri aşağıdaki seçeneklerden hangisinde doğru olarak verilmiştir?**

A) Nişancı - Kadı
B) Kazasker - Şeyhülislam
C) Nişancı - Vezirler
D) Yeniçeri Ağası - Kazasker
E) Defterdar - Nişancı

14. **Osmanlı bürokratik geleneklerinin oluşmasında ve resmî yazışma usullerinin ortaya çıkmasında en önemli rolü aşağıdakilerden hangisi üstlenmiştir?**

A) Seyfiye B) Kalemiye
C) Sadrazam D) İlmiye
E) Reaya

15. Seyfiye sınıfını Enderun veya diğer eğitim kurumlarında yetişen ve ümera da denilen kişiler oluşturmuştur.

Aşağıdakilerden hangisi bu sınıfın üyelerinden biri değildir?

A) Kapıkulu askerleri B) Tımarlı sipahiler
C) Beylerbeyi D) Nişancı
E) Vezir ve sadrazam

Prf Yayınları
PRF YAYINLARI

DÜNYA GÜCÜ OSMANLI (1453-1595)

Test - 1

1. Bizans, Osmanlı Devleti'nin Anadolu'dan Rumeli'ye, Rumeli'den Anadolu'ya kuvvet göndermesine güçlük çıkarıyordu. Zaman zaman Avrupa devletlerini ve Anadolu beylerini Osmanlı'ya karşı kışkırtıyor, şehzadeleri isyana teşvik ediyordu. Bu durum İstanbul'un fethini zorunlu hâle getirmiştir.

Bu bilgilere göre Osmanlı Devleti'nin İstanbul'u fethetmesinde,

I. iç güvenliğini koruma,
II. dış tehditleri azaltma,
III. Anadolu'da Türk birliğini sağlama

düşüncelerinden hangilerinin etkili olduğu savunulabilir?

A) Yalnız I B) Yalnız II C) Yalnız III
D) I ve II E) II ve III

2. Osmanlı Devleti'nin Avrupa devletlerine karşı uyguladığı temel politika Hristiyan dünyasının birleşmesini önlemek olmuştur.

Fatih döneminde gerçekleştirilen,

I. Ortodoks Kilisesi'nin himaye altına alınması,
II. Venediklilere kapitülasyonlar verilmesi,
III. Ege adalarının Osmanlı topraklarına katılması

faaliyetlerinden hangilerinin bu politikaya uygun olduğu savunulabilir?

A) Yalnız II B) Yalnız III C) I ve II
D) II ve III E) I, II ve III

3. İstanbul'u fetheden II. Mehmet, Ayasofya'ya gelerek papazların en kıdemlisine, "Sana ve arkadaşlarına ve halka söylüyorum ki bugünden itibaren artık ne hayatınız ne de hürriyetiniz konusunda benim gazabımdan korkmayınız." diyerek Ortodokslara can, mal ve inanç konusunda güvence vermiştir.

II. Mehmet'in bu davranışıyla aşağıdakilerden hangisini amaçladığı söylenemez?

A) Ortodoks Kilisesi'ni kontrol altında tutmayı
B) Ortodoksların Katoliklerle ittifak kurmasını önlemeyi
C) Katolik Kilisesi'ne karşı güç oluşturmayı
D) Hristiyan halka hoşgörülü davrandığını göstermeyi
E) Ortodoksluğun yayılmasını önlemeyi

4. **Aşağıdakilerden hangisi Fatih Sultan Mehmet'in İstanbul'un fethi için yaptığı hazırlıklardan biri değildir?**

A) Karadeniz'den gelebilecek yardımların engellenmesi için Rumelihisarı'nın yapılması
B) Surları yıkmak için Macar Urban'a şahi topların döktürülmesi
C) 400 parçalık bir donanmanın hazırlanması
D) Çanakkale'de Kilitbahir Kalesi'nin yapılması
E) Kırım'ın alınması

5. **Fatih döneminde Balkanlarda aşağıdakilerden hangisi ile mücadele edilmemiştir?**

A) Akkoyunlularla B) Bulgarlarla
C) Sırplarla D) Arnavutlarla
E) Eflaklılarla

6. **Aşağıdakilerden hangisi Fatih Sultan Mehmet dönemindeki gelişmelerden biri değildir?**

A) İpek Yolu'nun bir bölümünün Osmanlı denetimine alınması
B) Ege adalarının alınması
C) İslam dünyasında siyasi birliğin sağlanması
D) İstanbul'un Osmanlı başkenti yapılması
E) Orta Çağın sona ermesi, Yeni Çağın başlaması

7. 1453'te İstanbul'u fetheden Fatih, burada Sahn-ı Seman Medresesini açtırmış, her dinden bilim insanına değer vermiş, Türk ve İslam dünyasından bazı bilim insanını İstanbul'a davet ederek onlara medreselerde görev vermiştir.

Fatih'in bu çalışmalarla aşağıdakilerden hangisini amaçladığı söylenebilir?

A) Rönesans'ın etkilerini azaltmayı
B) Batı'da uzun süreli barış ortamı oluşturmayı
C) Coğrafi Keşifleri engellemeyi
D) İstanbul'u bilim ve kültür merkezi hâline getirmeyi
E) İstanbul'da Bizans kültürünü yok etmeyi

Prf Yayınları
PRF YAYINLARI

8. **İstanbul fethinin aşağıdaki sonuçlarından hangisi Avrupa'da derebeyliklerin yıkılmasında etkili olmuştur?**

A) İpek Yolu'nun Osmanlı Devleti'nin eline geçmesi
B) Ateşli silahların gücünün anlaşılması
C) Bilim adamlarının İstanbul'dan İtalya'ya gitmesi
D) Başkentin İstanbul'a taşınması
E) Osmanlı Devleti'ne karşı Haçlı saldırılarının artması

9. **Fatih Sultan Mehmet aşağıdaki devletlerden hangisine kapitülasyon vermiştir?**

A) Venedik B) Fransa C) Memlük
D) Macaristan E) Akkoyunlular

10. **Aşağıdakilerden hangisi Fatih Sultan Mehmet'in Balkan seferlerinden biri değildir?**

A) Sırbistan'ın Fethi B) Eflak Seferi
C) Bosna-Hersek Seferi D) Boğdan Seferi
E) Kırım Seferi

11. **Aşağıdakilerden hangisi Fatih Sultan Mehmet'in Otranto'ya sefer düzenlemesinin temel sebebidir?**

A) Dalmaçya kıyılarını ele geçirmek
B) Akdeniz ticaretine tamamen hakim olmak
C) Papalığı Osmanlı Devleti'ne bağlamak
D) Kıbrıs'ı fethetmek
E) Saint Jean şövalyelerini etkisiz hale getirmek

12. **II. Bayezid döneminin yükselme sürecinde bir duraklama olarak kabul edilmesinin nedeni aşağıdakilerden hangisidir?**

A) Cem Sultan'ın isyan etmesi
B) Şahkulu İsyanı ile uğraşılması
C) Memlüklülerle savaşılması
D) Fetihlerin yavaşlaması
E) Karamanoğullarına son verilmesi

13. **II. Bayezid döneminde Avrupa fetihlerinde durgunluk yaşanmasının sebebi aşağıdakilerden hangisidir?**

A) Doğu politikasına ağırlık verilmesi
B) Haçlı Seferleri ile uğraşılması
C) Anadolu'da Celali isyanlarının çıkması
D) Cem Sultan Olayı
E) Yeniçeri isyanları

14. **Aşağıdakilerden hangisi II. Bayezid dönemindeki gelişmelerden biri değildir?**

A) Cem Sultan Olayı'nın yaşanması
B) Anadolu'da Türk siyasi birliğinin sağlanması
C) İspanya katliamından Yahudilerin ve Müslümanların kurtarılması
D) Şah Kulu Ayaklanması'nın çıkması
E) Kili ve Akkerman Kalelerinin alınması

15. **Fatih döneminde Karadeniz, Ege ve Batı Akdeniz kıyılarının ele geçirilmesinin Osmanlı Devleti'nde aşağıdakilerden hangisine neden olduğu söylenemez?**

A) Karadeniz'in Türk gölü haline gelmesi
B) Akdeniz'in Türk gölü haline gelmesi
C) Donanmaya duyulan ihtiyacın artması
D) Etnik ve kültürel çeşitliliğin artması
E) Ticaret yollarına hakim olunması

16. **Cem Sultan İsyanı'nın Osmanlı tarihindeki diğer şehzade isyanlarından daha etkili olmasının nedeni aşağıdakilerden hangisidir?**

A) Cem Sultan'ın yabancı devletlere sığınması
B) Ordunun Cem'i desteklemesi
C) Cem'in kendini sultan ilan etmesi
D) II. Bayezid'in yumuşak huylu olması
E) Fatih'in Cem'i varis tayin etmesi

Prf Yayınları
PRF YAYINLARI

SULTAN VE OSMANLI MERKEZ TEŞKİLATI

Test - 1

1. Osmanlı Devleti'nde bilinen ilk sarayı Orhan Gazi Bursa'da yaptırmıştır. I. Murat devrinde Edirne Sarayı yapılmıştır. İstanbul'un fethinden sonra Eski Saray olarak bilinen saray inşa edilmiş, ardından da cihan hâkimiyetinin ve gücün sembolü kabul edilen Topkapı Sarayı bugün Sarayburnu denilen mevkide yaptırılmıştır.

Bu bilgilere göre, aşağıdaki yargılardan hangisine ulaşılabilir?

A) Devletin merkezi değiştikçe yeni saraylar yapılmıştır.
B) Saray yaptırmak zamanla bir devlet geleneğine dönüşmüştür.
C) Topkapı Sarayı'nın yapılmasından sonra başka saray yapılmamıştır.
D) Saray yapımı devlet bütçesine bir yük getirmemiştir.
E) Saraylar yabancı mimarlar tarafından Avrupa sarayları örnek alınarak inşa edilmiştir.

2. **Osmanlı Devleti'nde Divân-ı Hümâyun toplantıları sarayın aşağıda verilen mekanlarının hangisinde yapılmıştır?**

A) Birun
B) Harem
C) Enderun
D) Paşa Konağı
E) Kubbealtı

3. **Osmanlı merkez bürokrasisinde görevi padişahın haremini korumak olan yönetici aşağıdakilerden hangisidir?**

A) Şehremini
B) İstanbul kadısı
C) Saray kethüdası
D) Darüssade ağası
E) Bostancı başı

4. Osmanlı şehzadelerinin belli bir yaşa geldikleri zaman sancağa çıkarılarak devlet yönetimi için tecrübe kazanmaları sağlanmıştır.

Şehzadelerin sancağa çıkması sırasında yapılan törene aşağıdakilerden hangi ad verilmiştir?

A) Müsadere
B) Şehzade alayı
C) Sünnet merasimi
D) Sûrre alayı
E) Kağıthane şenliği

5. Osmanlı Devleti'nde Divân-ı Hümâyun; din ve millet ayrımı yapmaksızın, hangi meslek grubundan olursa olsun herkese açıktır. Herhangi bir şekilde haksızlığa uğradığını düşünen ve mahalli kadılarca yanlış hüküm verildiğine inananlar, davalarını Divân-ı Hümâyuna getirebilmiştir. Ayrıca askerî sınıf ve vakıf mensuplarından şikâyetçi olanlar için de Divân-ı Hümâyun her zaman açıktı.

Bu bilgilere göre,

I. Divân-ı Hümâyunun yüksek yargı kurumu olduğu,
II. bütün vatandaşlara açık olduğu,
III. yerel yöneticilerin verdiği kararların değişebileceği

yorumlarından hangilerine ulaşılabilir?

A) Yalnız I
B) Yalnız II
C) Yalnız III
D) II ve III
E) I, II ve III

6.
- Fetret Devri'nde yaşanan taht mücadeleleri, devletin bütünlüğünü tehlikeye sokmuştur.
- İstanbul kuşatması sırasında daha önce Bizans'a sığınan Yıldırım Bayezid'in torunu Orhan Çelebi, II. Mehmet'in karşısında yer almıştır.

Osmanlı Devleti'nde aşağıdakilerden hangisinin bu tür sorunlara karşı alınan önlemlerden biri olduğu savunulabilir?

A) Devletin hanedan üyeleri arasında paylaşılması
B) Kardeş katlinin yasalaştırılması
C) Parlamenter sisteme geçilmesi
D) Padişahın Divân-ı Hümâyun toplantılarına başkanlık yapmayı bırakması
E) Veziriazamın padişah vekili olması

7. Osmanlılarda devlet anlayışının şekillenmesinde Türk geleneklerinden yararlanılmıştır.

Osmanlı Devleti'ndeki,

I. bir süre "Ülke hanedanın ortak malıdır." anlayışının sürdürülmesi,
II. şehzadelerin, lala adı verilen deneyimli kişiler eşliğinde sancağa çıkarılması,
III. devlet işlerinin Divân-ı Hümâyun adı verilen mecliste görüşülmesi

uygulamalarından hangileri bu duruma kanıt gösterilebilir?

A) Yalnız I
B) Yalnız II
C) Yalnız III
D) I ve II
E) I, II ve III

Prf Yayınları
PRF YAYINLARI

8. I. Osmanlı yargı ve eğitim teşkilatından sorumlu yönetici

II. Padişahın tuğrasının çekilmesi, tımar ve zeametlerin kayıtlarının tutulması, devletin iç ve dış yazışmalarının yapılması

III. Siyasi ve askerî konularda geniş yetkilere sahip olan padişahın mutlak vekili

Yukarıda görev tanımları yapılan Divân-ı Hümâyun üyeleri aşağıdaki seçeneklerin hangisinde doğru olarak verilmiştir?

	I	II	III
A)	Kazasker	Nişancı	Veziriazam
B)	Nişancı	Kazasker	Veziriazam
C)	Nişancı	Veziriazam	Kazasker
D)	Veziriazam	Nişancı	Kazasker
E)	Veziriazam	Kazasker	Nişancı

9. **Aşağıdakilerden hangisi, Osmanlı Devleti'nde merkezî otoriteye rakip olabilecek güçlerin ortaya çıkmasını engellemek ve önemli mevkilere yükselenlerin öldükten sonra varislerine bir şey bırakamayacaklarını düşünerek dürüst davranmalarını sağlamak amacıyla uygulanmıştır?**

A) Vakıf B) Müsadere C) Devşirme

D) Veraset sistemi E) Millet sistemi

10. Osmanlı Devleti için stratejik öneme sahip olan şehzade sancaklarının birçoğu eski Türk beyliklerin merkezlerinden seçilmiştir.

Buna göre aşağıdaki şehzade sancağının hangisinde böyle bir durum olduğu söylenemez?

A) Amasya B) Manisa C) Balıkesir

D) Konya E) Trabzon

11. I. Hükümdar ailesinin erkek üyelerinin devletin başına geçme hakkının olması

II. Anadolu'da fetih hareketlerinde bulunmaları

III. Bazı sultanların halife unvanını da kullanması

Yukarıda verilen durumlardan hangilerinin Osmanlılar ile Selçukluların ortak özelliği olduğu savunulamaz?

A) Yalnız I B) Yalnız II C) Yalnız III

D) I ve II E) II ve III

12. Osmanlı Devleti'nde padişahın başkanlığında birinci derece devlet işlerinin görüşüldüğü meclise "Divân-ı Hümâyun" denir. İlk defa Orhan Bey döneminde oluşturulan Divân-ı Hümâyun I. Murat döneminde genişletilmiştir. Fatih'in ilk dönemlerine kadar haftanın her günü toplanan Divân-ı Hümâyun, bu dönemden sonra sadece dört gün toplanmaya başlamıştır.

Osmanlı merkez yönetiminin en önemli kurumu olan Divân-ı Hümâyun ile ilgili yukarıdaki bilgilere dayanılarak aşağıdakilerden hangisi savunulamaz?

A) En önemli devlet işlerinin bu kurulda ele alındığı

B) Sınırların genişlemesine bağlı olarak değişime uğradığı

C) Alınan kararların onaylanması için halifeye sunulduğu

D) Padişahın sevk ve idaresinde olduğu

E) Toplantı periyodunda değişim yaşandığı

13. Yeni Saray ismiyle de bilinen ve padişahlar için bir baba ocağı sayılan Topkapı Sarayı'nda padişah, ailesi ile birlikte ikamet etmiş ve devleti buradan yönetmiştir. Padişahların sünnet merasimlerinden defin işlemlerine kadar birçok faaliyet burada yaşanmıştır. Ayrıca saray, devlet kademesinde görev alacak devlet adamlarının yetiştirildiği en önemli eğitim merkezidir.

Bu bilgilere göre Topkapı Sarayı'nın fonksiyonları arasında aşağıdakilerden hangisinin olduğu savunulamaz?

A) Sancak merkezi B) Eğitim merkezi

C) Yönetim yeri D) Padişahın evi

E) Bürokrasi merkezi

14. **Aşağıdakilerden hangisinin yürürlüğe girmesiyle Osmanlı padişahına devletin merkezî otoritesinin korunması için diğer şehzadeleri öldürme yetkisi verilmiştir?**

A) Devşirme Kanunu B) Pencik Kanunu

C) Kanun-i Esasi D) Kanunname-i Ali Osman

E) Tanzimat Fermanı

15. **Osmanlı siyasetnamelerinde devleti yöneten padişaha görevdeyken aşağıdakilerden hangisi ile görüş alış verişi yapması önerilmemiştir?**

A) Din adamları B) Divan üyeleri

C) Tecrübeli yöneticiler D) Saray kadınları

E) Önde gelen askerler

Prf Yayınları
PRF YAYINLARI

SULTAN VE OSMANLI MERKEZ TEŞKİLATI

Test - 2

1.

I. Padişahların Divân-ı Hümâyun toplantılarına başkanlık yapmayı bırakması

II. Üst düzey devlet memurlarının mallarının müsadere edilmesi

III. Padişahların harem dışından evlenmelerine son verilmesi

Osmanlı Devleti'nde, merkezî otoriteyi güçlendirmek için alınan yukarıdaki önlemlerden hangilerinin zamanla sarayla halkın bağlarının kopmasına neden olduğu savunulabilir?

A) Yalnız I B) Yalnız II C) Yalnız III D) I ve II E) II ve III

2. Divân-ı Hümâyunda,

I. Bazı davalar çözülmüştür.

II. Alınan kararlar ilgilileri tarafından uygulamaya konulmuştur.

III. Kanun olarak kabul edilebilecek kararlar alınmıştır.

Bu durum Divân-ı Hümâyunun yasama, yürütme ve yargı güçlerini kullanması bakımından aşağıdakilerin hangisinde doğru şekilde gruplanmıştır?

	yasama	yürütme	yargı
A)	I	II	III
B)	III	I	II
C)	II	III	I
D)	III	II	I
E)	I	III	II

3. Osmanlı bürokrasisinin, Divân-ı Hümâyundaki en önemli temsilcisi olan yönetici veziriazamdır. Yönetimin başında olan veziriazam, padişahın mutlak vekilidir. Devlet işlerini yürütmek için kararları almak, memurları atamak, görevden azletmek veya terfi ettirmek, halkın dertlerini dinlemek de veziriazamın sorumluluklarındandır.

Veziriazam ile ilgili yukarıda verilen bilgilere dayanarak,

I. padişahın olmadığı ortamda onun yetkilerini kullandığı,

II. yasama yetkisini de kullanabildiği,

III. halk ile doğrudan iletişim içinde olduğu

yorumlarından hangilerine ulaşılabilir?

A) Yalnız I B) Yalnız II C) Yalnız III D) I ve III E) II ve III

4. Osmanlı Devleti'nde bürokraside ihtiyaç duyulan yöneticiler Enderun Mektebinde yetiştirilmiştir.

Bu kurum ilk olarak aşağıdaki şehirlerin hangisinde açılmıştır?

A) İstanbul B) Gelibolu C) İznik D) Bursa E) Edirne

5. Osmanlı Devleti I. Murat döneminde eski Türk veraset sisteminde yer alan "Ülke hanedanın malıdır." anlayışını terk ederek, "Ülke hükümdarın ve oğullarının malıdır." anlayışını benimsemiştir.

Osmanlı Devleti'nin eski Türk veraset anlayışını terk ederek,

I. merkezî otoriteyi güçlü tutma,

II. taht mücadelelerini sınırlama,

III. padişahın denetlenmesini sağlama

hedeflerinden hangilerine ulaşmak istediği savunulabilir?

A) Yalnız I B) Yalnız II C) Yalnız III D) I ve II E) I ve III

6. **Osmanlı Devleti'nde kadı ve müderrislerin tayin ve terfi işleriyle ilgilenen Divan üyesi aşağıdakilerden hangisidir?**

A) Kadıasker B) Nişancı C) Defterdar D) Kaptanıderya E) Vezirler

7. Osmanlı devlet sisteminde padişahın askerî, siyasi, idari ve dinî yetki tanıdığı devlet görevlileri yönetenler sınıfını oluştururdu. Yönetenler seyfiye, ilmiye ve kalemiye olmak üzere üçe ayrılırdı. Aşağıda bu sınıflar ve Divandaki temsilcileri eşleştirilmiştir.

I. İlmiye → Defterdar

II. Seyfiye → Sadrazam

III. Kalemiye → Şeyhülislam

Eşleştirmelerden hangileri doğrudur?

A) Yalnız I B) Yalnız II C) Yalnız III D) I ve II E) II ve III

Prf Yayınları
PRF YAYINLARI

8. **Osmanlı Devleti'nde Enderun Mektebinin;**

I. Avrupai tarzda eğitim vermesi,
II. sanatçı ve mimarları yetiştirmesi,
III. devlet adamı ve bürokrat yetiştirmesi

özelliklerinden hangilerini taşıdığı söylenebilir?

A) Yalnız I B) Yalnız II C) I ve II
D) II ve III E) I, II ve III

9. I. Kanuname-i Ali Osman
II. Ekber ve Erşed Sistemi
III. Beşik ulemalığı

Yukarıdakilerden hangileri Osmanlı Devleti'nde veraset usulünde yapılan değişiklikleri ifade etmektedir?

A) Yalnız I B) Yalnız II C) I ve II
D) II ve III E) I, II ve III

10. **Osmanlı Devleti'nde padişahın herhangi bir konuda tuğra veya nişanını taşıyan yazılı emri aşağıdakilerden hangisidir?**

A) Adaletname B) Berat
C) Ferman D) Yasakname
E) Kanunname

11. **Divân-ı Hümâyunun üyelerinden Kazaskerin;**

I. eğitim,
II. adalet,
III. maliye

alanlarından hangileri ile ilgili görevi olduğu söylenebilir?

A) Yalnız I B) Yalnız II C) I ve II
D) II ve III E) I,II ve III

12. **Aşağıdakilerden hangisi Osmanlı Devleti'nde şehzade sancaklarından bir <u>değildir</u>?**

A) Amasya B) Konya C) Kütahya
D) Manisa E) Selanik

13. **Fatih'in hazırladığı Kanunname-i Ali Osman ile devletin geleceği için kardeş katline izin verilmesi;**

I. egemenlik anlayışının değiştirilmesi,
II. merkezî otoritenin korunması,
III. anayasal yönetime geçilmesi

durumlarından hangileriyle açıklanabilir?

A) Yalnız I B) Yalnız II C) I ve II
D) II ve III E) I, II ve III

14. **Osmanlı Devleti'nde sarayın;**

I. Enderun,
II. Birun,
III. Harem

kısımlarından hangilerinin devlet adamı yetiştirmek için eğitim verdiği söylenebilir?

A) Yalnız I B) Yalnız II C) I ve II
D) II ve III E) I, II ve III

15. **Osmanlı Devleti'nde I. Ahmet döneminden itibaren uygulanmaya başlanan ekber ve erşed sistemi ile aşağıdakilerden hangisi amaçlanmıştır?**

A) Taht kavgalarını sona erdirmek
B) Şehzadelerin deneyimli bir şekilde tahta çıkmasını sağlamak
C) Saray kadınlarının devlet işlerine karışmasını önlemek
D) Padişahın yetkilerini Divan üyeleri arasında paylaştırmak
E) İç isyanları bastırmak

16. "Padişahlar elinde terazi tutmuş bir kimseye benzerler. Sen padişah olunca teraziyi doğru tutmanı isterim. O zaman Yüce Allah da senin iyiliğini arzular."

Osmanlı padişahı II. Murat'ın nasihatnamesinde geçen terazi kavramı ile aşağıdakilerden hangisinin önemi vurgulanmış olabilir?

A) Askerî güç B) Adaletli olma
C) Ekonomik güç D) Merkezî otorite
E) Eğitim sistemi

Prf Yayınları
PRF YAYINLARI

KLASİK ÇAĞDA OSMANLI TOPLUM DÜZENİ

Test - 1

1. Osmanlı Devleti toplumun unsurlarını kendi inanç ve gelenekleri etrafında ayrı bir topluluk olarak tanımlanmış, idari ve sosyal bir örgütlenme modeliyle yönetilmiştir.

Devletin İslam hukukundan hareketle ülkesinde yaşayan toplulukları din ya da mezhep esasına göre teşkilatlandırarak yönetme sistemine ne ad verilmiştir?

A) Lonca Teşkilatı
B) Ahilik
C) Devşirme Sistemi
D) Pencik Sistemi
E) Millet Sistemi

2. Mirî araziden bir miktarının hükümdar tarafından şahıslara verilmesi ya da Osmanlı Devleti'ne yeni katılan bölgelerde daha önceden mülk olarak kullanılan toprakların sahiplerinde bırakılmasıyla oluşan araziye "Mülk arazi" denilmektedir. Geliri ve kullanma hakkı şahsın kendisine ait olan bu tür arazilere sahip olanlar; arazilerini satma, vakfetme ve hibe etme hakkına sahiptir.

Mülk arazi ile ilgili verilen bu bilgilere dayanarak aşağıdakilerden hangisine ulaşılabilir?

A) Arazinin vergi gelirleri hizmet karşılığı devlet memurlarına verilmiştir.
B) Sadece Müslümanların mülk araziye sahip olma hakkı vardır.
C) Araziyi terk edenlere ceza olarak vergilendirme yapılmaktadır.
D) Arazi sahibi istediği gibi tasarrufta bulunabilmektedir.
E) Sadece Anadolu'da bulunmaktadır.

3. II. Mehmet fetihten üç gün sonra, savaş korkusu ile şehirden kaçmış olanların evlerine dönmelerini ve herkesin, önceden olduğu gibi evinde kendi örf ve âdetleriyle dinine uygun olarak serbestçe yaşamasını istemiştir.

II. Mehmet'in bu tutumuna bakılarak aşağıdakilerden hangisi savunulabilir?

A) İstanbul'un yerli halkının can, mal ve inanç güvenliğinin sağlanacağı
B) Şehre Anadolu'dan Türk nüfus getirileceği
C) Yerli halkın boşalttığı yerlerin Müslümanlara verileceği
D) Ordunun şehri yağmalamasına izin verileceği
E) Yabancı tüccarlara ayrıcalık tanınacağı

4. Osmanlı Devleti'nde kılık kıyafet kültürünün oluşmasında din kuralları, yaşanılan çevre, gelenek gibi unsurlar etkili olmuştur. İstanbul'un fethi, imparatorluğun sınırlarının genişlemesi ve ekonomik koşullar, kadın ve erkek dünyasının ayrılmasına ve kadınların sokak giysilerine kurallar konmasına neden olmuştur.

Bu bilgilere göre kılık kıyafet ile ilgili oluşan yapıda aşağıdakilerden hangisinin etkisinin olduğu söylenemez?

A) Batılılaşmanın
B) İnançların
C) Örf ve adetlerin
D) Siyasal gelişmelerin
E) Sosyal çevrenin

5. Osmanlılar, Hristiyan ve Yahudi halkı Müslüman olması ve Türkçe öğrenmesi için zorlamamıştır. Ancak zamanla fethedilen topraklardaki gayrimüslimler Türkçe öğrenmiş, aralarından Müslüman olanlar olmuştur.

Aşağıdakilerden hangisinin doğrudan bu durumun sonuçlarından biri olduğu savunulabilir?

A) Gayrimüslimlerin devlet memuru olabilmesi
B) Türklerin gayrimüslimlerin inancını benimsemeye başlaması
C) Gayrimüslimlerin Osmanlı yönetimini benimsemesinin kolaylaşması
D) Gayrimüslimlerin elçi olarak atanması
E) Avrupa Hristiyan birliğinin parçalanması

6. Fatih, İstanbul'u fethettikten sonra Ayasofya'yı şehrin "cami-i kebiri" ilan etmiş ve şehre Anadolu'dan 5.000 aile yerleştirilmesi için emir vermiştir. Daha sonra şehrin tamamındaki Müslüman ve gayrimüslim reaya ile askerî sınıfı ayrı ayrı tahrir defterine kaydettirmiştir.

Fatih'in bu uygulama ile aşağıdakilerden hangisini amaçladığı savunulabilir?

A) Taht kavgalarını sona erdirmeyi
B) Kenti bir an önce devletin resmî bir parçası haline getirmeyi
C) Kentte yaşayan gayrimüslimleri başka bölgelere göndermeyi
D) Yabancılara ayrıcalık tanımayı
E) Bizans'tan kalan bütün izleri silmeyi

Prf Yayınları
PRF YAYINLARI

7. **Osmanlı Devleti'nde reaya geçimini,**

I. tarım,
II. ticaret,
III. hayvancılık

alanlarının hangilerinden sağlamıştır?

A) Yalnız I B) I ve II C) I ve III
D) II ve III E) I, II ve III

8. **Osmanlı Devleti'nde mülkiyeti Müslümanlara ait topraklardan alınan vergi aşağıdakilerden hangisidir?**

A) Ağnam B) Cizye
C) Öşür D) Haraç
E) Gümrük

9. **Osmanlı Devleti'nde lonca teşkilatının görevleri arasında aşağıdakilerden hangisi gösterilemez?**

A) Esnafla devlet arasındaki ilişkileri düzenlemek
B) Gümrük vergilerini belirlemek
C) Ürünlerin fiyatını belirlemek (narh koymak)
D) Mesleki eğitim vererek mesleğin devamlılığını sağlamak
E) Üyelerinin zararlarını karşılamak ve kredi sağlamak

10. **Osmanlı Devleti'nde mülk sahibi gayrimüslimlerden alınan tarım ürünü vergisine verilen ad aşağıdakilerden hangisidir?**

A) Haraç B) Çiftbozan
C) Cizye D) Öşür
E) Avarız

11. **Osmanlı Devleti'nde gelirleri kale ve tersane giderleri için ayrılan topraklara verilen isim aşağıdakilerden hangisidir?**

A) Dirlik B) Ocaklık
C) Yurtluk D) Mukataa
E) Paşmaklık

12. Osmanlı şehirlerindeki halk; cami ve mescitlerin dışında kahvehane, bozahane gibi mekânlarda veya düzenlenen panayır ve şenliklerde bir araya gelmiştir.

Türk toplumunda kaynaştırıcı bir özelliğe sahip olan bu mekânların,

I. bireyler arasında sosyal bağların güçlenmesi,
II. geleneklerin sürdürülmesi,
III. toplumun kaynaşması

gelişmelerinden hangilerine ortam hazırladığı savunulabilir?

A) Yalnız I B) Yalnız II C) Yalnız III
D) I ve II E) I, II ve III

13. III. Murat'ın şehzadesi Mehmet için düzenlediği sünnet düğününe Fransa, Venedik, Raguza, Transilvanya, Moldova elçileri de katılmış, hazırlıklar için Mısır'dan şeker, Hindistan'dan çeşitli baharatlar ve Halep'ten kumaşlar getirtilmiştir.

Bu bilgilere göre düzenlenen etkinliğin,

I. diplomasi,
II. ekonomi,
III. askerî

alanlardan hangilerinde hareketliliğe neden olduğu savunulabilir?

A) Yalnız I B) Yalnız II C) Yalnız III
D) I ve II E) I, II ve III

14. Osmanlılar, her cemaate örf ve âdetlerine göre bir düzen kurma imkânı vermiştir. Cemaatler, her türlü dinî ve iç işlerini düzenlemede serbest bırakılmışlardır.

Bu bilgilere göre;

I. cemaatlerin geleneklerini yaşatmalarına müdahale edilmediği,
II. cemaatlerin değerlerine ait konuları kendilerinin serbestçe belirleyebildiği,
III. devletle cemaatlerin herhangi bir temasının olmadığı

yargılarından hangilerine ulaşılabilir?

A) Yalnız I B) Yalnız II C) Yalnız III
D) I ve II E) II ve III

Prf Yayınları
PRF YAYINLARI

1. **Sultan Alp Arslan'ın Malazgirt Zaferi'nden sonra** "Toprak fethedenin malıdır." **politikasıyla aşağıdakilerden hangisini amaçladığı savunulamaz?**

A) Fetihleri hızlandırmayı
B) Anadolu'da Bizans etkisini azaltmayı
C) Haçlı Seferlerini durdurmayı
D) Anadolu'yu Türkleştirmeyi
E) Anadolu'nun fethini tamamlamayı

2. Yeniçeriler, II. Kosova Savaşı'nda (1448) ateşli silahlar kullanmıştır. 1514 Çaldıran ve 1517 Ridaniye Savaşlarında da Osmanlı ordusu topun yanı sıra tüfeği etkili bir şekilde kullanmıştır. Osmanlı ordusu erken dönemde ateşli silahları kullanmasına rağmen ok ve yayı da uzun süre kullanmaya devam etmiştir.

Bu durumun nedenleri arasında,

I. o dönemde kullanılan ateşli silahların isabet oranının düşük olması,
II. kullanılan ateşli silahların mermilerinin havada yön değiştirmesi,
III. kullanılan silahların atış sıklığının çok yavaş olması

faktörlerinden hangilerinin etkili olduğu savunulabilir?

A) Yalnız II B) Yalnız III C) I ve II
D) II ve III E) I, II ve III

3. Osmanlı Devleti'nde hem yönetim görevini hem de askerlik görevini padişah adına idare eden sınıfa seyfiye (askerî) denilmiştir.

Buna göre aşağıdakilerden hangisi seyfiye sınıfına mensup olamaz?

A) Müderris B) Yeniçeri ağası
C) Tımarlı sipahi D) Veziriazam
E) Beylerbeyi

4. Türkiye Selçuklularında Ahi Evran'ın eşi Fatma Bacı liderliğinde Bacıyan-ı Rum adıyla bir kadın teşkilatı kurulmuştur. Teşkilata mensup olanlar çadırcılık, keçecilik, nakışçılık, örgücülük, kilim ve halı dokumacılığı, ipek ve pamuk ipliği üretimini gerçekleştirmişlerdir. Ayrıca yetim ve kimsesiz genç kızların eğitimi ve evlendirilmesi, kimsesiz ihtiyar kadınların ihtiyaçlarının karşılanması için de çalışmıştır.

Bu bilgilere dayanarak Bacıyan-ı Rum teşkilatının aşağıdakilerden hangisini amaçladığı savunulamaz?

A) Kadınların sosyal ve ekonomik hayata katılımını sağlamayı
B) Toplumda yardımlaşma ve dayanışma kültürünü geliştirmeye
C) Kadınların bilgi ve becerilerini artırmayı
D) Kadınların devlet yönetimine katılması için mücadele etmeyi
E) Sosyal sorunların çözümüne katkıda bulunmayı

5. **II. Bayezid döneminde yaşanan aşağıdaki gelişmelerden hangisi Yavuz Sultan Selim'in hükümdarlık iddiası ile ortaya çıkmasına neden olmuştur?**

A) Şehzade Cem Olayı
B) Şahkulu İsyanı
C) Osmanlı - Memlûk Savaşları
D) Yahudilerin Osmanlı ülkesine göç ettirilmesi
E) İspanya'daki Müslümanlara yardım edilmesi

6. Osmanlı Devleti'nde kazalarda idarecilik yapan kadılar, aynı zamanda mahkemelere gelen davalara da bakarlardı. Kadılar, kazadaki diğer yöneticilerin denetimini de yaparlardı.

Bu bilgilere göre kadılarla ilgili aşağıdakilerden hangisine ulaşılamaz?

A) Kararlarında özgür olduğuna
B) Kazalardaki en yetkili devlet görevlisi olduğuna
C) Askerî konularda da görevlerinin bulunduğuna
D) Yargı ve yürütme yetkilerinin olduğuna
E) Devletin yönetici sınıfından olduklarına

Prf Yayınları
PRF YAYINLARI

7. **Osmanlı Devleti'nin Kuruluş Dönemi'nde fethettiği yerlerde giderek güçlenen bir egemenlik kurmasında aşağıdakilerden hangisinin katkısı olduğu söylenemez?**

A) İltizam sistemi uygulanmasının
B) İskan politikası uygulanmasının
C) Yeni yönetim birimleri oluşturulmasının
D) Merkezî otoritenin gücünün korunmasına önem verilmesinin
E) Adaletli bir yönetim anlayışının benimsenmesinin

8. Aşağıda Fatih döneminde gerçekleştirilen fetihler ve sonuçları eşleştirilmek istenmiştir:

I	Karadeniz Osmanlı gölü hâline geldi.
II	Karadeniz - Akdeniz su yolu Osmanlı denetimine girdi.
III	Akdeniz hâkimiyetini sağlama yönünde önemli bir adım atıldı.

Tablodaki bilgiler aşağıdakilerin hangisinde doğru olarak eşleştirilmiştir?

	I	II	III
A)	Trabzon	Kırım	Rodos
B)	Amasra	Trabzon	Mora
C)	Kırım	İstanbul	Mora
D)	Kırım	Trabzon	Otranto
E)	Trabzon	İstanbul	Arnavutluk

9. I. Aşar: Müslümanlardan alınan ürün vergisidir.
II. Haraç: Gayrimüslimlerden alınan ürün vergisidir.
III. Cizye: Gayrimüslimlerden alınan askerlik vergisidir.
IV. Ağnam: Küçükbaş hayvan sahiplerinden alınan vergidir.
V. Avarız: Toprağını üç yıl üst üste boş bırakanlardan alınan ceza vergisidir.

Yukarıda tanımı verilen kavramlardan hangisi açıklamasıyla yanlış eşleştirilmiştir?

A) I B) II C) III D) IV E) V

10. Osmanlı Devleti'nde yaşayan gayrimüslimler, İslam dininin kurallarına uymak zorunda bırakılmamışlardır.

Bu durum Osmanlı Devleti'nde aşağıdakilerden hangisinin nedenlerinden biri olarak gösterilebilir?

A) Fetih hareketlerinin yavaşlamasının
B) Çok kültürlü bir toplum hayatının görülmesi
C) İlmiye sınıfının yönetimdeki etkisinin artmasının
D) Yargı ile yürütme işlerinin birbirinden ayrılmasının
E) Medreselerin çağa ayak uyduramamasının

11. **Aşağıdakilerden hangisi Anadolu'nun Türkleşme sürecini hızlandıran Horasan erenlerinin Anadolu'da kurduğu örgütlenmelerden biri değildir?**

A) Abdalân-ı Rûm
B) Bâcıyân-ı Rûm
C) Gaziyân-ı Rûm
D) Ahiyân-ı Rûm
E) Mevlevilik

12. **Osmanlı Devleti'nde aşağıdaki müesseselerin hangisinde mesleki eğitim verilmiştir?**

A) Zaviye B) Sıbyan Mektebi
C) Medrese D) Lonca Teşkilatı
E) İmarethane

13. **Osmanlı Devleti'nin Akdeniz hâkimiyetini pekiştiren gelişmeler arasında aşağıdakilerden hangisi gösterilemez?**

A) Cerbe Deniz Savaşı
B) Preveze Deniz Savaşı
C) İnebahtı Deniz Savaşı
D) Kıbrıs'ın Fethi
E) Trablusgarp'ın Fethi

Prf Yayınları
PRF YAYINLARI

ÜNİTE ÖLÇME TESTİ

Test - 1

1. Türkiye Selçuklu Devleti, birçok alanda Büyük Selçuklu Devleti'ni örnek almasına rağmen merkezî otoritenin güçlü tutulmasına Büyük Selçuklulardan daha fazla önem vermiştir.

Türkiye Selçuklu Devleti'nin aşağıdaki uygulamalarından hangisi bu duruma kanıt olarak gösterilebilir?

A) Devlet işlerinin Büyük Divanda görüşülmesi
B) Ülke topraklarının kayıt defterlerinin tutulması
C) Deniz gücünün oluşturulması
D) Meliklerin yetkilerinin sınırlanarak eyaletlere yönetici olarak gönderilmesi
E) Bizans İmparatorluğu ve Ermeni sınırında uc teşkilatının kurulması

2. **Osmanlı Devleti Dönemi'nde aşağıdaki kurumlardan hangisinde sadece askerî eğitim verilmiştir?**

A) Enderun Mektebi
B) Acemi Ocağı
C) Lonca Teşkilatı
D) Medrese
E) Sıbyan Mektebi

3. **Avrupalıların;**

I. Ümit Burnu'nu keşfetmesi,
II. Amerika kıtasını bulması,
III. Dünya'yı dolaşması

gelişmelerinden hangilerinin Osmanlı ekonomisinin bozulmasında doğrudan etkili olduğu söylenebilir?

A) Yalnız I
B) Yalnız II
C) I ve II
D) II ve III
E) I, II ve III

4. **Venedikliler aşağıdakilerden hangisi için Memlüklere ödediği vergiyi bu devletin yıkılması üzerine Osmanlı Devleti'ne vermeye başlamıştır?**

A) Girit
B) Rodos
C) Kıbrıs
D) Malta
E) On İki Ada

5. Yavuz Sultan Selim'in Mısır Seferi'ne çıkmasının nedenlerinden bazıları şunlardır:

I. Safevi Devleti'ne destek veren Memlük tehlikesini tamamen ortadan kaldırmak
II. Mısır'ın Akdeniz ticaretinde önemli limanlara ve Nil havzasının verimli topraklarına sahip olması
III. Abbasi halifesinin Kahire'de bulunması nedeniyle Memlüklerin İslam dünyasının lideri gibi davranması

Bu nedenler dinî, siyasi ve ekonomik nedenler şeklinde gruplandığında aşağıdakilerden hangisi doğru olur?

	I.	II.	III.
A)	Dinî	Siyasi	Ekonomik
B)	Dinî	Ekonomik	Siyasi
C)	Siyasi	Dinî	Ekonomik
D)	Ekonomik	Siyasi	Dinî
E)	Siyasi	Ekonomik	Dinî

6. Osmanlı Devleti'nde medreselerin her kademesinde eğitim ücretsizdi. Medreselerin masrafları vakıflar tarafından karşılanır, öğrencilere karşılıksız burs verilirdi.

Osmanlı Devleti'ndeki bu uygulamaların aşağıdakilerden hangisine ortam hazırladığı savunulabilir?

A) Eğitimin zorunlu hâle gelmesine
B) Eğitim müfredatının dinî nitelikte olmasına
C) Azınlıkların kendi okullarını kurmalarına
D) Eğitimde fırsat eşitliğinin sağlanmasına
E) Hazine gelirlerinin artmasına

7. **Aşağıdakilerden hangisi Yavuz Sultan Selim döneminde Osmanlı topraklarına katılan yerlerden biri değildir?**

A) Maraş ve Elbistan çevresi
B) Güneydoğu Anadolu Bölgesi
C) Konya ve Karaman çevresi
D) Doğu Anadolu Bölgesi
E) Suriye, Lübnan ve Mısır

Prf Yayınları
PRF YAYINLARI

8. Osmanlı toplumunda hayır sahiplerinin kurdukları vakıf eserler ve hizmetler arasında cami, mescit, medrese, imarethane, şifahane, yol, köprü, çeşme gibi çok sayıda müessese bulunmaktadır.

Bu bilgilere göre aşağıdaki alanların hangisinde vakıflar aracılığı ile çalışmalar yapıldığı savunulamaz?

A) Sosyal
B) Askerlik
C) Dinî
D) Sağlık
E) Eğitim

9. **Osmanlı tarihinde Bursa'da ilk kütüphane aşağıdaki padişahlardan hangisinin döneminde kurulmuştur?**

A) I. Murat
B) Osman Gazi
C) II. Bayezid
D) Orhan Gazi
E) Fatih Sultan Mehmet

10. **Osmanlı Devleti'nin Kuruluş Dönemi'nde yaptığı Sırpsındığı, I. Kosova, Niğbolu, Varna ve II. Kosova savaşlarının temel sebebi aşağıdakilerden hangisidir?**

A) Ploşnik mağlubiyetinde kaybedilen yerlerin geri alınmak istenmesi
B) Balkanlarda sınırların genişletilmek istenmesi
C) Rumeli Beylerbeyliğinin kurulması
D) Balkanlarda iskan siyaseti takip edilmesi
E) Balkanlarda istimalet politikası uygulanması

11. I. Orhan Bey döneminde kuruldu.
II. Başkanı, Fatih Sultan Mehmet'e kadar padişah, ondan sonra sadrazam olmuştur.
III. Üyeleri sınırların genişlemesiyle artmıştır.

Divan ile ilgili yukarıda verilen bilgilerden hangileri doğrudur?

A) Yalnız I
B) Yalnız II
C) I ve II
D) II ve III
E) I, II ve III

12. Osmanlı Devleti'nde seyfiye sınıfının Divandaki temsilcileri veziriazam, kaptanıderya ve yeniçeri ağasıdır. Taşrada görevli beylerbeyi, sancak beyi ve tımarlı sipahiler de seyfiye sınıfına mensuptur.

Bu bilgilere göre seyfiye sınıfının,

I. yönetim,
II. eğitim,
III. askerlik

alanlarından hangileri ile ilgili görevler üstlendikleri söylenebilir?

A) Yalnız I
B) Yalnız II
C) Yalnız III
D) I ve II
E) I ve III

13. Osmanlı Devleti'nin ilk yıllarında Anadolu Türk beylikleri ile çatışmamaya özen gösterilmiş, sınırlar daha çok Bizans ve Balkanlar yönünde genişletilmiştir. Yıldırım Bayezid döneminde ise bu politika terk edilerek kuvvet yoluyla Anadolu Türk beylikleri üzerinde hakimiyet kurulmuştur.

Yıldırım Bayezid döneminde Anadolu Türk beyliklerine yönelik politikanın değişmesinde daha çok aşağıdakilerden hangisinin etkili olduğu söylenebilir?

A) Timur tehlikesinin ortaya çıkmasının
B) Haçlı saldırılarının artmasının
C) Bizans'ın iç ve dış sorunlarla karşılaşmasının
D) Osmanlı Devleti'nin askerî ve ekonomik açıdan güçlenmesinin
E) Anadolu Türk beylikleri arasında çatışmalar yaşanmasının

14. II. Selim döneminde Kıbrıs adası Osmanlı topraklarına katılmıştır.

Aşağıdakilerden hangisi bu durumun sonucu olamaz?

A) Coğrafi Keşiflerden sonra Akdeniz limanlarının yeniden canlanması
B) Doğu Akdeniz'de Osmanlı egemenliğinin güçlenmesi
C) Anadolu sahillerinde güvenliğin sağlanması
D) Anadolu - Suriye - Mısır deniz yolunun güvenliğinin sağlanması
E) Venediklilerin askerî ve ekonomik gücünün azalması

Prf Yayınları
PRF YAYINLARI

ÖZEL TEST (İLERİ DÜZEY SORULAR) Test - 1

1. Malazgirt Savaşı'ndan sonra Anadolu'da Danişmentliler, Artuklular, Saltuklular, Mengücekliler, İnançoğulları ve Çubukoğulları gibi beylikler kurulmuştur. Bu beylikler zamanında Anadolu'nun Türkleşmesi hızlanmış, Türk–İslam kültürü Anadolu'da yayılmıştır.

Beyliklerin,

I. dinî ve sosyal amaçlı kurumlar açmaları,
II. yer adlarını Türkçe olarak değiştirmeleri,
III. yeni şehirler, kasabalar ve köyler kurmaları,
IV. Bizans'a ait yerleri fethetmeleri

faaliyetlerinden hangilerinin bu yargıya dayanak oluşturduğu söylenebilir?

A) I ve II B) II ve III C) III ve IV
D) II, III ve IV E) I, II, III ve IV

2. **Osmanlı Devleti'nde,**

I. toprağın boş bırakılmasının yasaklanması,
II. üç yıl toprağını işlemeyen çiftçinin toprağının başkasına verilmesi,
III. miri arazinin gelirlerine göre bölümlere ayrılması

uygulamalarından hangileri tarımsal üretimin sürekliliğini sağlamaya yöneliktir?

A) Yalnız I B) Yalnız II C) Yalnız III
D) I ve II E) II ve III

3.
- Alım gücü zayıf olan halkın korunması
- Haksız rekabetin önlenmesi

Osmanlı Devleti yukarıdaki amaçlara ulaşmak için aşağıdaki sistemlerden hangisini uygulamıştır?

A) İskan Politikası B) Pencik Sistemi
C) Narh Sistemi D) Lonca Teşkilatı
E) Ahilik

4. Yazdığı şiirlerle bir divan oluşturan Osmanlı padişahı II. Bayezid, Türkçenin Çağatay lehçesini ve Uygur harflerini de kullanmıştır.

Bu durum II. Bayezid dönemi ile ilgili aşağıdakilerden hangisinin göstergesidir?

A) Orta Asya Türk kültürünün Osmanlılarda yaşatıldığının
B) Arapça ve Farsça eserlerin arttığının
C) Matbaa kullanımının başladığının
D) Siyasi alanda başarısızlığın yaşandığının
E) Kültürel çalışmaların yavaşladığının

5. 1538'de kazanılan Preveze zaferi ile Akdeniz'de üstünlük Osmanlılara geçmiştir.

Bu durumun Osmanlı Devleti'ne,

I. siyasi,
II. ticari,
III. sosyal

alanların hangilerinde kazanım sağladığı söylenebilir?

A) Yalnız I B) Yalnız II C) I ve II
D) I ve III E) II ve III

6. **Osmanlı Devleti'nin Tuna ve Fırat nehirlerine kadar uzanmış olan topraklarının bütünlüğü aşağıdakilerden hangisinin fethiyle sağlanmıştır?**

A) Edirne B) Bursa
C) Çanakkale D) Manastır
E) İstanbul

Prf Yayınları
PRF YAYINLARI

7. **Osmanlı Devleti'nde, ilim adamına gösterdiği emsalsiz ilgi ve sevgi ile ilim adamının fikrî özgürlüğünü sağlayan, düşünce yapısı yönüyle de** "bir ayağı Şark'ta öteki Garp'ta olan" **büyük hükümdar aşağıdakilerden hangisidir?**

A) II. Murat
B) Kanuni Sultan Süleyman
C) II. Bayezid
D) Fatih Sultan Mehmet
E) Yavuz Sultan Selim

8. **Osmanlı Devleti XVI. yüzyılda Hint Okyanusu ve Basra Körfezi'nde aşağıdaki devletlerden hangisiyle mücadele etmiştir?**

A) Portekiz B) İspanya
C) Venedik D) Avusturya
E) İngiltere

9. **Osmanlı şehirlerinin,**

I. büyüklüğü ve nüfusu,
II. ticaret yollarına göre konumu,
III. üretim faaliyetlerindeki uzmanlığı

özelliklerinden hangileri, meslek kollarının artmasında etkili olmuştur?

A) Yalnız II B) Yalnız III C) I ve III
D) II ve III E) I, II ve III

10. **Aşağıdakilerden hangisi Osmanlı Devleti'nde taşra yönetimi içerisinde yer alan birimlerden biri değildir?**

A) Eyalet B) Sancak C) Kaza
D) Köy E) Enderun

11. Osmanlı Devleti'nde mahalleler aynı dinden ve sosyal gruptan genellikle hemşerilik anlayışı ile bir araya gelmiş gruplardan oluşuyordu.

Osmanlı Devleti'ndeki bu mahalle yapılanmasının aşağıdakilerden hangisini engellediği savunulabilir?

A) Kültürel çatışma ortamının oluşmasını
B) Mahalle içinde birlik ve beraberliğin güçlenmesini
C) Komşular arasında dayanışmanın artmasını
D) Toplumda huzur ve güvenliğin sağlanmasını
E) Geleneksel değerlerin yaşatılmasını

12. **Osmanlı Devleti'nde tersane giderlerini karşılamak ve kale muhafızlarının ihtiyaçlarını karşılamak için ayrılan topraklar aşağıdakilerden hangisidir?**

A) Malikane B) Ocaklık C) Paşmaklık
D) Öşrî topraklar E) Mukataa

13. **Coğrafi Keşiflerle köleciliğin yaygınlaşması, aşağıdaki alanlardan hangisi ile ilgili sorunlar doğurmuştur?**

A) Dini B) Sosyal C) Askeri
D) Siyasi E) Kültürel

14. **Osmanlı Devleti'nde,**

I. İnebahtı Deniz Savaşı'nın kaybedilmesi,
II. Kıbrıs'ın alınması,
III. padişahların ordunun başında sefere katılmaması

gelişmelerinden hangilerinin halkın devlete güveninin sarsılmasına yol açtığı savunulabilir?

A) Yalnız II B) I ve II C) I ve III
D) II ve III E) I, II ve III

Prf Yayınları
PRF YAYINLARI

ÖZEL TESTİN ÇÖZÜMLERİ - 1

ÇÖZÜM

1. Malazgirt Savaşı'ndan sonra Anadolu'da fethedilen yerlerde Türk beylikleri kurulmuştur. Bu beylikler sınırlarını genişleterek Anadolu'nun Türk yurdu hâline gelmesinde önemli rol oynamışlardır.

İlk Türk beylikleri; kurdukları yeni yerleşim birimleriyle, açtıkları kurumlarla ve maddi manevi kültürün yerleştirilmesiyle Anadolu'nun Türkleşmesine ve İslamlaşmasına büyük katkılar yapmışlardır.

Cevap E

ÇÖZÜM

2. Bir ülkede tarımsal üretimin sürekliliğinin sağlanabilmesi için toprakların ekilip biçilmesi gerekmektedir.

Osmanlılar devlete ait topakların bir kısmında tımar sistemini uygulayarak bazı görevlilerin maaşını ve asker yetiştirmek için gereken parayı tarım vergi gelirlerine bağlamıştır. Sistemin devamı için üretim faaliyetleri denetim altında tutulmuş, toprağını üç yıl üst üste ekmeyenlerden topraklar geri alınmıştır.

Cevap D

ÇÖZÜM

3. Sorunun seçeneklerinde Osmanlıda uygulanan bazı politikalar verilmiştir.

İskân: Yeni fethedilen yerlere Türk ve Müslüman halkın yerleştirilmesi.

Pencik: Kapıkulu ordusunun asker ihtiyacını karşılamak için uygulanan asker toplama sistemi.

Ahilik: Türkiye Selçuklularında esnaf teşkilatı.

Lonca: Osmanlılarda esnaf teşkilatı.

Narh: Osmanlı Devleti'nde fiyatları denetim altında tutmak amacıyla ilk dönemlerden itibaren başvurulan narh uygulaması başta ekmek, buğday, un olmak üzere temel ihtiyaç maddelerine konan azami ve asgari fiyattı.

Cevap C

ÇÖZÜM

4. Osmanlı padişahları edebi eserlerinde Çağatay lehçesini kullanmışlardır. Bunlardan biri olan II. Bayezid de Çağatay lehçesini ve Uygur harflerini kullanarak köklerine bağlılığını sürdürmüştür. Padişahın bu davranışı Orta Asya kültürünün Anadolu'da yaşatıldığını gösteren bir örnektir.

Cevap A

ÇÖZÜM

5. Osmanlı Devleti Preveze Deniz Savaşı'nda Haçlı donanmasını mağlup ederek Akdeniz'in en güçlü devleti hâline gelmiştir. Bu zafer Osmanlı Devleti'ne siyasi ve ticari kazanımlar sağlamıştır.

Cevap C

ÇÖZÜM

6. Osmanlı Devleti, İstanbul'un fethinden önce hem Asya hem de Avrupa kıtasında topraklara sahipti. İstanbul'un fethiyle Bizans İmparatorluğu yıkılmış ve Osmanlı toprak bütünlüğü sağlanmıştır.

Cevap E

ÇÖZÜM

7. Fatih, İstanbul'a ayak basar basmaz, Ayasofya'dan ve papaz odalarından yararlanarak mevcut binalarda, ilk medreseleri açmıştı. Ali Kuşçu, Ali Tusi ve Molla Zeyrek gibi büyük hocaları bu müesseselerin başına getirmişti.

Yukarıdaki gerekçelerden dolayı Fatih için, "Zihniyetiyle bir ayağı Şark'ta öteki Garb'ta olan büyük hükümdar Fatih Sultan Mehmet, ilim adamına gösterdiği emsalsiz ilgi ve sevgi ile ilim adamının fikrî özgürlük ve haysiyetini kurtarmıştır." ifadeleri kullanılmıştır.

Cevap D

Prf Yayınları
PRF YAYINLARI

ÇÖZÜM

8. Hint Deniz Seferleri;

Kızıldeniz, Basra Körfezi ve Hint Okyanusu'nu içine alan bölgede Coğrafi Keşifler sonrasında özellikle Osmanlı ve Portekizliler, askerî bir rekabete girmiştir. Bunun nedeni Portekiz'in Ümit Burnu üzerinden Hindistan'a ulaşması sonucunda kadim ticaret yollarının değişmesidir.

Portekizlilerle yaşanan askerî rekabet, Osmanlıların Mısır'ı fethinden sonra artarak devam etmiştir. Osmanlılar, Kanuni Dönemi'nde Hint Denizi'ne dört ayrı sefer düzenleyerek Kızıldeniz, Basra Körfezi ve Hint Okyanusu'nda Portekizlilerle mücadeleye girişmiştir.

Cevap A

ÇÖZÜM

9. Sorunun öncülünde verilen şehirlerin ticaret yollarına yakınlığı ham maddenin çeşitli ve bol olmasına katkı yapmıştır. Şehirlerin büyük ve fazla nüfuslu olması ustalıkla işlenen ürünlere ihtiyacı artırmıştır.

Cevap E

ÇÖZÜM

10. Enderun: Farsça "iç" anlamına gelir. II. Murad tarafından devlet adamı yetiştirmek için ilk defa Edirne Sarayı'nda kurulan bu bölüm, Fatih tarafından Topkapı Sarayı'nda da uygulandı. En seçkin devşirme çocuklarının eğitildiği ve Osmanlı devlet sisteminin üst düzey yöneticilerinin yetiştirildiği bir okul niteliğindeki Enderun Mektebi bu bölümde yer alırdı. Padişahın özel hizmetlerini gören devşirmeler yani iç oğlanlar burada eğitilirdi.

Cevap E

ÇÖZÜM

11. Soruda verilen Osmanlı mahalle yapılanması, kültürel çatışma ortamının oluşmasını engellemiştir (A). Ancak bu uygulama diğer seçeneklerde verilen durumları desteklemiştir.

Cevap A

ÇÖZÜM

12. **Malikâne:** Osmanlı Devleti'nin; fetihleri kolaylaştırmak ve teşvik etmek için seferlere katılan önemli komutanlara, dervişlere ve ahilere fethedilen ülkelerde verilen topraklardır.

Ocaklık: Osmanlı Devleti'nde tersane giderlerini karşılamak ve kale muhafızlarının ihtiyaçlarını karşılamak için ayrılan topraklar.

Öşrî Topraklar: Fetihlerden önce sahipleri Müslüman olan veya fetih sırasında İslam'ı kabul eden kişilere ait topraklara öşrî topraklar denilmektedir.

Paşmaklık: Padişahın annesi, kızları veya kız kardeşleri gibi saray kadınlarına verilen arazilerdir.

Mukataa: Osmanlı maliyesinin vergi toplama biçimlerinden olan mukataa, geliri doğrudan merkez hazinesine giden mirî arazileri de ifade eder.

Cevap B

ÇÖZÜM

13. Kölecilik sistemi öncelikle sosyal bir olaydır.

Cevap B

ÇÖZÜM

14. Osmanlı Devleti, padişahların ordunun başında çıktıkları seferlerde önemli başarılar kazanmıştır. Devlet sistemindeki bozulmalara paralel olarak padişahlar ordunun başında sefere katılmamışladır. Bu durum devlete güveni zayıflatmıştır.

Doğal olarak bir devletin savaş kaybetmesi halkın devlete güvenini sarsmıştır.

Cevap C

Prf Yayınları

PRF YAYINLARI

DEĞİŞEN DÜNYA DENGELERİ KARŞISINDA OSMANLI SİYASETİ

Test - 1

1. **Aşağıdakilerden hangisi Osmanlı Devleti'nin XVII. yüzyılda İran'la siyasi ve askerî ilişkiler arasında gösterilemez?**

A) Ferhat Paşa Antlaşması
B) Revan Seferi
C) Nasuh Paşa Antlaşması
D) I. Kasr-ı Şirin Antlaşması
E) Bağdat Seferi

2. 1533 İstanbul Antlaşması'nda Avusturya arşidükünün Osmanlı sadrazamına denk sayılması kararı, 1606 Zitvatorok Antlaşması ile değiştirilerek Osmanlı padişahına eşit hale getirilmiştir.

Buna göre, aşağıdaki yargılardan hangisine ulaşılamaz?

A) Avusturya'nın zamanla güçlendiğine
B) Osmanlı Devleti'nin siyasi gücünün zayıfladığına
C) Osmanlı Devleti'nin Avusturya üzerindeki yaptırım gücünü kaybettiğine
D) İki devlet arasında uluslararası ilişkilerde eşitliğin sağlandığına
E) Osmanlı sadrazamının yetkilerinin arttığına

3. **Hotin Seferi sırasında yeniçerilerin disiplinsizliğini görüp ocağı kaldırmak isteyen padişah aşağıdakilerden hangisidir?**

A) IV. Murat
B) II. Osman
C) IV. Mehmet
D) III. Mehmet
E) II. Bayezid

4. **Osmanlı Devleti'nin doğuda ve batıda en geniş sınırlara ulaştığı antlaşmalar aşağıdakilerin hangisinde doğru olarak verilmiştir?**

	Doğu	Batı
A)	Ferhat Paşa	Bucaş
B)	Nasuh Paşa	Vasvar
C)	Revan	Hotin
D)	I. Kasr-ı Şirin	Bucaş
E)	Nasuh Paşa	Bucaş

5. Neşet, Osmanlı Devleti'nin XVI. yüzyılda Avusturya'ya karşı üstünlük kurmasına karşın bu üstünlüğünü XVII. yüzyılda kaybettiğini ileri sürmüştür.

Neşet bu yargısını aşağıdakilerden hangisiyle desteklemelidir?

A) Ferhat Paşa Antlaşması'yla
B) Hotin Antlaşması'yla
C) Amasya Antlaşması'yla
D) Zitvatorok Antlaşması'yla
E) Kasr-ı Şirin Antlaşması'yla

6. Osmanlı padişahlarından IV. Murat, yönetime egemen olduktan sonra yönetimine etki eden kişileri engellemiş, İstanbul'daki yeniçeri zorbalarını ortadan kaldırarak askeri itaat altına almıştır. Ayrıca isyanlara teşvik edici konuşmaların yapıldığı kahvehaneleri kapatmış, içki içme ve tütün kullanmayı yasaklamış, gece sokağa çıkma yasağı uygulamıştır.

IV. Murat'ın yaptığı bu çalışmalarla öncelikle aşağıdakilerden hangisini amaçladığı savunulabilir?

A) Savaşlarda başarı kazanmayı
B) Fetihleri hızlandırmayı
C) Devlet otoritesini güçlendirmeyi
D) Hazinenin gelirlerini artırmayı
E) Halkın yönetime katılmasını sağlamayı

7. **1648'de imzalanan Westphalia Antlaşması'nın,**

- Protestanlığın yanında Kalvenizmin varlığının da kabul edilmesi,
- Hollanda ve İsviçre'nin bağımsızlığının tanınması,
- Kutsal Roma-Germen imparatorunun Alman prenslikleri-nin onayı olmadan vergi ve asker toplamamayı kabul etmesi

hükümlerine bakarak,

I. Avrupa'da sınır değişikliğine neden olmuştur.
II. Halkın değişik mezhepleri benimsemesi kolaylaşmıştır.
III. Almanya, Avrupa'nın en önemli siyasi gücü hâline gelmiştir.

yargılarından hangilerine ulaşılamaz?

A) Yalnız I
B) Yalnız II
C) Yalnız III
D) I ve II
E) II ve III

Prf Yayınları

PRF YAYINLARI

8. 1618 - 1648 yılları arasında meydana gelen Otuz Yıl Savaşları sonucunda Katolik Alman kralı, Protestan prenslere yenilmiştir. Savaş sonucunda imzalanan Vestfalya Barışı ile Protestan prensler bölgelerinin dinî ve siyasi lideri durumuna gelmişlerdir.

Bu durumun aşağıdakilerden hangisini engellediği savunulabilir?

A) Almanya'da siyasal birliğin sağlanmasını
B) Sanayi İnkılabı'nın doğmasını
C) Demokrasi yönetimlerinin kurulmasını
D) Katolik Kilisesinin siyasal gücünün azalmasını
E) Reform hareketlerinin başlamasını

9. I. Malta
II. Lehistan
III. Macaristan

Yukarıdakilerden hangileri Osmanlı Devleti aleyhine gerçekleşen Kutsal İttifak içinde yer almıştır?

A) Yalnız I B) Yalnız II C) I ve II
D) II ve III E) I, II ve III

10. **Osmanlı Devleti'nin 1700 yılında Rusya ile imzaladığı İstanbul Antlaşması'nın;**

- Azak Kalesi Ruslara bırakılacak.
- Rus Çarlığı İstanbul'da elçi bulundurabilecek.
- Ruslar Kudüs'ü serbestçe ziyaret edebilecek.

maddelerine göre;

I. Rusya Karadeniz'e inmiştir.
II. Osmanlı Devleti toprak kaybetmiştir.
III. Rusya ile diplomatik ilişki kurulmuştur.

yargılarından hangilerine ulaşılabilir?

A) Yalnız I B) Yalnız II C) Yalnız III
D) II ve III E) I, II ve III

11. I. Bucaş Antlaşması
II. Hotin Antlaşması
III. Kasr-ı Şirin Antlaşması
IV. Girit Adası'nın Fethi

Yukarıdaki olayların kronolojik sıralaması aşağıdakilerin hangisinde doğru verilmiştir?

A) I, II, III, IV B) II, III, IV, I
C) II, III, I, IV D) III, II, I, IV
E) IV, III, II, I

12. Osmanlı ordusunun II. Viyana Kuşatması'nda başarısız olması üzerine Papanın teşvikiyle Osmanlı Devleti'ne karşı Avusturya, Venedik, Lehistan, Malta ve Rusya'nın katılımıyla Kutsal İttifak kurulmuştur. Kutsal İttifak devletlerinin saldırısıyla başlayan ve 16 yıl süren savaşlar Osmanlı Devleti'nin barış istemesiyle sona ermiştir.

Bu bilgilerle aşağıdakilerden hangisine ulaşılamaz?

A) Osmanlı Devleti'nin askerî bakımdan güç kaybettiğine
B) Papanın Avrupa devletleri üzerinde etkili olduğuna
C) Osmanlı Devleti'nin ortak düşman olarak kabul edildiğine
D) Osmanlı Devleti'nin Avrupa'daki bütün topraklarını kaybettiğine
E) Osmanlı Devleti'nin birçok cephede savaşmak zorunda kaldığına

13. Karlofça Antlaşması'yla Osmanlı Devleti Batı'da ilk kez geniş toprak kaybetmiştir. XVIII. yüzyılda da devam edecek olan kayıplarla birlikte Osmanlıların Avrupa'dan geri çekilme süreci başlamış, bu gerileyiş ancak 1921 yılında Sakarya Meydan Muharebesi'nde durdurulabilmiştir.

Bu durumun Osmanlı Devleti'nde,

I. eyalet sayısının azalması,
II. Balkanlar'da hâkimiyetin zayıflaması,
III. iskan politikasının uygulamaya konulması

sonuçlarından hangilerini ortaya çıkardığı savunulabilir?

A) Yalnız I B) Yalnız II C) I ve II
D) II ve III E) I, II ve III

Prf Yayınları
PRF YAYINLARI

DEĞİŞİM ÇAĞINDA AVRUPA VE OSMANLI

Test - 1

1. Aşağıdakilerden hangisi Rönesans'ın İtalya'da başlamasının sebeplerinden biri değildir?

A) İtalya'nın ticaret merkezi olması
B) İstanbul'un fethinden sonra kaçan bilim adamlarının İtalya'ya gitmesi
C) İtalya şehir devletlerinin zengin olması
D) İtalya'nın İslam uygarlıklarına yakın olması
E) İtalya'nın sömürgecilikte geri kalması

2. Coğrafi Keşiflerden sonra sanatçıları ve bilim adamlarını koruyup destekleyen mesen adlı sınıfın oluşması öncelikle aşağıdakilerden hangisine ortam hazırlamıştır?

A) Eşitlikçi bir toplum yapısının oluşmasına
B) Rönesans'ın başlamasına
C) Reform Hareketlerinin başlamasına
D) Merkezi otoritelerin güçlenmesine
E) Feodal yönetimlerin zayıflamasına

3. XVII. yüzyılda bilime yön veren isimler arasında yer alan aşağıdaki bilim insanlarından hangisinin alanı diğerlerinden farklıdır?

A) Galileo B) Descartes C) Luther D) Kopernik E) Pascal

4. Yeni Çağ'da Avrupa'da;

I. Yeni ticaret yollarının bulunması,
II. Dünya'nın dolaşılması,
III. Hümanizmin önem kazanması,
IV. Mezhep birliğinin bozulması

gelişmelerinin oluş sırası aşağıdakilerin hangisinde doğru verilmiştir?

A) I, II, III, IV
B) I, III, II, IV
C) II, I, IV, III
D) II, III, I, IV
E) IV, III, II, I

5. Katolik Fransa'nın, Almanya'daki mezhep kavgalarında Protestanları desteklemesi ile aşağıda verilenlerden hangisi arasında bir ilişki kurulamaz?

A) Almanya'nın siyasi birliğini engellemek
B) Alsas - Loren Bölgesi'ni almak
C) Siyasi rakibini zayıflatmak
D) Protestanlığı benimsemek
E) Akılcı dış politika izlemek

6. Aşağıdakilerden hangisi Reform Hareketi ile ilgili bir gelişme değildir?

A) Otuz Yıl Savaşları
B) Nant Fermanı
C) Ogsburg Antlaşması
D) I. Fledelfiya Kongresi
E) Westfalya Antlaşması

7. Avrupa'da Rönesans ve Reform ile oluşan, aklın ön plana çıktığı ve modern bilimin temellerinin atıldığı döneme "Akıl Çağı" adı verilmiştir.

Buna göre Avrupa ile ilgili;

I. Deney ve gözlemin önem kazandığı,
II. Pozitif bilimlere ilginin arttığı,
III. Öğrenme ve araştırmada kilisenin etkisinin azaldığı

ifadelerinden hangileri söylenebilir?

A) Yalnız I
B) Yalnız II
C) I ve II
D) I ve III
E) I, II ve III

8. Aşağıdakilerden hangisi Rönesans Hareketlerinin sonuçlarından biri değildir?

A) Avrupa'da skolastik düşünce yıkılmıştır.
B) Özgür düşünce ortamı oluşmuştur.
C) Coğrafi Keşiflere ortam hazırlamıştır.
D) Deney ve gözlem yaygınlaşmıştır.
E) Din adamlarına duyulan güven azalmıştır.

Prf Yayınları
PRF YAYINLARI

9. **Rönesans ve Reform Hareketlerinin başladığı ülkeler, aşağıdakilerin hangisinde doğru olarak verilmiştir?**

	Rönesans	Reform
A)	İngiltere	Fransa
B)	İtalya	Almanya
C)	Almanya	İtalya
D)	İspanya	Portekiz
E)	Fransa	Almanya

10. **Yeni Çağ'da Avrupa'da yaşanan Reform Hareketlerinin nedenleri arasında aşağıdakilerden hangisi gösterilemez?**

A) İncilin millî dillere çevrilmesi
B) Kağıt ve matbaanın yaygınlaşması
C) Rönesans ile başlayan özgür düşüncenin yayılması
D) Katolik Kilisesi'nin halka baskı yapması
E) Din ve devlet işlerinin birbirinden ayrılması

11.
- Fransa'da Nant Fermanı ile Kalvenizm mezhebi tanınmıştır.
- Almanya'da Ogsburg Antlaşması ile Protestanlık kabul edilmiştir.
- Kral VIII. Henri tarafından İngiltere'de Anglikan Kilisesi kurulmuştur.

Yukarıdaki bilgilere göre aşağıdakilerden hangisine ulaşılamaz?

A) Avrupa'nın siyasi haritası değişmiştir.
B) Avrupa'da mezhep birliği bozulmuştur.
C) İngiltere'de Reform'a kral öncülük etmiştir.
D) Katolik Kilisesi ve Papa'nın nüfuzu azalmıştır.
E) Hristiyan dünyası parçalanmıştır.

12. **Reform Hareketlerinin Osmanlı ülkesine etki etmemesinin nedeni olarak aşağıdakilerden hangisi gösterilebilir?**

A) Hristiyan halkın kilise baskısına karşı korunması
B) Doğu ticaret yollarının Osmanlıların elinde olması
C) Osmanlılarda halifelik makamının olması
D) Hristiyanlara yönetim alanında görev verilmesi
E) Fransa'ya kapitülasyonların verilmesi

13. **Martin Luther'in Almanya'da başlattığı Reform Hareketlerinin;**

I. Avrupa'da mezhep birliğinin bozulması,
II. Laik eğitimin başlaması,
III. Ulusal devletlerin kurulması

durumlarından hangilerine neden olduğu söylenebilir?

A) Yalnız I B) Yalnız II C) I ve II
D) I ve III E) II ve III

14. **Aşağıdakilerden hangisinin Aydınlanma Çağı'ndan önce ortaya çıktığı söylenebilir?**

A) Makyavelizm B) Materyalizm
C) Sosyalizm D) Liberalizm
E) Merkantalizm

15. **Rönesans ve Reform hareketlerinin Avrupa'da yayılmasında aşağıdakilerden hangisi daha etkili olmuştur?**

A) Sanayi Devrimi'nin yapılması
B) Feodalitenin yıkılması
C) Yeni mezheplerin doğması
D) Kağıt ve matbaanın kullanımının yaygınlaşması
E) Engizisyon mahkemelerinin kurulması

16. **Yeni Çağ başlarında Avrupa'da fikri, idari ve ticari alanlarda yaşanan önemli gelişmeler ile;**

I. Derebeyi,
II. Din adamı,
III. Burjuva

sınıflarından hangilerinin güç kaybettiği söylenebilir?

A) Yalnız I B) Yalnız II C) I ve II
D) II ve III E) I, II ve III

Prf Yayınları
PRF YAYINLARI

ULUSLARARASI İLİŞKİLERDE DENGE STRATEJİSİ (1774-1914) Test - 1

1. **Osmanlı Devleti'nin, 1779 Aynalıkavak Tenkihnamesi ile Rusya tarafından desteklenen Şahin Giray'ı Kırım Hanı olarak kabul etmesi;**

I. Kırım'la kültürel bağların kopması,
II. Rusya'nın Kırım'ı ele geçirmesi,
III. Rusya'nın Balkanlarda etkinliğinin artması

gelişmelerinden hangilerine neden olmuştur?

A) Yalnız I B) Yalnız II C) I ve II
D) II ve III E) I, II ve III

2. **Rusya aşağıdakilerin hangisinde Osmanlı toprak bütünlüğünü savunmuştur?**

A) Dakya Projesi
B) Grek Projesi
C) Fransa'nın Mısır'ı işgali
D) Kutsal yerler sorunu
E) Kırım meselesi

3. I. Küçük Kaynarca Antlaşması
II. Aynalıkavak Tenkihnamesi
III. Yaş Antlaşması

Yukarıdaki antlaşmaların hangilerinde "Kırım" ile ilgili maddeler vardır?

A) Yalnız I B) Yalnız II C) I ve II
D) II ve III E) I, II ve III

4. **Osmanlı Devleti XVIII. yüzyılın son çeyreğinden itibaren dış politikada başladığı** "Denge siyaseti"**ni ilk kez aşağıdaki hangi olayla uygulamıştır?**

A) Rusya'nın Çeşme baskınında
B) Leh mültecileri sorununda
C) Lale Devri'nde
D) Fransa'nın Mısır'ı işgalinde
E) Küçük Kaynarca Antlaşması'nda

5. Napolyon, Fransız İhtilali'nin ardından 1798'de Mısır'ı işgal etmiştir.

Aşağıdakilerden hangisi Napolyon'un Mısır'ı işgal amaçlarından biri olamaz?

A) Sömürge elde etmek
B) İngiltere'yi Akdeniz'den uzaklaştırmak
C) Hint ticaret yolunu ele geçirmek
D) Akdeniz ticaretinde pay sahibi olmak
E) Mısır'daki milliyetçilik isyanlarına destek vermek

6. **XVIII. yüzyılda;**

- Osmanlı Devleti'nin, Rusya ve Avusturya karşısındaki mücadelesine Fransa'nın destek vermesi,
- Fransa'nın Mısır'ı işgalinde Rusya'nın Osmanlı Devleti'nin yanında yer alması

gelişmelerine bakarak;

I. Avrupa devletleri barıştan yanadır.
II. Osmanlı Devleti siyasi ve askeri desteğe ihtiyaç duymuştur.
III. Dış politika ülke çıkarlarına göre değişebilir.

yargılardan hangilerine ulaşılabilir?

A) Yalnız I B) Yalnız II C) I ve II
D) II ve III E) I, II ve III

7. Fransız İhtilali sonucunda ortaya çıkan milliyetçilik, insan hakları, eşitlik, özgürlük gibi ilkeler Osmanlı Devleti üzerinde etkili olmuştur.

Osmanlı Devleti'nde yaşanan aşağıdaki gelişmelerin hangisinde bu ilkelerin etkisinden söz edilemez?

A) İlk ıslahat çalışmalarının başlamasında
B) Azınlıkların ayaklanmalar çıkarmasında
C) Islahat Fermanı'nın yayımlanmasında
D) Meşrutiyet'in ilan edilmesinde
E) Tanzimat Fermanı'nın yayımlanmasında

Prf Yayınları
PRF YAYINLARI

8. **Fransa'nın Mısır'ı işgal etmesi üzerine Osmanlı Devleti;**

I. İngiltere,
II. Rusya,
III. Almanya

devletlerinin hangilerinden yardım istemiştir?

A) Yalnız I B) Yalnız II C) I ve II
D) II ve III E) I, II ve III

9. **Rusya, 1770 yılında Osmanlı Devleti'nin aşağıdakilerden hangi limanına ani bir baskın yaparak donanmasını yakmıştır?**

A) Navarin B) Çeşme C) Sinop
D) Kırım E) Girit

10. I. Ziştovi Antlaşması
II. Yaş Antlaşması
III. Vasvar Antlaşması

Yukarıdaki antlaşmalardan hangileri XVIII. yüzyılda Osmanlı Devleti ile Avusturya arasında imzalanmıştır?

A) Yalnız I B) Yalnız II C) I ve III
D) II ve III E) I, II ve III

11. I. Bab-ı Âli Baskını
II. Navarin Baskını
III. Sinop Baskını

Batılı devletler yukarıdakilerden hangilerinde Osmanlı donanmasını yakmışlardır?

A) Yalnız I B) Yalnız II C) I ve II
D) II ve III E) I, II ve III

12. III. Selim, yapacağı yenilikler için Türk ve yabancı uzmanlara hazırlattığı layiha adı verilen raporları incelemiş ve devletin yeniden yapılanması için Meclisimeşveret (danışma meclisi) oluşturarak ıslahat yapma kararı almıştır. Yapılan yeniliklerde daha çok Fransa örnek alınmış, bu dönemde başta ordu olmak üzere ekonomi ve yönetim alanında köklü değişiklikler yapılmıştır.

Bu bilgilere göre, III. Selim dönemi yenilikleriyle ilgili aşağıdakilerden hangisine ulaşılamaz?

A) Farklı kesimlerin yeniliklere katkı yaptığına
B) Avrupa'daki gelişmelerin takip edildiğine
C) Sorunların temeline inilmek istendiğine
D) Islahatların şahıslara bağlı kaldığına
E) Osmanlı Devleti'nin askerî ve mali konularda sorunlar yaşadığına

13. **Aşağıdakilerden hangisi 1828-1829 Osmanlı Rus Savaşının sebepleri arasında yer almaz?**

A) Osmanlı donanmasının Navarin'de yakılması
B) Osmanlı Devleti'nin önemli bir gücü olan Yeniçeri Ocağının kaldırılması
C) Rusya ve İngiltere'nin Yunanlıların bağımsızlığını istemeleri
D) Osmanlı Devleti'nin Batılı devletlerden tazminat istemesi
E) Fransız İhtilali'nin yaydığı milliyetçilik akımı

14. ➘ Yunanistan bağımsız olacak.
➘ Eflak, Boğdan ve Sırbistan'a özerklik verilecek.
➘ Osmanlı Devleti, Rusya'ya savaş tazminatı ödeyecek.

maddeleri aşağıdaki antlaşmaların hangisinde yer almıştır?

A) 1898 İstanbul Antlaşması
B) Edirne Antlaşması
C) Bükreş Antlaşması
D) Berlin Antlaşması
E) Paris Antlaşması

Prf Yayınları
PRF YAYINLARI

DEVRİMLER ÇAĞINDA DEĞİŞEN DEVLET-TOPLUM İLİŞKİLERİ

Test - 1

1. **Fransız İhtilali'nin nedenleri arasında aşağıdakilerin hangisi gösterilemez?**

A) Yedi Yıl Savaşlarının masrafları
B) İtalya'nın parlamenter rejime geçmesi
C) Burjuvaların siyasi haklar istemesi
D) Fransız halkının sınıflara ayrılması
E) Aydınlanma Çağı'nın etkisi

2. **Osmanlı Devleti'nin ulusçuluk akımının etkilerini azaltmak için aldığı tedbirler arasında aşağıdakilerden hangisi gösterilemez?**

A) Tanzimat Fermanı'nın ilan edilmesi
B) Islahat Fermanı'nın kabul edilmesi
C) Kanun-i Esasi'nin yayımlanması
D) Meşrutiyet yönetimine geçilmesi
E) İstimalet politikasının uygulanması

3. **1864 yılında** "Uluslararası İşçi Birliği" **aşağıdaki ülkelerin hangisinde kurulmuştur?**

A) İngiltere
B) Fransa
C) Almanya
D) Rusya
E) Avusturya

4. **Yakın Çağ Avrupa tarihine ait aşağıda verilen neden - sonuç ilişkilerinden hangisinin doğru olduğu söylenemez?**

	Neden	Sonuç
A)	Fransız İhtilali	Sömürgeciliğin yayılması
B)	Viyana Kongresi	Monarşilerin güçlenmesi
C)	1848 İhtilali	İşçi sınıfının önem kazanması
D)	Sedan Savaşı	Almanya'nın birliğini kurması
E)	1830 İhtilali	Liberallerin güçlenmesi

5. I. Milliyetçilik
II. Millî egemenlik
III. Demokrasi

kavramlarından hangileri Fransız İhtilali'nden sonra Avrupa toplumlarında etkinlik kazanmıştır?

A) Yalnız I B) Yalnız II C) Yalnız III
D) II ve III E) I, II ve III

6. **Aşağıdakilerden hangisi 1830 İhtilallerinin nedenleri arasında gösterilemez?**

A) Feodalitenin yıkılması
B) Avrupa halklarında özgürlük arayışının yaygınlaşması
C) Kralların temel hakları kısıtlayıcı politikalar uygulaması
D) Kralların anayasayı kaldırmak istemesi
E) Başka milletlerin egemenliği altındaki halklarda milliyetçilik akımının güçlenmesi

7. **İhtilalden sonra Avrupa devletlerinin Fransa'ya savaş açmalarında,**

I. Amerika, Asya ve Afrika'da keşiflerin yapılması,
II. milliyetçi ve liberal fikirlerin kendi ülkelerine sıçramasını engellemek istemeleri,
III. Fransa'nın, Osmanlı Devleti ile iyi ilişkiler kurması

durumlarından hangileri ekili olmuştur?

A) Yalnız I B) Yalnız II C) Yalnız III
D) II ve III E) I, II ve III

Prf Yayınları
PRF YAYINLARI

8. Fransa ve Rusya XIX. yüzyılda Osmanlı Devleti'ndeki azınlıkları milliyetçilik isyanları çıkarmaları için kışkırtmışlardır.

Aşağıdaki amaçlardan hangisinin Fransa ve Rusya'nın bu politikalarında etkili olduğu savunulamaz?

A) Balkanları ele geçirmek
B) Akdeniz'de hâkimiyet kurmak
C) Osmanlı topraklarında Hristiyanlığı yaymak
D) Mısır'a yerleşmek
E) Osmanlı Devleti'ni parçalamak

9. Yer altı ve yer üstü kaynakları sömürülen Afrika başta olmak üzere dünyanın pek çok yerinde insanlar açlık ve sefalet içerisinde yaşamaktadır.

Bu durum öncelikle aşağıdaki siyasi ve ekonomik ideolojilerden hangisiyle ilişkilendirilebilir?

A) Liberalizm
B) Sosyalizm
C) Marksizm
D) Kapitalizm
E) Feodalizm

10. Fransız İhtilali sonrası yayımlanan İnsan Hakları Bildirisi'nde "Hiçbir kuruluş ve kişi, ulus adına verilmeyen bir yetkiyi kullanamaz." kararı yer almıştır.

Buna göre, bu bildirinin aşağıdaki yönetim biçimlerinden hangisine karşı yayımlandığı söylenemez?

A) Teokratik yönetim
B) Monarşik yönetim
C) Oligarşik yönetim
D) Meşrutiyet yönetimi
E) Mutlakiyet yönetimi

11. Fransız İhtilali'nin siyasal alanda neden olduğu sonuçlar arasında aşağıdakilerden hangisi gösterilemez?

A) Mutlak monarşilerin yıkılması
B) 1830 ve 1848 İhtilallerinin yaşanması
C) Anayasal ve demokratik yönetimlerin kurulması
D) Meşrutiyet rejimlerinin yaygınlaşması
E) Teokratik yönetimlerin güçlenmesi

12. Aşağıdakilerden hangisi Osmanlı Devleti'nde Fransız İhtilali'nin getirdiği fikirlerin etkisiyle yaşanan olumlu gelişmeler arasında gösterilemez?

A) Tanzimat Fermanı'nın ilan edilmesi
B) Kişi haklarına verilen önemin artması
C) Meşrutiyet rejimine geçilmesi
D) Anayasal yönetimin başlaması
E) Azınlık isyanlarının çıkması

13. XVII. yüzyılın başlarında liberal fikirlerin ortaya çıkmasında aşağıdaki sorunlardan hangisi etkili olmamıştır?

A) Durağan sosyal yapı
B) Ekonomik faaliyetlerde yaşanan kısıtlamalar
C) Milliyetçi ayaklanmalar
D) Devletin elinde tuttuğu gücün yoğunluğu
E) Dinî tutuculuk

14. Anayasal gelenek ilk defa aşağıdaki Avrupa ülkelerinin hangisinde başlamıştır?

A) Fransa
B) İngiltere
C) Almanya
D) Rusya
E) Avusturya

Prf Yayınları
PRF YAYINLARI

XIX VE XX. YÜZYILDA DEĞİŞEN GÜNDELİK HAYAT

Test - 1

1. **Osmanlı Devleti'nin Avrupa'da aldığı yenilgiler ve toprak kayıpları sonucunda Avrupa ve Balkanlarda yaşayanların Osmanlı topraklarına göç etmelerinin aşağıdakilerin hangisinde değişikliğe neden olduğu savunulamaz?**

A) Hâkimiyet anlayışında
B) Demografik yapıda
C) Gelirlerde
D) Güvenlik konularında
E) Kültürel yapıda

2. **XIX. yüzyılda,**

I. Balkanlar,
II. Kafkaslar,
III. Kırım

bölgelerinin hangilerinden Osmanlı Devleti'ne kitlesel göçler olmuştur?

A) Yalnız I B) Yalnız II C) Yalnız III
D) I ve III E) I, II ve III

3. **Aşağıdakilerden hangisi, XIX. yüzyılda Avrupa'daki siyasal ve ekonomik gelişmelerin Osmanlı Devleti üzerindeki etkileri arasında gösterilemez?**

A) İç isyanların çıkması
B) Anadolu'ya göçlerin olması
C) Matbaanın kurulması
D) Avrupa devletlerinin Osmanlı Devleti'nin iç işlerine müdahale etmesi
E) Demografik değişimlerin yaşanması

4. **Avrupa'da sendikalaşma faaliyetleriyle aşağıdakilerden hangisi amaçlanmıştır?**

A) İşçi haklarının savunulması
B) Çarpık yapılaşmanın önlenmesi
C) Üniter devlete geçilmesi
D) Popüler kültürün yaygınlaşması
E) Milliyetçilik isyanlarının durdurulması

5. **Aşağıdakilerden hangisi, Sanayi İnkılabı ile birlikte ekonomik, siyasi ve kültürel alanlarda meydana gelen yenilik ve değişikliklerden biri değildir?**

A) Nüfusun artması
B) Milliyetçilik akımının güçlenmesi
C) Teknolojik gelişmelerin yaşanması
D) Şehirleşme hareketlerinin hız ve yaygınlık kazanması
E) Kırsal kesimde ve şehirlerde insan hayatının değişmeye başlaması

6. İmparatorluklar içerisindeki milletler Fransız İhtilali'nden sonra ortaya çıkan milliyetçilik akımından etkilenerek özgürlüklerini almak için kral ve imparatorla mücadeleye girişmişlerdir. Krallar ve imparatorlar bu isyanları bastırmak için büyük mücadeleler vermiş ve Avrupa'da uzun yıllar süren savaşlar yaşanmıştır.

Bu durumun,

I. Avrupa'dan göçlerin yaşanması,
II. bazı milletlerin bağımsızlıklarını kazanması,
III. Sanayi İnkılabı'nın başlaması

sonuçlarından hangilerine neden olduğu savunulabilir?

A) Yalnız I B) Yalnız II C) Yalnız III
D) I ve II E) II ve III

7. **Fransa'nın XIX. yüzyılda** "Her millete bir devlet" **propagandasıyla aşağıdakilerden hangisini amaçladığı savunulabilir?**

A) Sömürgecilik faaliyetlerini başlatmayı
B) Çok uluslu devletleri parçalayıp hâkimiyet alanını genişletmeyi
C) Avrupa'da temel hak ve özgürlüklerin koruyucusu olmayı
D) Almanya'nın siyasi birliğini kurmasını sağlamayı
E) Kapitülasyonları genişletmeyi

Prf Yayınları
PRF YAYINLARI

8. Siyasi otoritenin tek merkezde toplandığı, merkezî otoritenin tek bir anayasa ile sağlandığı, yasama organının yaptığı kanunların tamamının bütün ülkede uygulandığı ve tek bloklu toplum yapısının benimsendiği siyasi oluşumdur.

Bu bilgilerde aşağıdakilerden hangisinin tanımı verilmiştir?

A) Mutlak monarşinin
B) İmparatorluğun
C) Üniter yapının
D) Eyalet sisteminin
E) Teokrasinin

9. XIX. yüzyılda Osmanlı Devleti'ne Balkanlardan, Kafkaslardan ve Kırım'dan kitlesel göçler olmuştur. Baskı ve katliamlara maruz kalan Müslüman ve gayrimüslim halkların Osmanlı topraklarına göç etmesi bazı sorunlara da yol açmıştır.

Osmanlı Devleti'nde,

I. göçmenlere arazi, tohumluk, ev gibi yardımlarda bulunulması,
II. Muhacirun Komisyonunun kurulması,
III. Muhacirun Kanunnamesi yayımlanması

faaliyetlerinden hangilerinin göçler sonrasında ortaya çıkan sorunları çözme amacına yöneliktir?

A) Yalnız I B) Yalnız II C) Yalnız III
D) II ve III E) I, II ve III

10. **XVIII. yüzyılda aşağıdakilerden hangisiyle Avrupa'da modern şehirler ortaya çıkmaya başlamıştır?**

A) Sekülerleşmeyle
B) Sanayileşmeyle
C) Demokratikleşmeyle
D) Millî devletlerin kurulmasıyla
E) Mezhep birliğinin bozulmasıyla

11. Millet bilincinin ve duygusunun devlet bilinciyle bütünleşmesi hâlinde bir anlam ifade edeceğini, bu bilincin ise ancak devletle mümkün olduğunu belirten Hegel, aksi durumda milletin bir anlamı olamayacağını savunmuştur.

Hegel'in bu yaklaşımıyla ilgili,

I. Millet söylemini devlet merkezli olarak ifade etmiştir.
II. Kuvvetler ayrılığı ilkesinin önemini vurgulamıştır.
III. Devletlerin aynı ırka mensup insanlardan oluşmasını savunmuştur.

yorumlarından hangilerine ulaşılabilir?

A) Yalnız I B) Yalnız II C) Yalnız III
D) II ve III E) I, II ve III

12. I. Şehirleşme ve demokratikleşme sürecinin hızlanması
II. Kitle iletişim araçlarının yaygınlaşması
III. Okur-yazarlık oranının artması

XVIII ve XIX. yüzyıllarda Avrupa'da kamuoyunun oluşmasında yukarıdakilerden hangilerinin etkili olduğu savunulabilir?

A) Yalnız I B) Yalnız II C) I ve III
D) II ve III E) I, II ve III

13. I. Sanayi İnkılabı
II. Fransız İhtilali
III. Reform Hareketleri

Yukarıdaki gelişmelerden hangileri Osmanlı Devleti'nin her alanda kendisini değiştirme ihtiyacı duymasına ve Avrupa medeniyetine yaklaşmasına zorlayan dış etkenler arasında gösterilebilir?

A) Yalnız I B) Yalnız II C) Yalnız III
D) I ve II E) II ve III

Prf Yayınları
PRF YAYINLARI

1.

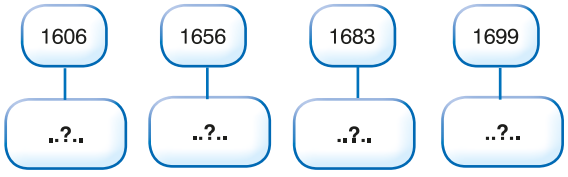

Yukarıda Osmanlı Devleti'ni ilgilendiren bazı gelişmelerin tarihleri verilmiştir.

..?.. ile boş bırakılan yerlere aşağıdakilerden hangisi getirilemez?

A) Çınar Olayı
B) Karlofça Antlaşması
C) Kasr-ı Şirin Antlaşması
D) II. Viyana Kuşatması
E) Zitvatorok Antlaşması

2. **Aşağıdakilerin hangisi Yunan İsyanı'nın nedenleri arasında yer almaz?**

A) Rum aydınlarının çalışmaları
B) Yeniçeri Ocağının kaldırılması
C) Avrupa devletlerinin kışkırtmaları
D) Fransız İhtilali'nin getirdiği milliyetçilik akımı
E) Fener Rum Patrikhanesinin Rumları isyana teşvik etmesi

3. II. Mahmut döneminde Maliye Nezareti,

- devlet harcamalarına karşılık olarak kurulan hazinelerin birleştirilmesi,
- gelir ve giderlerin mümkün olduğunca tek hazinede toplanması

amacıyla kurulmuştur.

Buna göre Maliye Nezaretinin aşağıdakilerden hangisini amaçladığı savunulabilir?

A) Ekonominin kontrolünü kolaylaştırmayı
B) Saray masraflarını kısıtlamayı
C) Dış borçlanma maliyetlerini düşürmeyi
D) Yeni gelir kaynakları oluşturmayı
E) Tarım üretiminden sanayi üretimine geçmeyi

4. Osmanlı Devleti'nde XVII. yüzyılda tımarları elinden alınan sipahiler ve savaş bitince işsiz kalan sekbanlar (tüfekli askerler), Celali İsyanlarının çıkmasında önemli rol oynamışlardır. Meslekleri askerlik olan bu grupların çoğu işsiz kaldıklarında eşkıyalıkla geçinme yolunu aramışlardır. Tımarları iade edildiğinde veya başka bir yolla orduda istihdam edildiklerinde ise devletin yanına geçmişlerdir.

Bu bilgilerde Celali İsyanlarının çıkmasında,

I. askerî,
II. dinî,
III. ekonomik

alanından hangilerindeki gelişmelerin etkisi vurgulanmak istenmiştir?

A) Yalnız I
B) Yalnız II
C) Yalnız III
D) I ve III
E) II ve III

5. **Asya, Avrupa ve Afrika kıtalarındaki çeşitli ülkeleri dolaşarak** "Seyahatname" **adlı ünlü eserini yazan Osmanlı seyyahı aşağıdakilerden hangisidir?**

A) Piri Reis
B) Katip Çelebi
C) Koçi Bey
D) Yirmisekiz Mehmet Çelebi
E) Evliya Çelebi

6. ▶ Osmanlı Devleti'nin Batı'da toprak kazandığı son antlaşmadır.
▶ Osmanlı Devleti Batı'da en geniş sınırlarına ulaştı.

Yukarıda bazı özellikleri verilen antlaşma aşağıdakilerden hangisidir?

A) Hotin
B) Bahçesaray
C) Bucaş
D) Zitvatorok
E) Serav

Prf Yayınları
PRF YAYINLARI

7. Osmanlı Devleti ile Rusya arasında 1700'de imzalanan İstanbul Antlaşması ile,

- Azak Kalesi Ruslara bırakıldı.
- Rusya İstanbul'da elçi bulundurabilecekti.

Buna göre Rusya'nın,

I. bağımsız devlet olma,
II. Karadeniz'de güçlenme,
III. Osmanlı Devleti'ndeki gelişmeleri takip etme

kazanımlarından hangilerini İstanbul Antlaşması ile kazandığı söylenemez?

A) Yalnız I B) Yalnız II C) Yalnız III D) I ve II E) II ve III

8. Osmanlı Devleti'nde dirlik toprakları dışında kalan miri arazilerin vergileri iltizam sistemi ile toplanıyordu. Bu sisteme göre, vergi gelirleri belirli bir süre için ve açık artırma yoluyla satılıyor, ihaleyi kazanan kişi vergi miktarını peşin olarak devlet hazinesine ödüyordu. XVII. yüzyıldan itibaren bazı dirlikler iltizama çevrilmeye başlanmıştır.

XVII. yüzyıldan itibaren iltizam sisteminin yaygınlaşmasının temel nedeni olarak aşağıdakilerden hangisi gösterilebilir?

A) Avrupalı devletlere kapitülasyonların verilmesi
B) Devletin nakit ihtiyacının artması
C) Yeniçeri Ocağının bozulması
D) Milliyetçilik isyanlarının başlaması
E) Merkezî otoritenin zayıflaması

9. **Aşağıdakilerden hangisi II. Osman'ı kendinden önce tahta geçen padişahlardan ayıran özelliklerden biridir?**

A) Ordunun başında sefere çıkması
B) Avrupa devletleri ile mücadele etmesi
C) Osmanlı hanedanına mensup olması
D) Islahatçı düşünceye sahip olması
E) Devleti Topkapı Sarayı'ndan yönetmesi

10. Osmanlı Devleti, 1593 - 1606 yılları arasında devam eden savaşlarda Avusturya'yı Haçova ve Kanije'de yenilgiye uğratmasına rağmen İran savaşları ve Celali İsyanları nedeniyle bu başarısını diplomatik alana taşıyamamıştır.

Aşağıdaki antlaşmalardan hangisi bu duruma kanıt olarak gösterilebilir?

A) İstanbul (1533)
B) Vasvar
C) Zitvatorok
D) Kasr-ı Şirin
E) Edirne Segedin

11. I. Meşrutiyet'in ilanından sonra, halkın seçeceği vekillerden oluşacak bir Mebuslar Meclisi ile padişahın seçeceği kişilerden oluşacak Âyan Meclisinin oluşturulması kabul edildi. Yasama yetkisi bu meclislerde olacaktı. Yasalar padişah tarafından onaylandıktan sonra yürürlüğe girecekti.

Bu bilgilere dayanarak,

I. Veraset sistemi değiştirilmiştir.
II. Padişahın otoritesi, ulus iradesinin üstünde kabul edilmiştir.
III. Halk, padişahın yanında yönetime katılmıştır.

yorumlarından hangilerine ulaşılabilir?

A) Yalnız I B) Yalnız II C) I ve II D) II ve III E) I, II ve III

12. **Avrupa devletleri İstanbul Tersane Konferansı'nı aşağıdaki sorunlardan hangisine çözüm bulmak amacıyla düzenlemişlerdir?**

A) Mısır
B) Mülteciler
C) Boğazlar
D) Kapitülasyonlar
E) Balkan Bunalımı

Prf Yayınları
PRF YAYINLARI

ÜNİTE ÖLÇME TESTİ

Test - 1

1. **İttihat ve Terakkinin güç kazandığı II. Meşrutiyet'in ilanından sonraki dönemde Osmanlı politikasında İngiliz dostluğunun yerini,**

I. Rusya,
II. Almanya,
III. Avusturya

devletlerinden hangilerinin aldığı söylenebilir?

A) Yalnız I B) Yalnız III C) I ve II
D) II ve III E) I, II ve III

2. Osmanlı Devleti ile Avusturya arasında imzalanan İstanbul Antlaşması'na (1533) göre, Avusturya kralı Osmanlı sadrazamına eşit kabul edilmiştir. Zitvatorok Antlaşması'na (1606) göre ise Avusturya arşidükü Osmanlı padişahına eşit sayılmıştır.

Bu durum Osmanlı Devleti'yle ilgili aşağıdakilerden hangisine kanıt olarak gösterilebilir?

A) Avusturya'ya karşı üstünlüğünü kaybettiğine
B) Avrupa'dan çekildiğine
C) Yeniçeri Ocağının bozulduğuna
D) Deniz kuvvetlerinin zayıfladığına
E) Timar sisteminin bozulduğuna

3. Rönesans döneminde daha önce papaların çevirisine izin vermedikleri İncil, Latinceden Avrupa dillerine çevrilerek okunmuş, bu durum kiliseye ve din adamlarına duyulan güveni sarsmıştır.

İncil'in millî dillere çevrilmesinin kilise ve din adamlarına güveni sarsmasının temel nedeni aşağıdakilerden hangisi olabilir?

A) Latincenin öneminin azalması
B) Milliyetçilik akımının güç kazanması
C) Avrupa dilleri arasında benzerlikler olması
D) İncil'de yazanlarla din adamlarının söylemlerinin farklı olması
E) Latince dışındaki dillerin de gelişmeye başlaması

4. **Osmanlı Devleti ile Rusya arasında 1724 yılında imzalanan İstanbul Antlaşması'yla aşağıdaki devletlerden hangisinin toprakları paylaşılmıştır?**

A) Avusturya B) Lehistan
C) Prusya D) İsveç
E) İran

5. **1621 yılında imzalanan Hotin Antlaşması Osmanlı Devleti ile aşağıdaki devletlerden hangisi arasında bir süreliğine barış ortamının kurulmasını sağlamıştır?**

A) Avusturya B) İran
C) Lehistan D) Venedik
E) Rusya

6. **Napolyon Savaşları sonrasında Avrupa haritası aşağıdaki konferansların hangisinde yeniden çizilmiştir?**

A) Viyana Kongresi
B) Berlin Konferansı
C) Londra Konferansı
D) İstanbul Konferansı
E) Paris Konferansı

7. Bir kara devleti olan Avusturya'nın asıl amacı denizlere ulaşmaktı. Bu nedenle Adriyatik ve Ege denizlerine kıyısı olan Balkan topraklarını kendisine genişleme alanı olarak seçmiştir.

Avusturya'nın bu politikası öncelikle aşağıdaki devletlerden hangisiyle mücadele etmesine yol açmıştır?

A) Rusya B) İngiltere
C) Osmanlı D) Fransa
E) Almanya

Prf Yayınları
PRF YAYINLARI

8. 1774'te imzalanan Küçük Kaynarca Antlaşması'na göre Rusya, Balkanlarda istediği yerlerde konsolosluklar açabilecekti.

Rusya'nın elde ettiği bu kazanımla,

I. Slav ve Ortodoks birliğini kurma,
II. Baltık Denizi üzerinden sıcak denizlere çıkma,
III. kapitülasyonlardan yararlanma

amaçlarından hangilerine ulaşmak istediği söylenebilir?

A) Yalnız I B) Yalnız II C) I ve II
D) I ve III E) II ve III

9. Osmanlı Devleti'nde XVII. yüzyılda görülen gelişmelerden bazıları şunlardır:

I. Kapitülasyonlar yaygınlaşmıştır.
II. Kapıkulu Ocağındaki asker sayısı artmıştır.
III. Baharat Yolu'nun işlerliği azalmıştır.
IV. Sık sık padişah değişikliği yaşanmıştır.

Bu gelişmelerden hangilerinin Osmanlı giderlerinin artmasına yol açtığı savunulabilir?

A) I ve II B) II ve III C) II ve IV
D) I, II ve III E) II, III ve IV

10. Osmanlı Devleti'nde,

I. Sened-i İttifak'ın imzalanması,
II. Yeniçeri Ocağının kaldırılması,
III. Islahat Fermanı'nın ilan edilmesi

gelişmelerinin hangilerinde Fransız İhtilali'nin getirdiği ilke ve anlayışların etkili olduğu savunulabilir?

A) Yalnız I B) Yalnız II C) Yalnız III
D) I ve II E) II ve III

11. Osmanlı Devleti Karlofça Antlaşması ile kaybettiği toprakları geri alabilmek için XVIII. yüzyıl başında,

I. Venedik,
II. Avusturya,
III. Lehistan

devletlerinin hangileriyle savaşmıştır?

A) Yalnız I B) Yalnız II C) Yalnız III
D) I ve II E) I, II ve III

12. Avrupa devletlerinin Balkan Bunalımını görüşmek üzere 1876'da topladıkları İstanbul Konferansı'nda aldıkları kararlar Osmanlı Meclisinde görüşülürken, Sadrazam Mehmet Paşa, "Hayat ruh ile kaimdir, devletlerin ruhu istiklalleridir; yapılan teklifler devletimizin ruhunu ortadan kaldırarak bizi ruhsuz bir beden hâline döndürür." demiştir.

Buna göre,

I. Osmanlı Mebusan Meclisi dış politikaya ait konuları ele almıştır.
II. İstanbul Konferansı'nda Osmanlı çıkarlarına aykırı kararlar alınmıştır.
III. Osmanlı Devleti'nde meşruti yönetime geçilmiştir.

yargılarından hangileri ileri sürülebilir?

A) Yalnız I B) Yalnız II C) I ve III
D) II ve III E) I, II ve III

13. Osmanlı Devleti'nde Darülfununda okutulacak ders kitaplarını hazırlamak amacıyla aşağıdakilerden hangisi kurulmuştur?

A) Sanayi-i Nefise
B) Encümen-i Daniş
C) Darülmaarif
D) Şükufezar
E) Galatasaray Sultanisi

Prf Yayınları
PRF YAYINLARI

ÖZEL TEST (İLERİ DÜZEY SORULAR) Test - 1

1. Avrupa devletlerinin, Osmanlı Devleti'ndeki Müslüman olmayanlara yönelik hakların yeterli olmadığı, onlara yeni haklar verilmesi gerektiği yönündeki baskılar Osmanlı Devleti'nin Islahat Fermanı'nı ilan etmesinde etkili olmuştur.

Buna göre Avrupa devletlerinin aşağıdakilerin hangisindeki düzenlemeleri yetersiz gördükleri söylenebilir?

A) Kanun-i Esasi
B) Sened-i İttifak
C) Muharrem Kararnamesi
D) Balta Limanı Antlaşması
E) Tanzimat Fermanı

2. **Osmanlı Devleti'nin XVIII. yüzyılda,**

I. Avrupa tarzında ıslahatlar yapma,
II. kaybettiği toprakları geri alma,
III. Akdeniz ticaretini canlandırma

politikalarından hangilerinin savaşlara neden olduğu savunulabilir?

A) Yalnız I B) Yalnız II C) Yalnız III
D) I ve II E) II ve III

3. **Lale Devri'nde aşağıdaki yeniliklerden hangisinin ahşap evlerin bulunduğu İstanbul mahallelerindeki yangınların yol açtığı can ve mal kayıplarını azaltmaya yönelik olduğu savunulabilir?**

A) Saray ve köşklerde barok ve rokoko mimarisinin kullanılmasının
B) III. Ahmet Çeşmesi'nin yapılmasının
C) Bahçe mimarisine önem verilmesinin
D) Tulumbacılar Ocağının kurulmasının
E) Çini imalathanesi kurulmasının

4. Panslavizm; Rusya'nın Slav asıllı bütün halkları kendi yönetimi altında toplayarak dünya Slav birliğini sağlama amacını ifade eder. Rusya'nın Panslavist politikalarına en çok Avusturya ve Osmanlı Devleti karşı çıkmıştır.

Osmanlı Devleti ve Avusturya'nın Panslavizm politikasına karşı çıkmalarında,

I. Rusya'nın mutlakıyetle yönetilmesi,
II. Avusturya'nın da Alman birliğini kurmak için çalışması,
III. iki devletin toprakları üzerinde Slav asıllı ulusların bulunması

durumlarından hangilerinin etkili olduğu savunulabilir?

A) Yalnız I B) Yalnız II C) Yalnız III
D) I ve III E) I, II ve III

5. I. Coğrafi Keşifler
II. Fransız İhtilali
III. Sanayi İnkılabı

Yukarıdakilerden hangileri, Avrupa dışındaki bölgeleri de etkilemiştir?

A) Yalnız I B) Yalnız II C) Yalnız III
D) I ve III E) I, II ve III

6. Sanayi İnkılabı'nın gelişmesine paralel olarak bankalar, borsalar ve sigorta şirketleri kurulmuş, kağıt para, çek, senet, bono gibi değişim araçlarının kullanımı yaygınlaşmıştır.

Bu durumun aşağıdakilerden hangisine bağlı olarak ortaya çıktığı savunulabilir?

A) Ticaretin gelişmesine
B) El tezgahlarının kapanmasına
C) İşçi sınıfının ortaya çıkmasına
D) Şehirlerde nüfusun artmasına
E) İletişimin yaygınlaşmasına

Prf Yayınları
PRF YAYINLARI

7. Coğrafi Keşiflerden sonra Osmanlı topraklarından geçen kervan ticaret yolları okyanuslara taşınmıştır. Bu gelişmelerin etkisiyle Osmanlı ülkesindeki ticari canlılık azalmış ve kervan yolları üzerindeki halkın bir kısmı işsiz kalmıştır.

Bu bilgilere göre Coğrafi Keşifler,

I. sosyal,
II. ekonomik,
III. düşünce hayatı

alanların hangilerinde Osmanlı İmparatorluğu'nu olumsuz yönde etkilediği savunulabilir?

A) Yalnız I B) Yalnız II C) Yalnız III
D) I ve II E) II ve III

8. **Osmanlı Devleti'nde Celali İsyanlarının,**

I. tarım,
II. ticaret,
III. ülke yönetimi

alanlarının hangilerindeki işleyişi olumsuz yönde etkilediği söylenebilir?

A) Yalnız I B) Yalnız II C) Yalnız III
D) I ve III E) I, II ve III

9. **XIX. yüzyılda Osmanlı Devleti'nde,**

- II. Mahmut'un âyanlarla Sened-i İttifak'ı imzalaması,
- Tanzimat Fermanı'nın ilan edilmesi,
- Kanun-i Esasi'nin ilan edilmesi

gelişmelerinin ortak sonucu aşağıdakilerden hangisidir?

A) Azınlık haklarının genişletilmesi
B) Osmanlıcılık fikrinin güçlenmesi
C) Padişahların yetkilerinin sınırlandırılması
D) Batı ile ilişkilerin gelişmesi
E) Avrupalıların, Osmanlı Devleti'nin iç işlerine karışması

10. XIX. yüzyılda Osmanlı Devleti, denge politikası izleyerek Avrupa devletleri arasındaki rekabetten yararlanma yolunu seçti. Bunun bir sonucu olarak da kimi zaman Rusya, kimi zaman da İngiltere ve Fransa ile ittifaklar kurarak varlığını sürdürmeye çalıştı.

Osmanlı Devleti'nin bu politikasının şekillenmesinde aşağıdakilerden hangisinin etkili olduğu söylenebilir?

A) Batılı tarzda ıslahat hareketlerinde bulunmasının
B) Topraklarını tek başına koruyabilecek güçten yoksun olmasının
C) Ortodoks Kilisesini himaye altına almasının
D) İslam dünyasında siyasi birliği sağlamak istemesinin
E) İpek ve Baharat Yollarının yön değiştirmesinin

11. **Aşağıdaki devletlerden hangisi, Coğrafi Keşifler, Rönesans ve Reform hareketlerinin başlamasında doğrudan rol oynamamıştır?**

A) İngiltere B) İspanya
C) Almanya D) Portekiz
E) İtalya

12. Zitvatorok Antlaşması'na göre Eğri, Kanije ve Estergon kaleleri Osmanlı Devleti'ne bırakılacak ve Avusturya Osmanlı Devleti'ne savaş tazminatı ödeyecekti. Buna karşılık Avusturya'nın Osmanlı Devleti'ne ödediği yıllık vergi kaldırılacak ve Avusturya arşidükü bundan böyle protokolde Osmanlı padişahına eşit sayılacaktı.

Bu bilgilerden yola çıkarak,

I. Avusturya, Osmanlı Devleti'ne askerî üstünlüğünü kabul ettirmiştir.
II. Zitvatorok Antlaşması Osmanlı Devleti ile Avusturya arasında imzalanan ilk antlaşmadır.
III. Avusturya, siyasi alanda Osmanlı Devleti ile eşit statüye sahip olmuştur.

yargılarından hangilerine ulaşılabilir?

A) Yalnız I B) Yalnız II C) Yalnız III
D) I ve II E) I ve III

Prf Yayınları
PRF YAYINLARI

ÖZEL TESTİN ÇÖZÜMLERİ - 1

ÇÖZÜM

1. Osmanlı Devleti'nin 1839 yılında ilan ettiği Tanzimat Fermanı'na göre;

- Kanun önünde herkes eşit sayılacaktı.
- Vergiler herkesin gelirine göre toplanacaktı.
- Hiç kimseye yargılanmadan ve sorgulanmadan ceza verilmeyecekti.
- Mahkemeler herkese açık olarak yapılacaktı.
- Kişilere mülkiyet hakkı tanınacaktı.
- Askerlik işleri düzene sokulacaktı.
- Müsadere usulü kaldırılacaktı.

Avrupalı devletler azınlıkları bahane ederek Osmanlı Devleti'nin iç işlerine müdahaleye devam etmiştir. Osmanlı Devleti de Islahat Fermanı'nı ilan ederek azınlık haklarını genişletmek zorunda kalmıştır.

Cevap E

ÇÖZÜM

2. Osmanlı Devleti Karlofça ve İstanbul Antlaşmalarıyla toprak kaybetmişti. XVIII. yüzyıl başlarında kaybettiği toprakları geri almak için Rusya, Venedik ve Avusturya ile savaşlar yapmıştı.

Bu soruda XVIII. sınırlamasına dikkat edilmelidir.

Cevap B

ÇÖZÜM

3. XVIII. yüzyılın başlarına kadar yangın tulumbası bilinmiyordu. Yangın sarnıçlarından taşınan suyu dökerek söndürülmeye çalışılıyordu. Ailesiyle beraber İstanbul'a gelerek İslam dinini kabul eden ve Gerçek Davud adını alan bir Fransız mühendis tersane önünde demirli bir geminin yandığını görmüştü. Sık sık çıkan yangınların İstanbul'da büyük tahribat yaptığını da dinlemiş, bu afete karşı bir yangın tulumbası icat etmiş, aynı yıl içinde Tüfekhanede çıkan büyük bir yangına tulumbasını alarak koşmuş, etrafına toplanan gençlerin de yardımı ve o tek tulumbasıyla bulunduğu noktada ateşi tutmuştu. Bunun üzerine Nevşehirli Damat İbrahim Paşa, yangınlara karşı 1720'de Tulumbacı Ocağı'nı kurmak üzere Fransız asıllı Müslüman bir mühendis olan Gerçek Davud'u (David) görevlendirmiştir.

Cevap D

ÇÖZÜM

4. Sorunun öncülünde verilen tanımda da görüldüğü üzere Rusya Slavları kendi yörüngesinde tutmak istemektedir. Slavlar Osmanlı ve Avusturya topraklarında yaşadıkları için bu devletlerin Rusya'nın müdahalelerine karşı çıkmaları doğal bir durumdur.

Cevap C

ÇÖZÜM

5. Coğrafi Keşifler ve Sanayi İnkılabı ekonomik yönden bütün dünya uluslarını olumlu veya olumsuz yönde etkilemiştir.

Fransız İhtilali, milliyetçilik, eşitlik, adalet, hürriyet, laiklik gibi getirdiği ilkelerle dünya milletlerini siyasi, sosyal, hukuk gibi alanlarında etkilemiştir.

Cevap E

ÇÖZÜM

6. Bankalar, borsalar ve sigorta şirketleri, kağıt para, çek, senet, bono ticaretin gelişmesi sonucunda ortaya çıkan kavram ve kuruluşlardır.

Cevap A

Prf Yayınları
PRF YAYINLARI

ÇÖZÜM

7. Asya'dan Avrupa'ya kervanlarla kara yolu üzerinden yapılan ticaret Coğrafi Keşifler ile okyanuslar üzerinden yapılmaya başlandı. Ticaret yollarının değişmesi nedeniyle Osmanlı şehirleri ve ekonomisi büyük zarar gördü. Böylece söz konusu güzergâhta para kullanımı geriledi. Bu gerilemeyi artıran bir diğer neden Anadolu'da ortaya çıkan Celâli İsyanlarıdır. Bu iç karışıklık geleneksel idari ve mali yapıda büyük zararlara yol açtı. XVII. yüzyılın son çeyreğinde devletin para üzerindeki hâkimiyetinin zayıflaması sonucunda ekonomik hayattaki etkinlik de zayıfladı... Coğrafi Keşifler Osmanlı ekonomisini ve sosyal hayatını olumsuz yönde etkilemiştir.

Cevap D

ÇÖZÜM

8. Celâli İsyanları, Yavuz Sultan Selim döneminde başlamıştır. Bu isyanların, Celâli İsyanları olarak adlandırılması Tokat ve çevresinde isyan eden Bozoklu Celâl'den gelmektedir. XVII. yüzyıla kadar devam eden Celâli İsyanları kısa zamanda geniş bir taraftar kitlesine ulaştı. Bu dönemde çıkan isyanların geneline Celâli İsyanları adı verilir.

İsyanlardan dolayı tarımsal ve hayvansal üretim düşmüş, işsizlik artmıştır. Köylerden şehirlere yapılan göçler sebebiyle kırsal nüfus azalmıştır. Göç, şehir hayatında yeni sorunları doğurmuştur. Ekonomik açıdan ise vergilerin düzenli toplanamayışı Osmanlı ekonomisini zayıflatmıştır.

Cevap E

ÇÖZÜM

9.
- Devlet ile tebaa arasında yapılan ve bir çeşit anlaşmaya benzeyen "Sened-i İttifak", Osmanlı tarihinde örneği olmayan bir belgedir. Devlet, Anadolu'da ve Rumeli'de güçlenmiş ve bir bakıma özerkliğini ilan etmiş olan âyanların varlıklarını, bu senetle kabul edip hukuki hâle getirdi. Bu belge ile bazı yetkilerinden zorunlu olarak vazgeçmesiyle padişahın yetkileri sınırlandırıldı.
- Tanzimat Fermanı, II. Mahmut'un hükümdarlığının son yıllarına doğru devletin iç ve dış nedenlerle dağılma tehlikesi ile karşılaşması üzerine devleti bu durumdan kurtarmak için bir çare olarak düşünülmüştür. Tanzimat Fermanı'nın ilan edilmesinden sonra, Sultan Abdülmecit, bu fermanın şartlarına uyacağına dair ant içmiştir. Böylece Anayasal yönetim ve demokratikleşme yolunda önemli bir adım atılmış ve padişahın yetkileri sınırlandırılmıştır.
- Kanun-i Esasi ile Osmanlı halkı yönetime ortak olmuş, padişaha bazı sınırlamalar getirilmiştir.

Cevap C

ÇÖZÜM

10. XIX. yüzyılda Osmanlı Devleti zayıfladı ve Avrupa devletlerinin baskısı arttı. Büyük devletlerin Osmanlı coğrafyasında siyasi, ekonomik ve stratejik emelleri vardı. Bu emeller ortak olduğu için Avrupa devletlerinin politikaları da birbiriyle çatışıyordu. Osmanlı Devleti bu durumu değerlendirerek ayakta kalabilmek için Rusya ile sorun yaşadığında İngiltere ve Fransa'da destek istiyordu.

Cevap B

ÇÖZÜM

11. Portekiz ve İspanya Coğrafi Keşiflere, İtalya Rönesans Hareketlerine, Almanya Reform Hareketlerine öncülük etmiştir.

İngiltere ise Sanayi İnkılabına öncülük etmiştir.

Cevap A

ÇÖZÜM

12.
- Zitvatorok Antlaşması, Osmanlı Devleti'nin galibiyetiyle sonuçlanan Haçova Savaşı'ndan sora imzalandığı için I. öncüle ulaşılamaz.
- Osmanlı Devleti ile Avusturya arasında imzalanan ilk antlaşma 1533 yılındaki İstanbul Antlaşması olduğu için II. öncüle ulaşılamaz.
- Ön bilgideki "Avusturya arşidükü bundan böyle protokolde Osmanlı padişahına eşit sayılacaktı." ifadesinden III. öncüle ulaşılabilir.

Cevap C

Prf Yayınları

PRF YAYINLARI

XX. YÜZYIL BAŞLARINDA OSMANLI DEVLETİ VE DÜNYA

Test - 1

1. Farklı dil, din, kültür ve yaşam tarzlarının egemen olduğu Manastır; 19. yüzyılda Güney Balkanların Selanik'ten sonra ikinci büyük şehriydi. Bölgenin en büyük limanına sahip Selanik'e demir yolu bağlantısı bulunan Manastır, Rumeli içlerine doğru uzanan ticaret yolu üzerinde bulunuyordu. Şehir, 1881'den sonra vilayet merkezi olmuş, 3. Ordu Karargâhına da ev sahipliği yapmıştı.

Bu bilgilere göre Manastır'ın,

I. askerî,
II. stratejik,
III. ekonomik

alanların hangilerinde önemli bir merkez olduğu söylenebilir?

A) Yalnız I B) I ve II C) I ve III
D) II ve III E) I, II ve III

2. Mustafa Kemal, öğrencilik yıllarında Jean Jack Rousseau, Montesquieu, Voltaire gibi Fransız İhtilali'nin düşünürlerinin eserlerini okumuştur.

Bu durumun Mustafa Kemal'in,

I. inkılapçılık,
II. çağdaşlaşma,
III. millî egemenlik

ilkelerinden hangilerini benimsemesi üzerinde etkili olduğu savunulabilir?

A) Yalnız I B) Yalnız II C) Yalnız III
D) I ve III E) I, II ve III

3. **Aşağıdakilerden hangisi Mustafa Kemal'in yazdığı kitaplardan biri <u>değildir</u>?**

A) Geometri
B) Zabit ve Kumandan İle Hasbihal
C) Cumalı Ordugâhı
D) Türk'ün Ateşle İmtihanı
E) Bölüğün Muharebe Eğitimi

4. **Aşağıdakilerden hangisi Mustafa Kemal ile ilgili doğru bir bilgi <u>değildir</u>?**

A) İlk görev yeri Trablusgarp'tır.
B) Eğitim hayatı Selanik, Manastır ve İstanbul'daki okullarda geçmiştir.
C) Şam'da Vatan ve Hürriyet Cemiyetini kurmuştur.
D) Ordunun politikadan uzak durmasını savunarak İttihat ve Terakki Cemiyetinden ayrılmıştır.
E) I. Dünya Savaşı'nda Çanakkale, Kafkas ve Suriye Cephelerinde görev almıştır.

5. Mustafa Kemal eğitim yıllarında, tarih ve edebiyat derslerine ilgi duymuş, Ziya Gökalp, Namık Kemal, Mehmet Emin Yurdakul gibi Türk aydınların eserlerini okumuştur.

Bu durumun Mustafa Kemal'de aşağıdakilerden hangisinin gelişmesinde etkisi olduğu <u>söylenemez</u>?

A) Tarih bilincinin
B) Hitabet gücünün
C) Savaş deneyiminin
D) Güzel yazı yazma yeteneğinin
E) Vatan sevgisinin

6. Mustafa Kemal, ilk görev yeri olan Şam'da bulunduğu sırada ülkenin içinde bulunduğu durumdan kurtulması için Vatan ve Hürriyet Cemiyeti'nin kuruluşuna öncülük etmiştir. "Niçin hürriyet, niçin vatan?" sorusuna, "Ancak hür fikirli insanlardır ki vatanlarına faydalı olabilirler. Onlar ki vatanlarını kurtarıp muhafaza etmek kudretine malik olurlar." diyerek cevap vermiştir.

Bu bilgilere göre Vatan ve Hürriyet Cemiyetinin aşağıdaki amaçlardan hangisine yönelik bir çalışma yapması <u>beklenmez</u>?

A) Millî duyguları yükseltme
B) Hilafet ve saltanat makamına bağlılığı artırma
C) Vatan ve millet sevgisini artırma
D) Düşünce özgürlüğünü geliştirme
E) Demokrasi fikrini yayma

Prf Yayınları
PRF YAYINLARI

7. "Bir gün kurmay subay olamazsan ne yaparsın?" diye yarı ciddi yarı şaka takılan sınıf arkadaşı Arif'i anında susturmuş: "Seni bilmiyorum fakat ben kesinlikle kurmay subay olacağım." demiştir. Nitekim Mustafa Kemal kurmay olmuş, Arif ise yüzbaşı olarak okuldan çıkmıştır.

Bu anekdot Mustafa Kemal'in kişisel özelliklerinden daha çok hangisinin göstergesidir?

A) Kararlılık
B) İleri görüşlülük
C) Teşkilatçılık
D) Vatanseverlik
E) Milliyetçilik

8. Mustafa Kemal'in çocukluk ve gençlik yılları farklı kültürlerin iç içe yaşandığı ve yeni fikirlerin tartışıldığı Makedonya'daki Selanik şehrinde geçmiştir.

Bu durumun Mustafa Kemal'in kişisel özelliklerinden hangisi üzerinde doğrudan etkili olduğu söylenebilir?

A) İleri görüşlü olması
B) Sabırlı ve disiplinli olması
C) Yenilikçi ve demokrat olması
D) Teşkilatçı ve birleştirici olması
E) Askerlik mesleğini çok sevmesi

9. Mustafa Kemal, Sofya Ataşemiliterliği zamanında Avrupa devletlerinin temsilcileriyle bir araya gelmiş, bu sayede birçok devletin hem siyasi anlayışlarını hem de Osmanlı Devleti hakkındaki düşüncelerini öğrenme fırsatı bulmuştur.

Bu bilgilere göre Sofya Ataşemiliterliği görevinin Mustafa Kemal'e daha çok hangi alanda deneyim kazandırdığı söylenebilir?

A) Askerlik
B) Hukuk
C) Ekonomi
D) Diplomasi
E) Din

10. XX. yüzyıl başlarında gelişen sanayisi için ham madde ve pazar arayışına giren İtalya, Osmanlı egemenliğindeki Trablusgarp'ı işgal etti. Osmanlı Devleti, ne karadan ne de denizden yardım gönderebiliyordu. Osmanlı Devleti'nin bu durumu karşısında Mustafa Kemal'in de içinde bulunduğu bir grup genç subay, gönüllü olarak Trablusgarp'a gitti. Mustafa Kemal, yerli aşiretleri başarıyla yöneterek İtalyanların Trablusgarp içlerine girmesine izin vermedi.

Bu durum Mustafa Kemal ile ilgili olarak aşağıdakilerden hangisinin göstergesi olamaz?

A) Teşkilatçılık yönünün güçlü olduğunun
B) Meşruti yönetimin devam etmesinden yana olduğunun
C) Askerlik mesleğinde deneyim edindiğinin
D) İşgal hareketlerine duyarsız kalmadığının
E) Vatan savunmasına destek sağladığının

11. Trablusgarp Savaşı'nda Derne ve Tobruk'ta yenilgiye uğrayan İtalya, Türk subaylarının direnişini kırmak ve Osmanlı Devleti'ni barışa zorlamak için;

I. Çanakkale Boğazı'nı abluka altına alma,
II. On İki Ada ve Rodos'u da işgal etme,
III. İttifak Devletlerinden ayrılıp İtilaf Devletlerine katılma

girişimlerinden hangilerini gerçekleştirmiştir?

A) Yalnız I
B) Yalnız II
C) Yalnız III
D) I ve II
E) I, II ve III

12. 18 Ekim 1918'de imzalanan Uşi Antlaşması'na göre; Trablusgarp ve Bingazi İtalya'da kalacak fakat bölge halkı dinî yönden Osmanlı Halifesi'ne bağlı kalacaktı.

Osmanlı Devleti'nin antlaşmayı bu şekilde imzalamasının en önemli nedeni aşağıdakilerden hangisidir?

A) Halifelik makamının siyasi gücünü kullanmak
B) Bölge halkı ile kültürel bağını devam ettirmek
C) Balkan Savaşlarındaki mücadelesini hızlandırmak
D) Osmanlı Devleti'nin dağılmasını geciktirmek
E) Kuzey Afrika'daki varlığını sürdürmek

Prf Yayınları
PRF YAYINLARI

MİLLÎ MÜCADELE (HAZIRLIK DÖNEMİ)

Test - 1

1.
- Erzurum Müdafaa-i Hukuk-u Milliye Cemiyeti, İstanbul'daki Anlaşma Devletleri temsilcilerine ve basın cemiyetlerine çektiği telgraflarla İzmir'in işgalini kınamıştır.
- Halide Edip Adıvar, İzmir'in işgali nedeniyle İstanbul'da 19 Mayıs 1919'da yapılan mitingde yaptığı konuşmada, "bu karanlık gecenin parlak bir sabahı olacağını" söylemiştir.
- İzmir'in işgali Erzurum ve Kütahya'da yapılan mitinglerle protesto edilmiştir.

Buna göre İzmir'in işgali ile aşağıdakilerden hangisi arasında ilişki kurulabilir?

A) Türk milliyetçiliği bilincinin uyanması
B) Osmanlı Mebusan Meclisinin toplanması
C) Misakımillî kararlarının alınması
D) Osmanlı ordusunun terhis edilmesi
E) Mondros Ateşkes Anlaşması'nın imzalanması

2. **Millî Mücadele Dönemi'nde İzmir işgalinin haksızlığını gösteren, millî mücadelenin doğruluğunu ispatlayan uluslararası belge aşağıdakilerden hangisidir?**

A) Generel Harbourd Raporu
B) Amiral Bristol Raporu
C) Lozan Antlaşması
D) Mudanya Ateşkes Antlaşması
E) Malche Raporu

3. Mondros Ateşkes Anlaşması'ndan sonra Osmanlı ordusunun terhis edilmesi, yönetim düzeninin bozulması ve işgallerin başlaması ile hem Türkler hem de azınlıklar tarafından millî varlığa zarar verecek nitelikte pek çok cemiyet kurulmuştur.

Bu bilgilere göre zararlı cemiyetlerin kurulmasına aşağıdakilerden hangisinin ortam hazırladığı söylenebilir?

A) Kuvayımilliye birliklerinin kurulmasının
B) TBMM'nin açılmasının
C) Osmanlıcılık fikrinin önemini kaybetmesinin
D) Ülkede otorite boşluğu yaşanmasının
E) Azınlıkların manda ve himaye fikrine karşı olmalarının

4. Kuvayımilliye birlikleri,
- Düzenli ordu kuruluncaya kadar işgalcilere karşı vatanı savunmuşlardır.
- İç isyanların bastırılmasında önemli rol oynamışlar, Rum ve Ermeni çeteleriyle mücadele etmişlerdir.

Buna göre Kuvayımilliye birliklerinin aşağıdakilerden hangisine katkı sağladıkları söylenemez?

A) Millî bilincin oluşmasına
B) Düzenli ordunun kurulması ve teşkilatlanması için zaman kazanılmasına
C) Millî Mücadele için gereken ekonomik kaynakların temin edilmesine
D) Düşman ordularının ilerleyişinin yavaşlatılmasına
E) Millî birlik ve beraberliğin korunmasına

5. **Millî Mücadele Dönemi'nde Çukurova ve çevresini Fransız ve Ermeni işgallerinden kurtarmak amacıyla kurulan cemiyet aşağıdakilerden hangisidir?**

A) Teali İslam Cemiyeti
B) Millî Kongre Cemiyeti
C) Kilikyalılar Cemiyeti
D) Sulh ve Selameti Osmaniye
E) Hürriyet ve İtilaf Fırkası

6. **Aşağıdaki eşleştirmelerden hangisinde bir yanlışlık yapılmıştır?**

A) **Kafkas Ordusu** - Azerbaycan Türklerini Ermeni ve Gürcü saldırılarından korumak için oluşturulan ordu
B) **Katma Savaşı** - Mustafa Kemal'in Suriye- Filistin Cephesi'ndeki görevi sırasında isyancı Arap güçleri ile 26 Ekim 1918'de yaptığı mücadele
C) **Fahrettin Paşa** - I. Dünya Savaşı'nda Medine Müdafaası ile meşhur olan Osmanlı subayı
D) **Monroe Doktrini** - İngiltere'nin, ABD'nin işlerine karışmaması buna karşılık da ABD'nin İngiltere'den uzak durmasını ifade eden siyasi görüş
E) **Kut'ül Amâre Zaferi** - Osmanlı ordularının Irak Cephesi'nde İngilizlere karşı kazandığı askerî başarı

Prf Yayınları
PRF YAYINLARI

7. **Mustafa Kemal aşağıdaki hangi gelişmenin ardından askerlik mesleğinden istifa ederek sine-i millete dönmüştür?**

A) Samsun Raporu
B) Havza Genelgesi
C) Amasya Genelgesi
D) Erzurum Kongresi
E) Sivas Kongresi

8. Aşağıda Mondros Ateşkes Anlaşması'ndan sonra kurulan cemiyetlerden bazılarının amaçları verilmiştir:

I	Karadeniz kıyılarında bir Rum devleti kurmak
II	Batı Anadolu ve Trakya'nın Yunanistan'a katılmasını sağlamak
III	Osmanlı Devleti'nin, ABD mandası altına girmesini sağlamak
IV	İzmir ve çevresinin Yunanistan'a verilmesini engellemek
V	Çukurova bölgesinde Fransız ve Ermeni işgallerini engellemek

Bu amaçlar ve ilgili cemiyetler aşağıdakilerin hangisinde yanlış eşleştirilmiştir?

A) I Pontus
B) II Taşnak ve Hınçak
C) III Wilson İlkeleri
D) IV Redd-i İlhak
E) V Kilikyalılar

9. **Aşağıdaki cemiyetlerden hangisi millî cemiyetler arasında yer almaz?**

A) Trakya-Paşaeli
B) Millî Kongre
C) Şark Vilayetleri Müdafaa-i Hukuk
D) Hürriyet ve İtilaf
E) Kilikyalılar

10. Redd-i İlhak Cemiyeti Yunanlılara karşı mücadele eden Kuvayımilliye direnişini örgütlemek amacıyla Balıkesir ve Alaşehir Kongrelerini toplamıştır.

Buna göre Redd-i İlhak Cemiyetinin aşağıdakilerden hangisine doğrudan katkı sağladığı söylenebilir?

A) Batı Cephesi'nin oluşturulmasına
B) Amasya Genelgesi'nin yayımlanmasına
C) Millî cemiyetlerin birleştirilmesine
D) Temsil Heyetinin kurulmasına
E) İrade-i Milliye gazetesinin çıkarılmasına

11. ---- İstanbul'da Rum Patrikhanesi tarafından kurulan bu cemiyet Bizans İmparatorluğu'nu yeniden canlandırmayı hedefliyordu.

Bu açıklama Mondros Mütarekesinden sonra kurulan hangi cemiyetle ilgilidir?

A) Etniki Eterya
B) Mavri Mira
C) Pontus Rum Cemiyeti
D) Alyans İsrailit
E) Taşnak Cemiyeti

12. I. Hınçak, Taşnak — Ermeni
II. Alyans İsrailit, Makabi — Yahudi
III. Mavri Mira, Etniki Eterya — Rum

Azınlık cemiyetleri ile ilgili yukarıdaki eşleştirmelerden hangileri doğrudur?

A) Yalnız I B) Yalnız II C) Yalnız III D) I ve II E) I, II ve III

13. **Aşağıdakilerden hangileri Kuvayımilliye'nin olumlu yönlerinden biri değildir?**

A) Düzenli ordu kuruluncaya kadar Yunan ilerleyişini geciktirmeleri
B) Ayaklanmaların bastırılmasında TBMM'ye yardımcı olmaları
C) Millî bilincin doğması ve yaygınlaşmasına destek olmaları
D) Düzenli orduların çekirdeğini oluşturmaları
E) Bölgesel hareket etmeleri

Prf Yayınları
PRF YAYINLARI

ATATÜRKÇÜLÜK VE TÜRK İNKILABI (ATATÜRK İLKELERİ) Test - 1

1. Atatürkçü düşünce sistemi; Türk milletinin bugün ve gelecekte tam bağımsızlık ile huzur ve refaha sahip olmasını, devletin millî egemenlik esasına dayandırılmasını, Türk millî kültürünün sürdürülüp geliştirilerek aklın ve bilimin rehberliğinde çağdaş medeniyet düzeyinin üstüne çıkarılmasını amaçlar.

Buna göre Atatürkçü düşünce sisteminin,

I. yeni Türk Devleti'nin kurulması,
II. Osmanlı Devleti'nin I. Dünya Savaşı'na girmesi,
III. ulusal benlik düşüncesinin inşa edilmesi

durumlarından hangilerine kaynaklık ettiği söylenemez?

A) Yalnız I B) Yalnız II C) Yalnız III
D) I ve II E) II ve III

2. İnkılapçılığın temel felsefesi, yapılan inkılapların korunması, geliştirilmesi ve yaşatılmasıdır.

Buna göre aşağıdakilerden hangisi inkılapçılığın felsefesine uygundur?

A) Değişime açık olmak
B) Millî olmayan yeniliklerden uzak durmak
C) Geleneklerden ödün vermemek
D) Her türlü dış etkiye kapalı olmak
E) Yenilikleri yöneticilerin isteğiyle yapmak

3. Yeni Türk Devleti'nde Türk kadını,

- 1926'da kabul edilen Medeni Kanun ile hukuksal ve toplumsal alanda,
- 1934 yılında çıkarılan kanun ile siyasi alanda

erkeklerle eşit haklara sahip olmuştur.

Bu düzenlemelerle öncelikle, yeni Türk Devleti'nde aşağıdaki ilkelerden hangisinin işlerlik kazandığı söylenebilir?

A) Laiklik
B) Milliyetçilik
C) Devletçilik
D) Cumhuriyetçilik
E) Halkçılık

4. "Türk dilinin sadeleştirilmesi, zenginleştirilmesi ve kamuoyuna bunların benimsetilmesi için her yayın aracından faydalanmalıyız. Her aydın, hangi konuda olursa olsun yazarken buna dikkat edebilmeli; konuşma dilimizi ise ahenkli, güzel bir hâle getirmeliyiz."

Atatürk'ün bu sözünün aşağıdaki ilkelerden hangisi ile ilgili olduğu savunulabilir?

A) Cumhuriyetçilik
B) Laiklik
C) Devletçilik
D) Millî egemenlik
E) Milliyetçilik

5. **Atatürk** "Türkiye halkı ırkı, dini ve kültürel yönden birleşmiş, bir diğerine karşı karşılıklı hürmet ve fedakarlık hisleriyle dolu, kaderi ve geleceği ortak bir toplumdur." **sözü ile Yeni Türk Devleti'nin;**

I. yenilikçi olma,
II. halkçı olma,
III. laik olma

özelliklerinden hangileri üzerine kurulduğunu vurgulamıştır?

A) Yalnız I B) Yalnız II C) Yalnız III
D) I ve II E) I ve III

6. **Atatürk'ün bütünleyici ilkelerinden;**

- millî birlik ve beraberlik
- akılcılık ve bilimsellik
- insan ve insanlık sevgisi

sırasıyla aşağıdaki hangi Atatürk ilkelerini destekler?

A) Milliyetçilik, Laiklik, Halkçılık
B) Milliyetçilik, İnkılapçılık, Devletçilik
C) Cumhuriyetçilik, Milliyetçilik, İnkılapçılık
D) Cumhuriyetçilik, Laiklik, Halkçılık
E) Laiklik, İnkılapçılık, Milliyetçilik

Prf Yayınları
PRF YAYINLARI

7. Atatürk'ün milliyetçilik anlayışına göre, aynı vatanı paylaşan, aynı siyasal yönetim altında yaşayan, aralarında tarihin derinliklerinden gelen birliktelik olan ve bu ortaklıklarını sürdürmek isteyen insanların oluşturduğu toplum, millet statüsüne ulaşmış demektir.

Buna göre aşağıdakilerden hangisi, Atatürk'ün milliyetçilik ilkesinin dayandığı esaslar arasında gösterilemez?

A) Coğrafi birlik
B) Siyasal birlik
C) Irk birliği
D) Ülkü birliği
E) Kültür ve tarih birliği

8. **Cumhuriyetin ilk yıllarında gerçekleştirilen;**

I. Türk Medeni Kanunu'nun kabul edilmesi,
II. aşar vergisinin kaldırılması,
III. I. Beş Yıllık Kalkınma Planı'nın uygulanması

gelişmelerini, Atatürk ilkeleriyle eşleştirdiğimizde aşağıdakilerden hangisi doğru verilmiştir?

	Laiklik	Devletçilik	Halkçılık
A)	I	II	III
B)	I	III	II
C)	II	I	III
D)	III	I	II
E)	III	II	I

9. Atatürk; "Bizim halkımız çıkarları birbirinden farklı sınıf hâlinde değil; aksine varlıkları ve çalışmalarının sonuçları birbirine lazım olan sınıflardan ibarettir." demiştir.

Buna göre Atatürk'ün halkçılık ilkesi ile ilgili aşağıdakilerden hangisi söylenebilir?

A) Evrensel değil, yereldir.
B) Yönetici zümrenin ayrıcalıklarını korur.
C) Herkesin eşit ücret almasını öngörür.
D) Sınıf mücadelesini reddeder.
E) Bireyin çıkarlarını, toplumun çıkarlarının üzerinde görür.

10. **Aşağıdakilerden hangisinin uygulanmasında istenilen sonucun alınamaması yeni Türk Devleti'nde devletçilik ilkesinin uygulamaya konulmasını zorunlu hâle getirmiştir?**

A) I. Beş Yıllık Kalkınma Planı'nın
B) Kabotaj Kanunu'nun
C) Teşvik-i Sanayi Kanunu'nun
D) Misak-ı İktisadi kararlarının
E) Türk Medeni Kanunu'nun

11. **Kadınlara siyasi hak verilmesi, aşağıdaki Atatürk ilkelerinden hangisiyle yakından ilgili olduğu söylenebilir?**

A) Cumhuriyetçilik – Halkçılık
B) Devletçilik – Milliyetçilik
C) Milliyetçilik – Cumhuriyetçilik
D) Laiklik – Halkçılık
E) Devletçilik – İnkılapçılık

12. **Aşağıda verilen gelişmelerden hangisinin milliyetçilik ilkesiyle ilgisi olduğu söylenemez?**

A) Misakı İktisadi Kararlarının alınması
B) Türk karasularında gemi işletme hakkının Türk şirketlerine verilmesi
C) Türk Parasını Koruma Kanunu'nun çıkarılması
D) Miladi takvimin kabul edilmesi
E) İstiklal Marşı'nın kabul edilmesi

13. **Aşağıdakilerden hangisi ülkemizde cumhuriyetçilik ilkesinin uygulanmasının sonuçlarından biri değildir?**

A) Belirli aralıklarla seçimler yapılması
B) Demokrasi anlayışının güçlenmesi
C) Kişisel egemenliğe son verilmesi
D) Kadınlara seçme ve seçilme hakkı tanınması
E) Planlı ekonomiye geçilmesi

Prf Yayınları
PRF YAYINLARI

1. Mustafa Kemal;

- Mondros Ateşkes Anlaşması'ndan sonra başlayan işgallere karşı Türk milletinin kurduğu bölgesel cemiyetleri tek bir çatı altında birleştirmiştir.
- I. TBMM'de farklı görüşteki milletvekillerini aynı amaca yönelterek uyumlu çalışmalarını sağlamıştır.

Bu bilgiler Mustafa Kemal'in kişisel özelliklerinden daha çok hangisini yansıtmaktadır?

A) İnkılapçılığını
B) İleri görüşlülüğünü
C) Milliyetçiliğini
D) Birleştirme ve bütünleştirme gücünü
E) Mantıklı ve gerçekçi oluşunu

2. **Trablusgarp Savaşı sonunda imzalanan Uşi Antlaşması'na göre On İki Ada aşağıdaki devletlerden hangisine geçici olarak verilmiştir?**

A) İngiltere
B) Yunanistan
C) İtalya
D) Fransa
E) Rusya

3. **İtilaf Devletleri bloğunda yer alan Rusya'nın Bolşevik İhtilali ile savaştan çekilmesinin;**

I. Wilson İlkeleri,
II. Gizli Antlaşmalar,
III. Amiral Bristol Raporu

metinlerinden hangilerinde değişikliğe gidilmesine neden olduğu söylenebilir?

A) Yalnız I B) Yalnız II C) I ve II
D) II ve III E) I, II ve III

4. **Mondros Ateşkes Antlaşması'nın ardından Anadolu'da cemiyet kuran azınlıklar aşağıdakilerden hangisini hukuki dayanak olarak kullanmışlardır?**

A) Mondros Ateşkes Antlaşması'nı
B) Wilson İlkeleri'ni
C) Lozan Antlaşması'nı
D) Mudanya Ateşkes Antlaşması'nı
E) Amiral Bristol Raporunu

5. **Mustafa Kemal'in Osmanlı Devleti adına mücadele ettiği ilk ve son cepheler, aşağıdakilerden hangisinde doğru olarak verilmiştir?**

	İlk Cephesi	Son Cephesi
A)	Derne – Tobruk	Suriye – Filistin
B)	Galiçya	Makedonya
C)	Kafkas	Kanal
D)	Kafkas	Çanakkale
E)	Derne – Tobruk	Çanakkale

6. Kuvayımilliye birliklerinin faaliyetlerinden bazıları şunlardır:

- Yunan ordularının Anadolu'da rahatça ilerlemelerini engellemişlerdir.
- İç ayaklanmaları bastırmışlardır.
- Türk köylerini Rum ve Ermeni çetelerin saldırılarına karşı korumuşlardır.

Buna göre Kuvayımilliye birliklerinin aşağıdakilerin hangisinde görev üstlendikleri savunulamaz?

A) Ulusal bilincin uyanmasında
B) İç güvenliğin sağlanmasında
C) Halkın can ve mal güvenliğinin korunmasında
D) Bağımsızlık düşüncesinin canlı tutulmasında
E) Büyük Millet Meclisinin uluslararası saygınlığının artmasında

Prf Yayınları
PRF YAYINLARI

7. Yunan ordusu Paris Barış Konferansı kararları doğrultusunda 15 Mayıs 1919'da İzmir'e asker çıkarmıştı. Yunanlılar şehirdeki önemli noktaları kontrol altına alırken birçok sivil ve memuru da öldürmüştü. İşgal, İzmir ile sınırlı kalmamış, Ege Bölgesi'nin iç kesimlerine doğru ilerlemişti. Bu durum gelinen noktanın ne kadar tehlikeli olduğunu gösteriyordu. İşgali protesto etmek için ülkenin birçok yerinde mitingler yapıldı. İstanbul'da düzenlenen mitinglerde Mehmet Emin, Halide Edip, Hamdullah Suphi ve Selim Sırrı gibi aydınlar konuşmalar yaptı.

Bu mitinglerin aşağıdaki cemiyetlerden hangisinin girişimiyle düzenlendiği savunulabilir?

A) Millî Kongre
B) Mavri Mira
C) Hürriyet ve İtilaf
D) Hınçak ve Taşnak
E) Sulh ve Selameti Osmaniye

8. Temsil Heyeti adına Mustafa Kemal ile İstanbul Hükûmeti adına Bahriye Nazırı Salih Bey arasında yapılan Amasya Görüşmelerinde Anadolu ve Rumeli Müdafaa-i Hukuk Cemiyeti Osmanlı Hükûmeti tarafından tanınmıştır.

Bu gelişmenin,

I. Anlaşma Devletleri ile barış antlaşması imzalanması,
II. Mebuslar Meclisinin İstanbul dışında toplanması,
III. halkın Millî Mücadele'yi yönetenlere inancının artması

durumlarından hangilerini kolaylaştırdığı savunulabilir?

A) Yalnız I
B) Yalnız II
C) Yalnız III
D) I ve II
E) II ve III

9. **Aşağıdakilerden hangisinin, Millî Mücadele Dönemi'nde millî bilincin oluşmasına katkı yaptığı savunulamaz?**

A) Müdafaa-i hukuk cemiyetlerinin
B) Manda ve himaye fikrinin
C) Kuvayımilliye hareketinin
D) İşgalleri protesto mitinglerinin
E) Erzurum ve Sivas Kongrelerinin

10. **Aşağıdakilerden hangisi Millî Mücadele'nin güçlenmesine katkı veren yerel kahramanlardan biri değildir?**

A) Şerife Bacı
B) Yörük Ali Efe
C) Hasan Tahsin
D) Ali Galip
E) Gördesli Makbule

11. 25 Mayıs 1919'da Samsun'dan Havza'ya geçen Mustafa Kemal Paşa, bir yandan Anadolu'da dağınık bulunan birliklerin komutanlarını kendine bağlamış, Mondros Ateşkesi'ne göre askerlerin terhis edilmesini önlemeye çalımış, yurdun her köşesinde işgallere karşı mitingler düzenlenmesini istemiştir.

Mustafa Kemal Paşa'nın bu faaliyetlerine aşağıdakilerden hangisinin gerekçe oluşturduğu söylenebilir?

A) Kuvayımilliye birliklerinin kurulmasının
B) İstanbul'un resmen işgal edilmesinin
C) Sevr Antlaşması'nın imzalanmasının
D) Misakımillî kararlarının alınmasının
E) İstanbul Hükûmetinin Anlaşma Devletlerinin denetimine girmesinin

12. Mustafa Kemal Paşa,

- Ulusal kongrenin vatanın en güvenilir yeri olan Sivas'ta toplanmasını istemiştir.
- Temsil Kurulunun çalışmalarını yürütmek için güvenli bir bölge olan Ankara'yı seçmiştir.
- Mebuslar Meclisinin güvenliği tehlikede olan İstanbul'da toplanmasına karşı çıkmıştır.

Buna göre Mustafa Kemal Paşa'nın Millî Mücadele'nin yürütülmesinde merkez olarak güvenli bölgeleri seçmesinin amacı aşağıdakilerden hangisi olabilir?

A) Millî Mücadele'nin baskı altına girmesini önlemek
B) Millî Mücadele kararlarının gizli kalmasını sağlamak
C) İşgallerin geniş bölgelere yayılmasını önlemek
D) Ulusal cemiyetlerin çalışmalarına karışmamak
E) Manda ve himaye fikrinin kabul edilmesini sağlamak

Prf Yayınları
PRF YAYINLARI

ÜNİTE ÖLÇME TESTİ

Test - 1

1. **I. Dünya Savaşı ile ilgili aşağıdaki bilgilerden hangisi yanlıştır?**

A) İtilaf Devletleri, Osmanlı Devleti'ni Çanakkale Cephesi ile savaş dışı bırakmak istemiştir.

B) İngiltere, Kanal Cephesi'ndeki başarıları sonucunda Musul'u işgal etmiştir.

C) Osmanlı Devleti, Kafkas Cephesi'nde Pantürkizm idealini gerçekleştirmek istemiştir.

D) İngiltere, Suriye-Filistin Cephesi'nde Kudüs'ü ele geçirmiştir.

E) ABD, Almanya'nın ticaret gemilerine saldırması sebebiyle dünya savaşına katılmıştır.

2. **Mondros Ateşkesi'nden sonraki dönemde uluslararası alanda gündeme gelen;**

I. General Milne Raporu,

II. Amiral Bristol Raporu,

III. General Harbord Raporu

belgelerinden hangilerinde Türklerin haklılığı savunulmuştur?

A) Yalnız I B) Yalnız II C) I ve II D) II ve III E) I, II ve III

3. Mustafa Kemal, Mondros Ateşkesi'nin imzalanmasından sonra geldiği İstanbul'da komutanlarla görüşmeler yapmış, Anadolu'daki bazı komutanlarla da haberleşmişti. Samsun'a çıktıktan sonra da Türkiye'deki tüm kolordu komutanları ile temasını artırmıştı.

Mustafa Kemal'in bu tutumu ile öncelikle aşağıdakilerden hangisini amaçladığı ileri sürülebilir?

A) Askerî örgütlenmeyi sağlamayı

B) Azınlıkların zararlı faaliyetlerini önlemeyi

C) İstanbul Hükûmetinin desteğini sağlamayı

D) Türk ulusunun Millî Mücadele'ye desteğini kazanmayı

E) Anlaşma Devletlerini barış yapmaya zorlamayı

4. Aşağıda Kurtuluş Savaşı sürecinde TBMM'nin yaptığı antlaşmaların sonuçları rakamlarla gösterilmiştir:

1	TBMM'nin ilk diplomatik başarısıdır.
2	Güney Cephesi'nin kapanmasını sağlamıştır.
3	İlk kez büyük bir devlet TBMM'yi resmen tanımış ve İtilaf Devletlerine karşı desteklemiştir.
4	Kurtuluş Savaşı'nın askerî safhasının sona ermesini sağlamıştır.
5	Sovyet Rusya güdümündeki Kafkas cumhuriyetleri ile yapılmış ve Türkiye'nin doğu sınırı kesin şeklini almıştır.

Buna göre aşağıda, hangi rakamla gösterilen sonucun ilgili olduğu antlaşma yanlış eşleştirilmiştir?

A) 1 – Gümrü

B) 2 – Ankara

C) 3 – Moskova

D) 4 – Londra

E) 5 – Kars

5. 1934 yılına kadar ülkemizde vatandaşların soyadları yoktu. Oysa uygar Batı dünyasında insanlar soyadları ile anılıyordu. Bu ülkelerde soyadı, bireyi eşit yurttaş hâline getiren ve ona kimlik kazandıran bir araç olarak görülüyordu. Türkiye'yi uygar Batı dünyasının bir parçası hâline getirmeyi hedefleyen Atatürk, 1934'te Soyadı Kanunu'nun çıkarılmasını sağladı.

Bu bilgilere göre Soyadı Kanunu'nun,

I. halkçılık ilkesi,

II. millî kimlik inşası,

III. çağdaşlaşma ideali

hedeflerinden hangilerine yönelik olduğu savunulabilir?

A) Yalnız I B) Yalnız II C) I ve II D) II ve III E) I, II ve III

Prf Yayınları
PRF YAYINLARI

6. **Millî Mücadele Dönemi'nde,** "Milletin istiklalini yine milletin azim ve kararı kurtaracaktır." **kararının uygulamaya konulması aşağıdakilerden hangisi üzerinde etkili olmamıştır?**

A) TBMM'nin açılması
B) Kuvay-ı İnzibatiye'nin oluşturulması
C) Düzenli ordunun kurulması
D) Erzurum ve Sivas Kongrelerinin toplanması
E) Millî cemiyetlerin birleştirilmesi

7. **I. Dünya Savaşı sırasında Osmanlı Devleti'ni paylaşmaya yönelik yapılan gizli antlaşmalar, aşağıdakilerden hangisi sonucunda dünya kamuoyuna duyurulmuştur?**

A) ABD'nin savaşa girmesi
B) Osmanlı Devleti'nin savaştan ayrılması
C) İhtilal sonrasında Rusya'nın savaştan çekilmesi
D) İtalya'nın İtilaf Devletlerine katılması
E) Wilson İlkeleri'nin yayınlanması

8. Osmanlı Dönemi'nde deniz ticareti ve ulaşımı tamamen yabancılar ile azınlıkların elindeydi. Deniz ticaretimizi geliştirmek ve denizlerimizden tam olarak yararlanabilme hakkını elde etmek için Kabotaj Kanunu çıkarıldı. Bu kanuna göre, Türk kıyılarının bir noktasından diğer noktasına yük ve yolcu alıp nakletmek ve kıyılarda, limanlar içinde veya arasında römorkaj ve pilotaj (kılavuzluk) ve hangi nitelikte olursa olsun bütün liman hizmetlerini yerine getirme hakkı Türk vatandaşlarına ve Türk bayrağı taşıyan gemi ve taşıtlara verilmiştir.

Bu bilgilere dayanarak Kabotaj Kanunu ile ilgili,

I. Kapitülasyonların kaldırılmasını tamamlayan bir gelişmedir.
II. Ekonomik bağımsızlığın güçlenmesine katkı sağlamıştır.
III. Planlı ekonomiye geçilmesini geciktirmiştir.

yargılarından hangilerine ulaşılabilir?

A) Yalnız I B) Yalnız II C) Yalnız III
D) I ve II E) I, II ve III

9. **Mustafa Kemal'in,**

I. Mondros Ateşkes Anlaşması'nın imzalanması,
II. Temsil Heyetinin kurulması,
III. Lozan Konferansı'na temsilci gönderilmesi,
IV. direniş cemiyetlerinin kurulması

durumlarından hangilerine tepki gösterdiği söylenemez?

A) Yalnız I B) II ve III C) II ve IV
D) I, II ve III E) II, III ve IV

10. **Lozan Barış Antlaşması'nın aşağıda verilen maddelerinden hangisinin tam bağımsızlığın sağlamasıyla ilgisi kurulamaz?**

A) Tüm azınlıkların Türk vatandaşı kabul edilip ayrıcalıkların kaldırılması
B) Kapitülasyonların tamamen kaldırılması
C) Yunanistan'daki Türklerle Türkiye'deki Rumların mübadele edilmesi
D) Yabancı okulların denetiminin Türk hükûmetine bırakılması
E) Doğu'da kurulması planlanan Ermeni Devleti'nden vazgeçilmesi

11. **Aşağıdakilerin hangisinde hukuk, sosyal ve siyasi alanlarda eşitliği sağlayan inkılaplar doğru olarak verilmiştir?**

	Hukuk	Sosyal	Siyaset
A)	Medeni Kanun	Soyadı Kanunu	Kadınlara siyasi hakların verilmesi
B)	Medeni Kanun	Soyadı Kanunu	Tevhid-i Tedrisat Kanunu
C)	Soyadı Kanunu	Aşar'ın kaldırılması	Kılık kıyafette yenilik
D)	Soyadı Kanunu	Tevhid-i Tedrisat Kanunu	Kadınlara siyasi hakların verilmesi
E)	Aşar'ın kaldırılması	Kılık kıyafette yenilik	Medeni Kanun

Prf Yayınları
PRF YAYINLARI

1. Mustafa Kemal, Balkan Savaşlarının sona ermesinin ardından Bulgaristan'ın başkenti Sofya'ya ataşemiliter olarak atanmıştır. Buradaki görevi sırasında Avrupalı devletlerin temsilcileriyle yaptığı görüşmelerde birçok devletin hem siyasal anlayışlarını hem de Osmanlı Devleti hakkındaki düşüncelerini öğrenme fırsatını bulmuş, Bulgar Meclisinin toplantılarına katılmış, Bulgaristan'da yaşayan Türklerin sıkıntıları ile yakından ilgilenmiştir.

Buna göre Sofya'daki yaşantısının Mustafa Kemal'e,

I. demokratik sistemin işleyişini görme,
II. diplomasi alanında deneyim kazanma,
III. Osmanlı toprakları dışında yaşayan Türk azınlığın sorunlarını anlama

konularının hangileriyle ilgili yarar sağladığı savunulabilir?

A) Yalnız I B) Yalnız II C) Yalnız III
D) I ve II E) I, II ve III

2. **Aşağıdakilerden hangisi, I. Dünya Savaşı sırasında gerçekleşen gelişmelerden biri <u>değildir</u>?**

A) Bab-ı Âli Baskını
B) Kutü'l Amare Zaferi
C) Tehcir Kanunu
D) Bolşevik İhtilali
E) Sarıkamış Harekatı

3. **Osmanlı Devleti'nde 20. yüzyılda görülen;**

I. İtalya ile Uşi Antlaşması'nın imzalanması,
II. 31 Mart Olayı'nın yaşanması,
III. Arnavutluk'un bağımsızlığını ilan etmesi

gelişmelerinden hangilerinin Balkan Savaşları sırasında yaşandığı söylenebilir?

A) Yalnız I B) Yalnız II C) Yalnız III
D) I ve II E) I ve III

4. **Mustafa Kemal I. Dünya Savaşı'nda;**

I. Kafkas,
II. Suriye - Filistin,
III. Kanal

cephelerinin hangilerinde görev almıştır?

A) Yalnız I B) Yalnız II C) I ve II
D) II ve III E) I, II ve III

5. Anlaşma Devletleri, Mondros Ateşkes Anlaşması'nın imzalanmasından sonra Anadolu'yu işgale başlamışlardır.

Aşağıdakilerden hangisinin, bu işgallerin Türk halkı tarafından kabullenilmeyeceğini ortaya koyduğu <u>söylenemez</u>?

A) Kuvayımilliye birliklerinin kurulmasının
B) Wilson İlkelerinin yayımlanmasının
C) Direniş cemiyetlerinin birleştirilmesinin
D) İşgallerin miting ve gösterilerle etkili şekilde protesto edilmesinin
E) Amasya Genelgesi'nin yayımlanmasının

6. Mondros Ateşkes Anlaşması'ndan sonra Osmanlı ülkesinde farklı amaç ve görüşlere sahip cemiyetler faaliyet göstermeye başlamıştır. Anlaşma Devletleri bu cemiyetlerden kendi çıkarlarına uygun hareket edenleri desteklemişlerdir.

Buna göre Anlaşma Devletlerinin aşağıdaki cemiyetlerden hangisini desteklemeleri <u>beklenemez</u>?

A) Wilson İlkeleri Cemiyeti
B) Hınçak ve Taşnak Cemiyetleri
C) Etniki Eterya Cemiyeti
D) Kilikyalılar Cemiyeti
E) İngiliz Muhipleri Cemiyeti

Prf Yayınları
PRF YAYINLARI

7. **Kurtuluş Savaşı sürecinde aşağıdakilerin hangisinde millî iradeyi egemen kılma istencinin etkisi olduğu söylenemez?**

A) TBMM'nin açılmasında
B) Mustafa Kemal'in IX. Ordu Müfettişliğine getirilmesinde
C) Temsil Heyetinin oluşturulmasında
D) Amasya Genelgesi'nin yayımlanmasında
E) Anadolu ve Rumeli Müdafaa-i Hukuk Cemiyetinin kurulmasında

8. **Kurtuluş Savaşı'nın hazırlık dönemi ile ilgili aşağıdakilerden hangisinde I.'de verilenin, II.'ye neden olduğu söylenemez?**

	I.	II.
A)	Amasya Genelgesi	Türk inkılabının eylem safhasının başlaması
B)	Sivas Kongresi	Bölgesel direniş cemiyetlerinin birleşmesi
C)	Erzurum Kongresi	Damat Ferit Hükûmetinin istifa etmesi
D)	Havza Genelgesi	Mill'i bilincin uyanması
E)	Misakımillî Kararları	Osmanlı Mebusan Meclisinin kapatılması

9. I. Amasya Genelgesi
II. Sivas Kongresi
III. Erzurum Kongresi
IV. Havza Genelgesi
V. Amasya Görüşmeleri

Yukarıdaki gelişmelerin kronolojik sıralaması aşağıdakilerden hangisinde doğru olarak verilmiştir?

A) I, II, III, IV, V
B) IV, I, II, III, V
C) II, III, IV, V, I
D) IV, I, III, II, V
E) I, IV, II, III, V

10. **Aşağıdakilerden hangisi İstiklal Mahkemelerinin kuruluş amaçlarından biridir?**

A) Düzenli orduya kumanda etmek
B) TBMM'nin otoritesini güçlendirmek
C) Yeni bir anayasa yapılmasını sağlamak
D) Seçimlerin düzenli olarak yapılmasını sağlamak
E) Azınlıklarla Türkler arasındaki çatışmaları önlemek

11. "TBMM yasama ve yürütme yetkisine sahiptir. Meclisten seçilecek bir heyet Meclise vekil olarak hükûmet işlerini görür. Meclis başkanı hükûmetin de başkanıdır."

TBMM'nin bu kararı,

I. güçler birliği,
II. meclis hükûmeti,
III. ikili meclis

sistemlerinden hangilerinin benimsendiğini gösterir?

A) Yalnız I
B) Yalnız II
C) Yalnız III
D) I ve II
E) II ve III

12. TBMM Hükûmeti, 1922 yılında bir tebliğ yayınlayarak mali yetkilerin Büyük Millet Meclisine ait olduğunu, vergiler konusunda Düyun-u Umumiye İdaresi ile anlaşma yapma yetkisinin de Büyük Millet Meclisi Hükûmetine ait olduğunu, İstanbul Hükûmetinin yapacağı anlaşmaların geçersiz sayılacağını ilan etmiştir.

TBMM Hükûmetinin bu tutumunun aşağıdakilerden hangisine yönelik olduğu savunulabilir?

A) Ülkenin gelir kaynakları üzerinde denetim kurmaya
B) Millet egemenliğini gerçekleştirmeye
C) Laik devlet anlayışını korumaya
D) İstanbul Hükûmetinin hukuki dayanağını ortadan kaldırmaya
E) Ulusal şirketlerin yatırım gücünü artırmaya

Prf Yayınları
PRF YAYINLARI

ÖZEL TESTİN ÇÖZÜMLERİ - 1

ÇÖZÜM

1. Ataşemiliter, bir ülkenin yabancı ülkelerde askerî-siyasi temsilcisi olan; diplomatik görüşmeler yapan askerî büyükelçisidir.

Mustafa Kemal Sofya'da Osmanlı Devleti'nin askerî büyükelçisi olarak görev yapmıştır. Bu görevi sırasında Avrupalı devletlerin temsilcileriyle yaptığı görüşmeler diplomasi alanında deneyim kazanmasına; Bulgar Meclisinin toplantılarına katılması demokratik sistemin işleyişini görmesine; bölgede yaşayan Türklerin sıkıntıları ile yakından ilgilenmesi ise Osmanlı sınırları dışında yaşayan Türk azınlığın sorunlarını anlamasına katkı sağlamıştır.

Cevap E

ÇÖZÜM

2. I. Dünya Savaşı 1914 - 1918 yılları arasında gerçekleşmiştir. Kutü'l Amere Zaferi Osmanlı ordularının Irak Cephesi'nde İngilizlere karşı kazandığı zaferdir. Tehcir Kanunu 1915 yılında Osmanlı Ermenilerinin güvenli bölgelere nakliyle ilgili yasadır. 1917 yılında gerçekleşen Bolşevik Devrimi Rusya'nın I. Dünya Savaşı'ndan çekilmesinde etkili bir olaydır. Enver Paşa tarafından yönetilen Sarıkamış Harekatı Kafkas Cephesi'nde meydana gelmiş, acı sonuçları olan başarısız bir askerî harekattır.

Bab-ı Âli Baskını; I. Balkan Savaşı'nda alınan ağır yenilgi karşısında İttihat ve Terakki Fırkasının, hükûmette olmamasından dolayı bu yenilginin yaşandığını bahane edip, 23 Ocak 1913'te Osmanlı hükûmetine baskın düzenlemesidir. Bu baskınla birlikte İttihat ve Terakki Partisi devletin yönetiminde söz sahibi olmuştur. Bu olay I. Dünya Savaşı'ndan önce gerçekleşmiştir.

Cevap A

ÇÖZÜM

3. Balkan Savaşları 8 Ekim 1912'de başlamış 1913 yılının sonlarına kadar sürmüştür.

Uşi Antlaşması, Trablusgarp Savaşı'ndan sonra 18 Ekim 1912'de imzalanmıştır. Arnavutluk, I. Balkan Savaşı sürerken bağımsızlığını ilan etmiştir.

Meşrutiyet karşıtı 31 Mart Olayı 13 Nisan 1909'da yani Balkan Savaşlarından önce gerçekleşmiştir.

Cevap E

ÇÖZÜM

4. Mustafa Kemal, I. Dünya Savaşı'nda **Çanakkale Cephesi**'nde emrindeki birliklere komuta ederek Türk ordusunun savaşı kazanmasında büyük rol oynamıştır. **Kafkas Cephesi**'ne atandıktan sonra Muş ve Bitlis'i Ruslardan geri almayı başarmıştır. Daha sonra **Suriye Cephesi**'nde Yıldırım Orduları Grup Komutanı görevi sırasında oluşturduğu savunma hattıyla Arap çetelerini ve İtilaf birliklerini Suriye'nin kuzey sınırında durdurmayı başararak, Anadolu'ya yönelecek saldırıları önlemiştir.

Mustafa Kemal, I. Dünya Savaşı'nda Kanal Cephesi'nde görev almamıştır.

Cevap C

ÇÖZÜM

5. Mondros Ateşkesi'nden sonra Anadolu yer yer işgal edilmeye başlamıştır. Bu durum karşısında İstanbul Hükûmetinin etkisiz kalması vatansever halkı ve askerleri harekete geçirmiştir. Kuvayımilliye birliklerinin kurulması, direniş cemiyetlerinin birleştirilmesi, işgallerin etkili şekilde protesto edilmesi, Amasya Genelgesi'nin yayımlanması millî bilincin bir ürünü olan bu hareketler sonucunda ortaya çıkmıştır. Bu gelişmeler Türk ulusunun bağımsızlığını koruma konusundaki kararlılığının göstergesidir.

Wilson İlkeleri, 8 Ocak 1918'de Mondros Ateşkesi'nin imzalanmasından önce ABD Başkanı Woodrow Wilson tarafından barıştan sonra dünyanın yeni düzeninin nasıl olacağını tespit etmek üzere ortaya atılan ilkelerdir.

Cevap B

ÇÖZÜM

6. Wilson İlkeleri Cemiyeti ile İngiliz Muhipleri Cemiyeti Türkler tarafından kurulan, devletin kurtuluşunun ancak güçlü bir devletin himayesi altına girmekle mümkün olacağını savunan cemiyetlerdir. Ermeni Hınçak ve Taşnak Cemiyetleri ile Rum Etniki Eterya Cemiyeti ise Osmanlı topraklarında bağımsız devletler kurmak için faaliyet göstermişlerdir. Bu zararlı cemiyetler Millî Mücadelecilerin işini zorlaştırdığından Anlaşma Devletleri tarafından desteklenmişlerdir.

Kilikyalılar Cemiyeti ise Çukurova bölgesini Fransız ve Ermeni emellerine karşı korumak üzere kurulan millî bir cemiyet olduğundan Anlaşma Devletleri tarafından desteklenmemiştir.

Cevap D

Prf Yayınları
PRF YAYINLARI

ÇÖZÜM

7. Millî irade, halkın kendi kararını kendisinin vermesini ifade eden bir kavramdır. Millî iradeyi egemen kılma istenci millî egemenliği gerçekleştiren TBMM'nin açılmasında; millet adına karar verecek Temsil Heyetinin oluşturulmasında; milletin istiklalini yine milletin azim ve kararının kurtaracağını vurgulayan Amasya Genelgesi'nin yayımlanmasında; millî cemiyetlerin Anadolu ve Rumeli Müdafaa-i Hukuk Cemiyeti adı altında birleştirilmesinde etkili olmuştur.

Mustafa Kemal'in IX. Ordu Müfettişliğine İstanbul Hükûmeti tarafında getirilmiştir. Bu görevin resmî amacı Anadolu'daki karışıklıkları önleyerek, Anlaşma Devletleri'nin işgal gerekçelerini engellemektir.

Cevap B

ÇÖZÜM

8. A) Mustafa Kemal Amasya Genelgesi yayımladıktan sonra İstanbul Hükûmeti ve işgal güçlerinin tepkisini çekmiştir. Bunun üzerine görev ve yetkilerinden vazgeçerek, sıradan bir vatandaş olarak sine-i millete (halkın içine) dönmüş, mücadelesini milletin bir ferdi olarak sürdürmüştür.

B) Sivas Kongresi'nde millî birlik ve beraberliği sağlamak için ulusal cemiyetler Anadolu ve Rumeli Müdafaa-i Hukuk Cemiyeti çatısı altında birleştirilmiştir.

D) Mustafa Kemal Havza Genelgesi ile işgallerin protesto edilmesini istemiş, böylece millî bilincin uyanmasını hedeflemiştir.

E) Son Osmanlı Mebusan Meclisi bağımsızlık temelli Misakımillî kararlarını alınca Anlaşma Devletleri Osmanlı yönetimi üzerindeki baskılarını artırmış, bunun sonucunda Mebusan Meclisi kapatılmıştır.

Damat Ferit Hükûmetinin milletin haklarını hiçe sayan tavırları karşısında Temsil Heyeti başkanı Mustafa Kemal Sivas Kongresi'nden sonra, sivil ve askerî bütün yazışmaların Sivas'taki Temsil Heyeti ile yapılması istemiştir. Bu durum karşısında Damat Ferit Paşa ülkeyi yönetemez hâle gelerek istifa etmek zorunda kalmıştır (30 Eylül 1919). Bu durum Temsil Heyetinin İstanbul karşısında elde ettiği ilk siyasi başarıdır.

Cevap C

ÇÖZÜM

9.

I.	Amasya Genelgesi	22 Haziran 1919
II.	Sivas Kongresi	4-11 Eylül 1919
III.	Erzurum Kongresi	23 Temmuz - 7 Ağustos 1919
IV.	Havza Genelgesi	28 Mayıs 1919
V.	Amasya Görüşmeleri	20–22 Ekim 1919

IV	I	III	II	V

Cevap D

ÇÖZÜM

10. Büyük Millet Meclisine karşı isyanların çıkması üzerine TBMM, Hıyanet-i Vataniye Kanunu çıkarmış ve bu kanunu uygulamak için İstiklal Mahkemelerini kurmuştur. Büyük Millet Meclisi bu adımlarla otoritesini güçlendirmek istemiştir.

Cevap B

ÇÖZÜM

11. Bir devlette yasama ve yürütme yetkilerinin bir kurum tarafından kullanılmasına **güçler birliği** denir. Meclisin kendi içinden belirleyeceği kişiler aracılığıyla yürütme görevini icra ettiği **meclis hükûmeti** sisteminde, hükûmet üyeleri yani bakanlar, tek tek milletvekillerinin oylarıyla meclis içinden seçilir. Bu sistemde meclisin başkanı aynı zamanda hükûmetin de başkanı durumundadır. Sorunun öncülünde verilen meclis kararı I. TBMM'nin güçler birliği ve meclis hükûmeti sistemini benimsediğini gösterir.

İkili meclis yasama, yürütme gibi yetkilerin farklı meclisler tarafından yerine getirildiği bir sistemdir. Örneğin Osmanlı Meclisi; Mebusan ve Âyan Meclisi olmak üzere iki meclisten oluşmuştur. I. TBMM Dönemi'nde böyle bir durum söz konusu olmamıştır.

Cevap D

ÇÖZÜM

12. Sorunun öncülünde verilen tutumu, TBMM'nin ülkenin ekonomik kaynaklar üzerinde denetim kurmak istediğini gösterir.

Cevap A

Prf Yayınları

PRF YAYINLARI

İKİ SAVAŞ ARASINDAKİ DÖNEMDE TÜRKİYE VE DÜNYA

Test - 1

1. 23 Nisan 1920 ile 1 Nisan 1923 tarihleri arasında görev yapan **I.** Mecliste toplumun her kesiminden milletvekilleri yer almış, güç şartlar altında Millî Mücadele yürütülmüştür. Millî Mücadele'nin başlarında ülkenin kurtululuşu amacında birleşen milletvekilleri Tesanüt (Dayanışma) Grubu, İstiklal Grubu, Islahat Grubu, Halk Zümresi ve Müdafaa-i Hukuk Zümresi gibi gruplar kurmuşlar ancak siyasi parti kurmamışlardır.

Bu bilgiden hareketle, I. Meclis Dönemiyle ilgili olarak aşağıdakilerden hangisi söylenemez?

A) Çok partili sisteme geçişe yönelik çalışmalar yaptığı
B) Millet egemenliğine geçişi sağladığı
C) Farklı düşüncelere sahip milletvekillerini bünyesinde barındırdığı
D) Ulusal nitelikte yapıya sahip olduğu
E) Millî birliğin bozulması endişesi nedeniyle siyasi partilerin yer almadığı

2. Millî Mücadele Dönemi'nde mecliste yaşanan fikir ayrılıkları Kurtuluş Savaşı'nın kazanılmasının ardından, özellikle saltanatın kaldırılmasından sonra, daha net bir şekilde ortaya çıkmıştı. Mustafa Kemal, Millî Mücadele sürecinde yıpranan meclisin yenilenmediği takdirde, millet ve memleketin ağır sorumluluklar gerektiren işlerini yürütmenin mümkün olamayacağını düşünüyordu. Anayasaya göre de milletvekili seçimlerinin yapılma zamanı gelmişti. Bütün bu gelişmelerin sonucunda TBMM, 1 Nisan 1923'te seçimlerin yenilenmesine karar vermiştir.

Bu bilgilerden hareketle Mustafa Kemal'in meclisin yenilenmesi düşüncesini,

I. demokratikleşme çabası,
II. laiklik ilkesi,
III. çağdaşlaşma ideali

esaslarından hangilerine dayandırdığı savunulabilir?

A) Yalnız I B) Yalnız II C) I ve III
D) II ve III E) I, II ve III

3. I. Şeyh Sait İsyanı
II. 31 Mart Olayı
III. Kubilay Olayı
IV. Çerkez Ethem İsyanı

Yukarıdakilerden hangileri Türkiye'de çok partili siyasal yaşama geçiş için gerekli demokratik ortamın henüz oluşmadığını ortaya koymuştur?

A) I ve II B) I ve III C) II ve III
D) II ve IV E) III ve IV

4. 1930 yılında Mustafa Kemal'in isteği doğrultusunda yakın arkadaşlarından eski Paris Büyükelçisi Fethi (Okyar) Bey başkanlığında Serbest Cumhuriyet Fırkası adıyla yeni bir parti kurulmuştur. Atatürk'ün kız kardeşi Makbule (Atadan) Hanım da bu partinin kurucuları arasında yer almıştır.

Mustafa Kemal'in bu davranışında,

I. demokratik hayatı geliştirme,
II. farklı görüş ve düşüncelerin mecliste temsil edilmesine imkân sağlama,
III. siyasi, sosyal, ekonomik alanlarda ortaya çıkan sorunlara farklı çözümler getirme

amaçlarından hangileri etkili olmuştur?

A) Yalnız I B) Yalnız II C) Yalnız III
D) I ve II E) I, II ve III

5. Serbest Cumhuriyet Fırkasının parti programında serbest ekonomi politikası izleneceği vurgulanmıştır.

Serbest Cumhuriyet Fırkasının,

I. seçimlerin tek dereceli yapılması,
II. Teşvik-i Sanayi Kanunu'nun tümüyle uygulanması,
III. limanlardaki tekelci uygulamaların kaldırılması

önerilerinden hangilerinin doğrudan bu durumla bağdaşır niteliktedir?

A) Yalnız I B) Yalnız II C) Yalnız III
D) I ve II E) II ve III

Prf Yayınları
PRF YAYINLARI

6. **Aşağıdakilerden hangisinde I. de verilenin II. ye ortam hazırladığı söylenemez?**

	I	II
A)	Şeyh Sait İsyanı	Terakkiperver Cumhuriyet Fırkasının kapatılması
B)	Lozan Barış Antlaşması	Kapitülasyonların kaldırılması
C)	Nüfus mübadelesi	Türk – Yunan ilişkilerinin düzelmesi
D)	Menemen Olayı	İttihat ve Terakki Partisi'nin kapatılması
E)	Ankara Antlaşması	Musul'un Irak'a bırakılması

7. Yeni Türk Devleti Döneminde Şeyh Sait İsyanı ile Kubilay Olayı bastırılmış, Mustafa Kemal'e suikast girişimi engellenmiştir.

Bu gelişmeler öncelikle aşağıdakilerden hangisinin korunması açısından önemlidir?

A) Cumhuriyet rejimi ve inkılapların
B) Çok partili hayatın
C) Temel hak ve özgürlüklerin
D) Millî bağımsızlığın
E) Millî kültürün

8. **Yeni Türk Devleti'nde çok partili siyasal yaşama geçmekle aşağıdakilerden hangisinin amaçlandığı söylenemez?**

A) Bireyselliği geliştirmek
B) Güçler birliği ilkesini uygulamak
C) Hükümetin denetlenmesini sağlamak
D) Demokrasiyi gereği gibi hayata geçirmek
E) Farklı görüş ve düşünceleri yönetime katmak

9. **12 Ağustos 1930'da Fethi Okyar tarafından kurulan Serbest Cumhuriyet Fırkası'nın parti programında yer alan,**

I. Seçimler tek dereceli yapılmalıdır.
II. Kadınlara siyasi haklar verilmelidir.
III. Liberal ekonomi politikası izlenmelidir.
IV. Vergiler halkın gücüne göre belirlenmelidir.

maddelerinden hangileri ulusal egemenliğe öncelik verildiğini göstermektedir?

A) Yalnız II B) Yalnız IV C) I ve II
D) III ve IV E) I, II ve IV

10. **Çok partili siyasi hayata geçişin,**

I. Türk tarihinde,
II. cumhuriyet tarihinde

gerçekleştiği ilk dönemler aşağıdakilerin hangisinde doğru olarak verilmiştir?

	I	II
A)	II. Mahmut	I. TBMM Dönemi
B)	Tanzimat	II. TBMM Dönemi
C)	II. Abdülhamit	Atatürk Dönemi
D)	I. Meşrutiyet	İsmet İnönü Dönemi
E)	II. Meşrutiyet	1946 seçimleri

11. **Türkiye dış politikada,**

I. Boğazlar,
II. Musul,
III. Hatay

sorunlarından hangilerini, uluslararası hukuk kuralları çerçevesinde kendi lehine çözüme kavuşturmuştur?

A) Yalnız I B) Yalnız II C) Yalnız III
D) I ve III E) II ve III

Prf Yayınları
PRF YAYINLARI

II. DÜNYA SAVAŞI SÜRECİNDE TÜRKİYE VE DÜNYA

Test - 1

1.

Japonya	1914'te Avrupa'nın önemli güçleri, I. Dünya Savaşı'na girince Asya'da egemenlik alanını genişletmek için bu du rumu bir fırsat olarak gördü. Kısa sürede Uzak Doğu'daki Almanya'ya ait sömürgeleri ele geçirdi. 1931'de sanayisi için zengin ham maDdeye sahip Mançurya'yı işgal etti.1933'te Milletler Cemiyetinden ayrıldı, 1934'te de Washington Antlaşması'nı feshetti.
İtalya	I. Dünya Savaşı'nı kazanan devletler arasında olmasına rağmen savaş sonrası yapılan paylaşımda beklentilerine ulaşamadı. Mussolini'nin iktidara gelmesiyle Roma İmparatorluğu'nu yeniden kurma politikasına yöneldi. Doğu Akdeniz ve Anadolu'yu egemenlik alanı olarak gördü. 1935'te Habeşistan'ı, 1939'da Arnavutluk'u işgal etti.
Almanya	Hitler'in iktidara gelmesinden sonra Versay Antlaşması ile Fransa'ya bırakılan Sar bölgesini topraklarına kattı. Versay Antlaşması ile sınırlanan askerî gücü artırdı. 13 Mart 1938'de birleştiğini ilan ederek Avusturya'yı ilhak etti. Böylece aynı milleti iki ayrı ülkeye ayıran Versay Antlaşması'nın ilgili maddesi ortadan kalktı.

Bu bilgilerden hareketle aşağıdakilerden hangisine ulaşılamaz?

A) Japonya, İtalya ve Almanya dış politikalarını yayılmacılık esası doğrultusunda oluşturmuşlardır.
B) İtalya'nın tutumu Orta Doğu'da güvenliği bozucu niteliktedir.
C) Almanya, Versay Antlaşması'nın hükümlerinden kurtulmaya yönelmiştir.
D) Milletler Cemiyeti dünya barışını sağlamada yetersiz kalmıştır.
E) Japonya, İtalya ve Almanya I. Dünya Savaşı'nda beklentilerini karşılayamamıştır.

2. **II. Dünya Savaşı'nda Almanya, İtalya ve Japonya'nın oluşturduğu blok aşağıdakilerden hangisidir?**

A) Anlaşma Grubu
B) Kutsal İttifak
C) Müttefik Devletler
D) Mihver Grubu
E) Bağlaşma Devletleri

3. **Aşağıda verilen II. Dünya Savaşı'na katılan devlet ve lider eşleştirmelerinden hangisi doğru değildir?**

	Devlet	Lider
A)	Almanya	Adolf Hitler
B)	İtalya	Benito Mussolini
C)	Japonya	İmparator Hirohitno
D)	ABD	Franklin Roosevelt
E)	SSCB	Vladimir Lenin

4. **II. Dünya Savaşı'na katılan devletler Müttefik ve Mihver Devletler olarak gruplandırıldığında aşağıdakilerden hangisi farklı grupta yer alır?**

A) İngiltere B) ABD C) İtalya D) Fransa E) Sovyet Rusya

5. **II. Dünya Savaşı ile ilgili,**

I. savaşın resmen başlaması,
II. ABD'nin savaşa girmesi

gelişmeleri aşağıdakilerden hangileri ile gerçekleşmiştir?

	I	II
A)	Almanya'nın Polonya'yı işgali	Pearl Harbour Baskını
B)	Anschluss Olayı	Maginot Hattı'nın geçilmesi
C)	Almanya'nın Südetleri alması	Avusturya'nın ilhak edilmesi
D)	Danzig Sorunu	SSCB'nin savaşa girmesi
E)	Almanya'nın Polonya'yı işgali	Japonya'nın savaşa girmesi

Prf Yayınları
PRF YAYINLARI

6. **II. Dünya Savaşı'na giden dönemde İngiltere Başbakanı Chamberlain ile özdeşleşen politika aşağıdakilerden hangisidir?**

A) Pasif direniş
B) Yatıştırma
C) Anlaşma
D) Yumuşama
E) Bağlaşma

7. **II. Dünya Savaşı'nın ilk yıllarında Avrupa'da ciddi bir karşılık görmeden ilerleyerek kıtanın önemli bölümünü işgal eden devlet aşağıdakilerden hangisidir?**

A) Fransa
B) İngiltere
C) ABD
D) Almanya
E) İtalya

8.
- II. Dünya Savaşı'nda İtalya'da fiyatlar savaş öncesine göre 35 kat artmıştır.
- II. Dünya Savaşı sonunda Fransa'da millî gelir 1938'in yarısı düzeyine inmiştir.
- 1945'te İngiltere'de üretim 1938'dekinin %31'ine ulaşabilmiştir.

Bu bilgilere dayanarak,

I. II. Dünya Savaşı Avrupa'yı ekonomik çöküntüye uğratmıştır.
II. İngiltere ve Fransa, II. Dünya Savaşı'ndan yenik ayrılmıştır.
III. II. Dünya Savaşı sonunda sömürgecilik yaygınlaşmıştır.

yorumlarından hangileri yapılabilir?

A) Yalnız I
B) Yalnız II
C) Yalnız III
D) I ve II
E) II ve III

9. **II. Dünya Savaşı sırasında 1941'de İngiliz Başbakan Winston Churchill ile ABD Başkanı Franklin Roosevelt arasında Kanada yakınlarında yapılan görüşme sonucunda yayınlanan ortak bildiri aşağıdakilerden hangisidir?**

A) Wilson İlkeleri
B) Monroe Doktrini
C) Atlantik Bildirisi
D) İnsan Hakları Evrensel Beyannamesi
E) Birleşmiş Milletler Antlaşması

10. **Birleşmiş Milletler Teşkilatı'nda** "Beş Büyükler" **olarak kabul edilip veto hakkına sahip olan ülkeler arasında aşağıdakilerden hangisi gösterilemez?**

A) ABD
B) Çin
C) Fransa
D) İngiltere
E) Almanya

11. **Aşağıdakilerden hangisi II. Dünya Savaşı'na katılan devletlerden birisi değildir?**

A) İsrail
B) Polonya
C) Romanya
D) Yunanistan
E) Macaristan

12. **II. Dünya Savaşı sonrasında,**

I. İsrail Devleti'nin kurulması,
II. Soğuk Savaş Dönemi'nin başlaması,
III. Japonya'ya atom bombasının atılması,
IV. Nürnberg ve Tokyo'da savaş suçluları için mahkemeler kurulması

gelişmelerinden hangilerinin yaşandığı söylenemez?

A) Yalnız I
B) Yalnız III
C) Yalnız IV
D) I ve II
E) I, II ve III

Prf Yayınları
PRF YAYINLARI

II. DÜNYA SAVAŞI SONRASINDA TÜRKİYE VE DÜNYA

Test - 1

1. II. Dünya Savaşı'nı demokrasiyle yönetilen ABD, İngiltere ve Fransa'nın başını çektiği ülkeler kazanmıştı. Demokrasiye önem veren Türkiye de bu blok içerisinde yer almak istiyordu. Birleşmiş Milletler Teşkilatının kuruluşu için 1945'te San Francisco'da toplanan konferansa katılan Türk heyeti, tek partili yönetime son verilmesi ve CHP dışında da siyasi partilerin kurulması gerektiğinin açıklamasını yapmıştır.

Bu durumun Türkiye'de aşağıdakilerden hangisini hızlandırdığı savunulabilir?

A) Tek dereceli seçim sisteminin uygulanmasını
B) Kadın-erkek eşitliğini sağlamaya yönelik kanuni düzenlemeler yapılmasını
C) Çok partili siyasi yaşama geçilmesini
D) Devletin temel kurumlarının ulus devlet anlayışına göre yapılandırılmasını
E) Temel hak ve özgürlüklerin anayasal güvence altına alınmasını

2. **Aşağıdakilerden hangisinin 7 Haziran 1945'te meclis başkanlığına verilen Dörtlü Takrir'de imzası yoktur?**

A) Celal Bayar
B) İsmet İnönü
C) Refik Koraltan
D) Fuad Köprülü
E) Adnan Menderes

3. **II. Dünya Savaşı'ndan sonra Türkiye'de kurulan ilk muhalefet partisi aşağıdakilerden hangisidir?**

A) Demokrat Parti
B) Adalet Partisi
C) Liberal Demokrat Parti
D) Millî Kalkınma Partisi
E) İslam Koruma Partisi

4. Demokrat Parti, 14 Mayıs 1950 seçimlerinde oyların %53'ünü alarak 27 yıllık kesintisiz CHP iktidarına son verdi. DP, 1954 ve 1957 seçimlerini de kazanarak 27 Mayıs 1960'a kadar on yıl iktidarda kaldı.

Demokrat Parti iktidarında başbakanlık görevini aşağıdakilerden hangisi üstlenmiştir?

A) Celal Bayar
B) Fuat Köprülü
C) Adnan Menderes
D) Nihat Erim
E) Fevzi Çakmak

5. II. Dünya Savaşı'ndan sonra TBMM'de kabul edilen yeni seçim yasası ile seçimlerin tek dereceli, gizli oy ve açık sayım esasına göre yapılması kararlaştırıldı. Seçimler yargı denetimine alındı. Seçimleri yönetmek amacıyla Yüksek Seçim Kurulu kuruldu.

Bu düzenlemelerin Türkiye'de,

I. düşünce ve duyguda birleşen toplum oluşturma,
II. halkın iradesini meclise daha güçlü yansıtma,
III. seçimlerin güven için yapılmasını sağlama

amaçlarından hangilerine yönelik olduğu savunulamaz?

A) Yalnız I B) Yalnız II C) Yalnız III D) I ve II E) II ve III

6. Türkiye'de II. Dünya Savaşı'ndan sonra edebiyatta Garip Akımı, İkinci Yeniciler, Maviciler ve Hisarcılar gibi yeni akımlar ve anlayışlar ön plana çıkmıştır.

Aşağıdakilerden hangisi bu akım ve anlayışların temsilcilerinden biri değildir?

A) Orhan Veli
B) Attila İlhan
C) Melih Cevdet Anday
D) Mehmet Emin Yurdakul
E) Cemal Süreya

Prf Yayınları
PRF YAYINLARI

7. **Soğuk Savaş Dönemi'nde Türkiye'de yaşanan aşağıdaki gelişmelerden hangisinin demokratikleşme süreciyle ilgili olduğu söylenemez?**

A) Cemiyetler Kanunu'nun değiştirilmesi
B) Devalüasyona gidilmesi
C) Çok partili seçimin yapılması
D) Gizli oy açık sayım sisteminin uygulanması
E) Yeni partilerin kurulması

8. **Türkiye'nin, Kore Savaşı'na katılmasının aşağıdaki teşkilatlardan hangisine girişini kolaylaştırdığı söylenebilir?**

A) Milletler Cemiyeti
B) Birleşmiş Milletler Teşkilatı
C) Avrupa Konseyi
D) Merkezi Antlaşma Teşkilatı
E) Kuzey Atlantik Paktı

9.

ABD'nin, II. Dünya Savaşı sonrasında Monroe Doktrini'ni terk ederek Amerika kıtasının dışına yönelmesi
1917 İhtilali sonrasında kısmen içine kapanan SSCB'nin, II. Dünya Savaşı'ndan güçlü çıkması
SSCB'nin komünist rejimini tehdit olarak gören Batılı ülkelerde, SSCB'ye karşı koyabilecek gücün ABD olabileceği düşüncesinin hakim olması
SSCB'nin, II. Dünya Savaşı sonrası kendi rejimini yaymak için dünya genelinde çabanın içine girmesi
II. Dünya Savaşı'ndan önce dünya siyasetine yön veren İngiltere ve Fransa'nın zayıflaması Almanya, İtalya ve Japonya gibi ülkelerin savaştan yenik ayrılması

Yukarıdaki tabloda II. Dünya Savaşı'ndan sonra iki kutuplu dünya düzeninin oluşmasında etkili olan nedenlerden kaç tanesi doğru verilmiştir?

A) I B) II C) III D) IV E) V

10. Soğuk Savaş Dönemi'nde ABD, İngiltere'nin doğrudan davetiyle batı liderliğini üstlenmiştir.

İngiltere'nin bu tutumunda aşağıdakilerden hangisinin etkili olduğu söylenemez?

A) Avrupalı devletlerin savaştan yıpranarak çıkması
B) SSCB'nin Türkiye de toprak ve üst istemesi
C) Yunan iç savaşının devam etmesi
D) Birleşmiş Milletler Teşkilatının barış yanlısı tutumu
E) SSCB yayılmacılığını ancak ABD'nin önleyeceği öngörüsü

11. **Türkiye'nin II. Dünya Savaşı'ndan sonra ABD'ye yakınlaşmasında,**

I. SSCB'nin Boğazlardan üs talep etmesi,
II. Almanya'nın dört işgal bölgesine ayrılması,
III. ABD'nin Monroe Doktrini'nin ilan edilmesi

gelişmelerinden hangilerinin etkili olduğu savunulabilir?

A) Yalnız I B) Yalnız II C) Yalnız III D) I ve II E) I, II ve III

12. Türkiye, Soğuk Savaş Dönemi'nde,

- Avrupa Konseyine üye olmuştur.
- Kore Savaşı'nda Güney Kore'ye destek olmak amacıyla oluşturulan Birleşmiş Milletler Kuvvetine asker göndermiştir.
- NATO'ya üye olmuştur.

Bu gelişmelerle Türkiye'nin,

I. Sovyet tehdidine karşı ülke güvenliğini sağlama,
II. Batı ile siyasi ve ekonomik ilişkiler içinde olma,
III. çok partili siyasi hayata geçme

amaçlarından hangileri arasında ilişki kurulabilir?

A) Yalnız I B) Yalnız II C) I ve II D) I ve III E) I, II ve III

Prf Yayınları
PRF YAYINLARI

TOPLUMSAL DEVRİM ÇAĞINDA DÜNYA VE TÜRKİYE

Test - 1

1. **Batı Bloğu ile Doğu Bloğu arasındaki gerginliklere yol açan sorunları karşılıklı görüşme ve iyi niyet ile çözme çabalarından oluşan Yumuşama (Detant) Dönemi'nin başlamasında,**

I. 1961'de Kennedy ile Kruşcev'in görüşmesi,
II. konvonsiyonel silahlardan nükleer silahlara geçilmesi,
III. Doğu ve Batı Bloklarının kendi içlerinde sorun yaşaması,
IV. Bağlantısızlar Hareketi'nin ortaya çıkması

gelişmelerinden hangileri etkili olmuştur?

A) I ve II B) I ve III C) II ve III
D) I, II ve III E) II, III ve IV

2. Yumuşama Dönemi'nde Doğu ve Batı blokları arasındaki ilişkiler olumlu yönde gelişmiştir.

Bu duruma,

I. Berlin duvarının örülmeye başlanması,
II. Helsinki Nihai Senedi'nin imzalanması,
III. SALT-I ve SALT-II Antlaşmalarının yapılması

gelişmelerinden hangileri örnek gösterilemez?

A) Yalnız I B) Yalnız II C) Yalnız III
D) I ve II E) II ve III

3. Bağlantısızlık akımının ortaya çıkmasında etkili olan Bandung Konferansı'nda barış içinde bir arada yaşamanın beş ilkesi üzerinde anlaşmaya varılmıştır.

Aşağıdakilerden hangisi bu ilkelerden biri değildir?

A) Siyasi bağımsızlık
B) Askerî ittifaklara katılmama
C) Birleşmiş Milletlerin kurulmasını sağlama
D) Millî kurtuluş savaşlarını destekleme
E) Kendi topraklarında başka devletlere askerî üsse izin vermeme

4. **II. Dünya Savaşı sonrasında kurulan bloklarda yaşanan;**

I. Kıbrıs Barış Harekatı'nın yapılması,
II. Fransa ile Yunanistan'ın NATO'nun askeri kanadından ayrılması,
III. ABD'nin Türkiye'ye askeri ambargo uygulaması,
IV. Çin'in SSCB'i "dünya barışının en büyük düşmanı" ilan etmesi

gelişmelerinden hangileri blok içi krizlere örnek olarak gösterilebilir?

A) Yalnız I B) I ve II C) II ve III
D) I, II ve III E) I, II, III ve IV

5. 1955'te yapılan Bandung Konferansı ile "Üçüncü Dünya Devletleri" olarak isimlendirilen Asya, Afrika ve Latin Amerika Devletleri tarafından Bağlantısızlar Bloku oluşturulmuştur.

Aşağıdakilerden hangisinin Bağlatısızlar Bloku'nun oluşturulmasının bir sonucudur?

A) Arap - İsrail savaşlarının sona ermesi
B) ASALA'nın faaliyetlerine son vermesi
C) Hindistan ile Pakistan arasındaki Keşmir sorununun çözümlenmesi
D) Sovyetler Birliği'nin dağılma sürecine girmesi
E) Dünya siyaset dengesinde gerilimi azaltacak sürecin başlaması

6. Yumuşama Dönemi'nde 1979'da ABD ve SSCB arasında Viyana'da imzalanan SALT-II Antlaşması nükleer silahsızlanma konusunda önemli antlaşmalardan birisi olmasına rağmen yürürlüğe girmemiştir.

Bu durumun gerekçesi aşağıdakilerden hangisidir?

A) ABD'nin Monroe Doktrini'ne geri dönmesi
B) Rusya'nın Afganistan'a saldırması
C) Rusya'da Bolşevik İhtilali'nin çıkması
D) Berlin Buhranı'nın ortaya çıkması
E) Kore Savaşı'nın başlaması

Prf Yayınları
PRF YAYINLARI

7. **1969'da Helsinki'de ABD ile SSCB arasında gerçekleştirilen SALT-I görüşmelerinde aşağıdakilerin hangisinde görüş birliğine varılmıştır?**

A) Kıbrıs sorununun çözülmesi
B) Nükleer silahların sınırlandırılması
C) Kore'nin güney ve kuzey olarak ikiye ayrılması
D) Almanya'nın uluslararası iş birliğine katılımının sağlanması
E) Dünya barışını sağlayacak uluslararası teşkilatın kurulması

8. **1973'te başlayan Yom Kippur Savaşı hakkında aşağıdakilerden hangisi söylenemez?**

A) Arap - İsrail savaşlarından biridir.
B) Mekik Diplomasisi sonucunda barış imzalanmıştır.
C) Savaş sonunda Arap ülkeleri, İsrail'i destekleyen Batı ülkelerine karşı petrol fiyatlarını bir siyasi güç olarak kullanma kararı almıştır.
D) İsrail, Filistin'de bağımsız devlet kurduğunu ilan etmiştir.
E) Sina Antlaşması ile Süveyş Kanalı tamamen Mısır'ın olmuştur.

9. **Aşağıdakilerden hangisi, İran – Irak savaşlarının doğrudan bir sonucu değildir?**

A) Arap birliğinin dağılması
B) İsrail'in Orta Doğu politikalarının kolaylaşması
C) İran Gate skandalının yaşanması
D) Petrol fiyatların yükselmesi
E) ABD'nin Irak'ı işgal etmesi

10. **Filistin sorununun küresel kriz haline gelmesine yol açan gelişme aşağıdakilerden hangisidir?**

A) BM kararıyla Filistin topraklarında İsrail Devleti'nin kurulması
B) Süveyş Kanalı'nın millileştirilmesi
C) İngiltere'nin Filistin'deki manda yönetimine son vermesi
D) Petrol krizin yaşanması
E) Rehineler krizinin yaşanması

11. Camp David Antlaşması, hem Orta Doğu barışının hem de İsrail – Mısır barışının esaslarını belirlemişse de büyük tepkilere yol açmıştır.

Aşağıdakilerden hangisi bu duruma kanıt olarak gösterilemez?

A) Arap Birliği'nin merkezinin Bağdat'a taşınması
B) Mısır'ın İslam Konferansı Örgütü üyeliğinin askıya alınması
C) Filistinli mülteciler sorununun ortaya çıkması
D) Bazı Arap ülkelerinin SSCB ile yakınlaşması
E) Arap devletlerinin Mısır'dan büyükelçilerini çekmesi

12. I. Filistin sorununun ortaya çıkması
II. İsrail'in Sina Yarımadası'ndan çekilmeyi kabul etmesi
III. Arap ülkelerinden Mısır'a yapılan ekonomik yardımın kesilmesi
IV. Irak'ın Arap liderliğini üstlenmek için harekete geçmesi
V. Mısır'ın İsrail'i resmen tanıması

Yukarıdakilerden hangisi 1979'da imzalanan İsrail - Mısır Barış Antlaşması'nın sonuçlarından biri değildir?

A) I B) II C) III D) IV E) V

13. Camp David Antlaşmaları ile -------- İslam dünyasındaki liderliğinin sarsılması -------- liderlik yapma konusunda harekete geçirmiştir.

Yukarıdaki cümlede boş bırakılan yerlere sırasıyla aşağıdaki seçeneklerin hangisinde verilenler getirilmelidir?

A) İran'ın - Irak'ı
B) Mısır'ın - Irak'ı
C) Irak'ın - Suriye'yi
D) Suriye'nin - Mısır'ı
E) Mısır'ın - Türkiye'yi

Prf Yayınları
PRF YAYINLARI

1. Türkiye'nin, Uluslararası Para Fonu (IMF) yardımıyla hazırladığı 5 Nisan Kararları ile öngördüğü hedeflerden bazıları şunlardır:

- Döviz kurunun hedeflenen enflasyon oranı ile uyumlu bir şekilde gelişme sağlaması
- Hazine ve diğer kamu kuruluşlarının Merkez Bankasından kredi kullanımlarına sınırlama getirilmesi
- Kamu açıklarının denetim altına alınması
- Bütçe açıklarının süratle kapatılması amacıyla akaryakıt vergisinden bütçeye aktarılan payın %50'den %70'e çıkarılması
- Kamuda personel alımlarının durdurulması

Buna göre Türkiye'nin,

I. kamu açıklarını daraltmak,
II. ekonomide büyüme sağlamak
III. ekonomiyi istikrara kavuşturmak

sorunlarından hangilerine çözüm bulmak amacıyla 5 Nisan kararlarını aldığı savunulabilir?

A) Yalnız I B) I ve II C) I ve III
D) II ve III E) I, II ve III

2. **Aşağıdakilerden hangisi 1990'lı yıllardan sonra Türkiye ile ilgili gelişmelerden biri <u>değildir</u>?**

A) 28 Şubat post-modern darbesinin gerçekleştirilmesi
B) Devrim adı verilen ilk yerli otomobilin yapılması
C) Naim Süleymanoğlu'nun halter alanında olimpiyatlarda altın madalya kazanması
D) Aziz Sancar'ın Nobel Kimya Ödülü'ne layık görülmesi
E) 27 Nisan e-muhtırasının yayınlanması

3. I. Suriye
II. Filistin
III. Pakistan

Yukarıdaki ülkelerin hangisindeki sorunların çözüme kavuşturulamaması günümüzde Orta Doğu'da siyasi istikrarın kurulmasını zorlaştırmaktadır?

A) Yalnız I B) Yalnız II C) I ve II
D) I ve III E) II ve III

4. 11 Eylül Saldırısı'nı ülkesine bir savaş ilanı olarak kabul eden ABD yönetimi, saldırının arkasında olduğuna inandığı ülkelere karşı savaş başlatmıştır.

ABD'nin bu doğrultuda askerî operasyon düzenlediği ilk ülke aşağıdakilerden hangisidir?

A) İran B) Afganistan
C) Suriye D) Irak
E) Mısır

5. Arap Baharı, 2010'da Orta Doğu ülkelerindeki demokratik olmayan yönetimlere karşı bu ülkelerin halkları tarafından daha çok demokrasi ve özgürlük talebiyle başlatılan, protesto ve ayaklanmalarla gerçekleşen halk hareketleridir

Buna göre aşağıdaki ülkelerin hangisinde Arap Baharı'nın etkili olduğu <u>söylenemez</u>?

A) Suriye
B) Tunus
C) İsrail
D) Mısır
E) Libya

6. "Bugün Sovyetler Birliği dostumuzdur, komşumuzdur, müttefikimizdir. Bu dostluğa ihtiyacımız vardır. Fakat yarın ne olacağını kimse bugünden kestiremez. Tıpkı Osmanlı gibi tıpkı Avusturya Macaristan İmparatorluğu gibi SSCB de parçalanabilir, ufalanabilir. Bugün SSCB'nin elinde sımsıkı tuttuğu milletler avuçlarından kaçabilirler. Dünya yeni dengeye ulaşabilir. İşte o zaman Türkiye ne yapacağını bilmelidir."

Atatürk'ün SSCB hakkında böyle bir düşünceye sahip olmasının nedeni olarak aşağıdakilerden hangisi gösterilebilir?

A) İnanç, kültür ve ideal bakımından farklı uluslardan oluşması
B) Yönetim sisteminin sosyalist olması
C) ABD ile Soğuk Savaş Döneminin yaşanması
D) SSCB'nin Slav kökenli ulusları birleştirmeye çalışması
E) SSCB ekonomisinin tarıma dayalı olması

Prf Yayınları
PRF YAYINLARI

7. **Gorbaçov'un** "Her ulus istediği kalkınma yolunu seçme, kendi kaderini tayin etme, topraklarını ve insan kaynaklarını istediği gibi kullanma hakkına sahiptir." **açıklamasının sonucu olarak;**

I. Sovyet uydusu ülkelerin bağımsızlığını kazanması,
II. Dünyadaki nükleer rekabet ve kutuplaşmanın etkinlik kazanması,
III. Orta Doğu üzerindeki rekabetin artması

gelişmelerinden hangilerinin hızlandığı söylenebilir?

A) Yalnız I B) Yalnız II C) Yalnız III
D) II ve III E) I, II ve III

8. SSCB lideri Gorbaçov 1987'de ilan ettiği glastnost programıyla parti içi seçimlerde gizli oy sisteminin getirilmesi, parti politikalarını eleştirmeyi engelleyen yasaların yürürlükten kaldırılması ve yönetilenlerin siyasi elitlere dava açabilmesini sağlayan düzenlemelerin hayata geçirilmesi için çalışmıştır.

Buna göre Gorbaçov glastnost programıyla aşağıdakilerden hangisini amaçlamıştır?

A) Batı Avrupa ülkeleriyle iyi ilişkiler kurmayı
B) SSCB içindeki cumhuriyetler arasında ekonomik iş birliğini güçlendirmeyi
C) Sanayi işletmelerini özelleştirmeyi
D) Komünist Partinin devlet yönetimindeki etkisini artırmayı
E) Devlet yönetimini demokratikleştirmeyi

9. **SSCB'nin dağılma sürecinde yaşanan;**

I. Varşova Paktı'nın dağılması,
II. Rusya Federasyonu'nun, bağımsızlığını ilan etmesi,
III. Comecon'un sona ermesi

gelişmelerinden hangilerinin NATO'nun Doğu Avrupa'da genişlemesine doğrudan etkisi olmuştur?

A) Yalnız I B) Yalnız III C) I ve III
D) II ve III E) I, II ve III

10. **SSCB'nin parçalanması;**

I. Soğuk Savaş Dönemi'nin sona ermesi,
II. Orta Asya'da, Balkanlarda ve Kafkaslarda yeni devletlerin kurulması,
III. Türkiye'nin, Türk cumhuriyetleriyle siyasi, kültürel ve ekonomik ilişkilerin kolaylaşması

sonuçlarından hangilerine ortam hazırlamıştır?

A) Yalnız I B) Yalnız II C) I ve III
D) II ve III E) I, II ve III

11.

> Dünyanın en büyük tahıl üreticisi ülke, her yıl hayvan yemi olarak milyonlarca ton tahıl ithal ediyordu. Ülkemiz dünyada her bin kişiye en çok hastane ve doktor sunan ülke olmasına rağmen sağlık hizmetlerinde şaşırtıcı aksaklıklar vardı. Füzelerimizin Halley kuyruklu yıldızını bulmakta ve Venüs gezegenine ulaşmakta gösterdikleri dakikliğin yanı sıra bu bilimsel ve teknolojik başarıları ekonomik gereksinmeler için kullanamıyorduk. Sovyet evlerindeki birçok beyaz eşyanın kalitesi kötüydü. Üstelik halkımızın ideolojik ve manevi değerleri de giderek aşınmaya başlamıştı.

Mihail Gorbaçov'un, "Perestroika" **adlı eserinde verdiği bu bilgilere göre Sovyetler Birliği'nin dağılmasına yol açan temel sorunun aşağıdakilerden hangisi olduğu savunulabilir?**

A) Tarım alanlarının daralması
B) Nüfus azlığı
C) Teknolojideki gerilik
D) Kötü yönetim
E) İç çatışmalar

12. **Aşağıdakilerden hangisi SSCB'nin parçalanmasıyla bağımsızlığını kazanan Türk cumhuriyetlerinden biri değildir?**

A) Özbekistan B) Kırgızistan
C) Kazakistan D) Moğolistan
E) Azerbaycan

Prf Yayınları
PRF YAYINLARI

1. **Yeni Türk Devleti'nde çok partili siyasi hayata geçiş denemelerinin başarısız olmasında, aşağıdaki durumlardan hangisinin etkili olduğu savunulamaz?**

A) Rejim karşıtı ayaklanmaların yaşanması
B) İnkılapların korunmak istenmesi
C) Farklı görüş ve düşüncelerin yönetime yansıtılmak istenmesi
D) Toplumun laikliği tam benimsememiş olması
E) Toplumun belli bir siyasi olgunluğa ulaşmasının beklenmesi

2. **Türk tarihinde yaşanan,**

I. 31 Mart Olayı,
II. Şeyh Sait Ayaklanması,
III. Kubilay Olayı

gelişmelerinden hangilerinin laik cumhuriyet rejimine karşı yapıldığı söylenebilir?

A) Yalnız I B) Yalnız II C) I ve II
D) II ve III E) I, II ve III

3. **Türkiye'nin, Musul meselesinde** "Bölgenin Misakımillî ilkeleri gereği Türk yurdu olduğu ve Türkiye'ye bırakılması gerektiği" **tezini savunmasında,**

I. demografik yapı,
II. ekonomik yapı,
III. kültürel yapı

durumlarından hangilerinin ölçüt alındığı söylenebilir?

A) Yalnız I B) Yalnız III C) I ve III
D) II ve III E) I, II ve III

4. **Aşağıdakilerden hangisinin Hayat Sahası olarak adlandırılan dış politika ilkesi doğrultusunda yayılmacı bir tutum izlemesi dünya barışının bozulmasına yol açmıştır?**

A) Adolf Hitler
B) Josef Stalin
C) Benito Mussolini
D) Vladimir Lenin
E) Harry Truman

5. I. Türk ve İslam birliğini sağlamak
II. Barışı ve ulusal çıkarları temel almak
III. Başka devletlerin iç politika ve yönetimlerinden etkilenmemek

Yukarıdakilerden hangileri Atatürk döneminde benimsenen dış politika ilkeleri arasında gösterilemez?

A) Yalnız I B) Yalnız II C) Yalnız III
D) I ve III E) II ve III

6. **Musul sorununun çözülmesi Türkiye ile aşağıdaki devletlerden hangisi arasındaki ilişkilerin iyileşmesini sağlamıştır?**

A) SSCB B) İngiltere
C) İsrail D) Fransa
E) Almanya

7. I. İstanbul
II. Gökçeada
III. Bozcaada
IV. İzmir
V. Bursa

Yukarıdakilerin hangilerinde yaşayan Rumlar 1930 yılında imzalanan Nüfus Mübadelesi Antlaşması'nın kapsamı dışında tutulmuştur?

A) I ve II B) II ve IV C) III ve V
D) I, II ve III E) I, IV ve V

8. **1929 Dünya Ekonomik Bunalımı, Türkiye'nin aşağıdaki sorunlardan hangisini çözmesini zorlaştırmıştır?**

A) Nüfus mübadelesi
B) Dış borçlar
C) Boğazlar
D) Musul
E) Hatay

Prf Yayınları
PRF YAYINLARI

9. Türkiye Tevhid-i Tedrisat Kanunu gereği 1926'da çıkardığı Maarif Teşkilatı Hakkında Kanun ile yabancı okullarda Türkçe, tarih ve coğrafya derslerinin Türkçe ve Türk öğretmenlerce okutulması, denetimlerinin Türk Millî Eğitim müfettişlerince yapılması zorunluluğunu getirdi. Fransa bu karara tepki gösterdi ve konuyu Türkiye ile görüşmek istedi. Türkiye, konuyu iç sorun olarak gördüğünden Fransa'yla görüşmeyi reddetti ve kurallara uymayan okullar kapatıldı.

Türkiye'nin yabancı okullar konusundaki bu tutumu aşağıdakilerden hangisine önem verdiğini göstermez?

A) Avrupalı devletlerle diplomatik ilişkilerin sona erdirilmesine
B) Egemen devlet haklarının korunmasına
C) İç işlerine yabancı devletlerin karıştırılmamasına
D) Yabancı okullarda millî kültürün öğretilmesine
E) Yabancı okulların devlet denetimine alınmasına

10. **Türkiye'nin,**

I. Milletler Cemiyetine katılması,
II. Briand-Kellogg Paktı'na üye olması,
III. Sadabat Paktı'nın kurulmasına öncülük etmesi

durumlarından hangileri "yurtta barış, dünyada barış" politikasına uygundur?

A) Yalnız I B) Yalnız II C) I ve II
D) I ve III E) I, II ve III

11. 1960 - 1980 yılları arasında Türkiye'de köyden kente göç, gecekondulaşma ve işçi sayısı artmış, daha önce başlayan sendikal faaliyetler yoğunlaşmıştır. Sanayileşmeyle artan köyden kente göç, çarpık kentleşmenin ortaya çıkmasına yol açmıştır.

Buna göre 1960 - 1980 döneminde Türkiye ile ilgili aşağıdakilerden hangisi söylenebilir?

A) Eğitim faaliyetlerine önem verilmiştir.
B) Toplumsal değişmeler yaşanmıştır.
C) Halkın yönetimdeki temsil gücü artmıştır.
D) Planlı ve hızlı ekonomik kalkınma amaçlanmıştır.
E) Çok partili siyasi hayata geçilmiştir.

12. **Türkiye'nin II. Dünya Savaşı sırasında Müttefik Devletlerle yaptığı görüşmeler arasında,**

I. Moskova Konferansı,
II. Kahire Konferansı,
III. Yalta Konferansı

gelişmelerinden hangileri gösterilebilir?

A) Yalnız I B) Yalnız II C) Yalnız III
D) I ve II E) II ve III

13. İkinci Dünya Savaşı öncesinde Adolf Hitler liderliğinde Nazilerin savunduğu görüşe göre "Üstün ırk olan Almanlar sıkışıp kaldıkları alanlardan diğer ırkların, ellerinde bulunan topraklara doğru genişleme hakkına sahiptir."

Almanya'nın bu amaç doğrultusunda uyguladığı yayılmacı politika, aşağıdakilerden hangisidir?

A) Ortak Refah Alanı
B) Pozitif Politika
C) Büyük Doğu Asya
D) Hayat Sahası
E) Bizim Deniz (Mare Nostrum)

14. **Türkiye'nin II. Dünya Savaşı sırasında aşağıdaki uygulamalarından hangisinin ekonomik tedbir amaçlı olduğu söylenemez?**

A) Varlık vergisini uygulaması
B) Karşılıksız para basması
C) Narh sistemini uygulaması
D) Sokağa çıkma yasağı ve karartma uygulaması
E) Karne uygulaması

15. **Soğuk Savaş Dönemi'nde ABD, Orta Doğu'da etkinliğini artırmak için aşağıdakilerden hangisini uygulamaya koymuştur?**

A) Marshall Planı
B) Comecon
C) Truman Doktrini
D) Monrea Doktrini
E) Eisenhower Doktrini

Prf Yayınları
PRF YAYINLARI

ÜNİTE ÖLÇME TESTİ

Test - 1

1. **Türkiye'nin de yer aldığı Sadabat Paktı aşağıdaki ülkelerin hangisinde imzalanmıştır?**

A) Türkiye
B) Afganistan
C) İran
D) Irak
E) İngiltere

2. **Enver Paşa aşağıdakilerden hangisine katılarak Türkistan'ın bağımsızlığı amacıyla mücadele etmiştir?**

A) Bolşevik İhtilali
B) Tuz Yürüyüşü
C) İttihat ve Terakki Cemiyeti
D) Basmacı Hareketi
E) Kara Gömlekliler Yürüyüşü

3. **Türkiye, Almanya'nın saldırgan politikalarını, Japonya'nın 1931'de Mançurya'yı işgalini, İtalya'nın 1935'te Habeşistan'ı işgalini ve On İki Ada'yı silahlandırmasını Lozan'ın aşağıdaki konuların hangisindeki hükümlerinin değiştirilmesi için gerekçe göstermiştir?**

A) Boğazlar
B) Azınlıklar
C) Sınırlar
D) Dış borçlar
E) Kapitülasyonlar

4. **Yeni Türk Devleti'nin gerçekleştirdiği,**

I. Balkan Antantı,
II. Sadabat Paktı,
III. Montrö Boğazlar Sözleşmesi

gelişmelerinden hangileri ile Türkiye'nin yayılmacı devletlere karşı tedbir aldığı savunulabilir?

A) Yalnız I
B) Yalnız II
C) I ve II
D) I ve III
E) I, II ve III

5. Çarlık rejiminin yıkılmasından sonra Bolşeviklerin kurduğu Sovyet Hükûmeti, 3 Mart 1918'de Brest-Litowsk Antlaşması'yla I. Dünya Savaşı'ndan çekilmiştir.

Bolşeviklerin bu tutumu aşağıdakilerden hangisine öncelik verdiklerini gösterir?

A) Anlaşma Devletlerinin desteğini sağlamaya
B) Demokrasi anlayışını yerleştirmeye
C) Orta Asya'da yayılma siyasetine son vermeye
D) Basmacı Hareketini ortadan kaldırmaya
E) İç karışıklıkları önleyerek devrimi pekiştirmeye

6. **Cumhuriyet Dönemi'nde yaşanan,**

I. Terakkiperver Cumhuriyet Fırkasının açılması,
II. Menemen Olayı,
III. Serbest Cumhuriyet Fırkasının kurulması,
IV. Şeyh Sait Ayaklanması

gelişmelerinin oluş sırası aşağıdakilerin hangisinde doğru olarak verilmiştir?

A) I, II, III, IV
B) I, IV, III, II
C) II, I, III, IV
D) II, III, I, IV
E) III, IV, I, II

7. **İsmet İnönü'nün;** "Bizim tek eksiğimiz hükümet partisinin karşısında bir parti bulunmamasıdır." **sözü üzerine Türkiye'de;**

I. çok partili siyasete geçilmesi,
II. tek dereceli seçim sistemine geçilmesi,
III. Serbest Cumhuriyet Fırkasının kurulması

gelişmelerinden hangilerinin yaşandığı söylenebilir?

A) Yalnız I
B) Yalnız III
C) I ve II
D) I ve III
E) I, II ve III

Prf Yayınları
PRF YAYINLARI

8. **1950'lerin Türkiye'sinde görülen aşağıdaki gelişmelerden hangisinin Marshall Yardımı'nın sonucu olduğu söylenemez?**

A) Tarımda makineleşmenin artması
B) Karayolu yapımına önem verilmesi
C) Ekonomide hızlı bir gelişme yaşanması
D) IMF ile antlaşma yapılması
E) Çok sayıda traktör alınması

9. I. Dünya Savaşı'ndan sonra imzalanan barış antlaşmaları istenilen sonucu vermemiş, II. Dünya Savaşı'nın çıkmasını engelleyememiştir.

Buna göre aşağıdaki antlaşmalardan hangisinin yeterince bağlayıcı olmadığı söylenebilir?

A) Versay
B) Sevr
C) Rethondes
D) Sykes - Picot
E) Mondros

10. Aşağıdaki öğrenciler 1929 Dünya Ekonomik Krizi ile ilgili sohbet etmektedirler:

- Ayla: ABD'de başlamış daha sonra birçok ülkeyi de etkileyerek küresel sonuçlar ortaya çıkarmıştır.
- Yusuf: Talebin aşırı düşmesi nedeniyle madencilik sektörü krizden en çok etkilenen sektörlerden biri olmuştur.
- Yiğit: Dünya ticareti büyük düşüş yaşamıştır.
- Meryem: SSCB uyguladığı planlı ekonomi nedeniyle krizden fazla etkilenmemiştir.
- Ceyda: ABD'nin Monroe Doktrini'ni uygulamasının bir sonucudur.

Hangi öğrencilerin verdiği bilgi yanlıştır?

A) Yalnız Yusuf
B) Yalnız Ceyda
C) Ayla – Yusuf
D) Yiğit – Meryem
E) Yusuf – Ceyda

11. I. Avrupa
II. Uzak Doğu
III. Kuzey Afrika

Yukarıdaki bölgelerden hangileri II. Dünya Savaşı'ndaki çatışma alanları arasında gösterilebilir?

A) Yalnız I B) Yalnız II C) I ve II
D) II ve III E) I, II ve III

12. 1929'da başlayan Dünya Ekonomik Krizi Türkiye'de de ekonomik durgunluğa yol açmıştır.

Aşağıdakilerden hangisi Türkiye'nin bu süreçteki çabalarından biri değildir?

A) Devletçilik ilkesinin uygulamaya konulması
B) Yerli malı kullanımının özendirilmesi
C) Misak-ı İktisadi kararlarının alınması
D) Merkez Bankasının kurulması
E) I. Beş Yıllık Kalkınma Planı'nın hazırlanması

13. **Türkiye'nin çok partili hayata geçişi sağladığı yıllarda Cumhurbaşkanı aşağıdakilerden hangisidir?**

A) Celal Bayar B) İsmet İnönü
C) Adnan Menderes D) Refik Saydam
E) Fahri Korutürk

14. I. NATO
II. Varşova Paktı
III. Birleşmiş Milletler

Yukarıdaki kurumların kuruluş sırası aşağıdakilerin hangisinde doğru olarak verilmiştir?

A) I, II, III B) II, I, III C) III, I, II
D) III, II, I E) II, III, I

Prf Yayınları
PRF YAYINLARI

ÖZEL TEST (İLERİ DÜZEY SORULAR) Test

1. **Aşağıdakilerden hangisi diğerlerinden sonra gerçekleşmiştir?**

A) Türkiye'nin Milletler Cemiyetine üye olması
B) Balkan Antantının imzalanması
C) Montrö Boğazlar Sözleşmesi'nin imzalanması
D) Hatay'ın anavatana katılması
E) Sadabat Paktının kurulması

2. **Atatürk Dönemi'nde 1931 - 1938 yılları arasında Türk dış politikasının öncelikli hedefi aşağıdakilerden hangisidir?**

A) Sınırları genişletme
B) Dünya barışına katkı sağlama
C) Dünya ekonomik krizinin etkisini azaltma
D) Lozan'dan kalan sorunları çözme
E) Hatay'ı anavatana katma

3. Camp David Antlaşmalarına karşı çıkan bazı Arap devletleri Red Cephesi kurarak SSCB'ye yakınlaşmışlardır.

Aşağıdakilerden hangisi bu devletlerden biri değildir?

A) Libya
B) Cezayir
C) Irak
D) Suriye
E) Mısır

4. **II. Dünya Savaşı'nın ilk üç yılında durdurulamayan Almanları ilk durduran devlet olan SSCB bunu aşağıdaki gelişmelerden hangisi ile gerçekleşmiştir?**

A) Kartal Hücumu
B) Stalingrat Savunması
C) Normandiya Çıkarması
D) Pearl Harlbour Baskını
E) Yıldırım Harekatı

5. 1990'lı yılların başında Soğuk Savaş Dönemi'nin süper güçlerinden biri olan SSCB dağılmıştır.

Aşağıdakilerden hangisi bu durumun sonuçları arasında gösterilemez?

A) NATO'nun güç kaybetmesi
B) ABD'nin dünya siyasetindeki ağırlığının artması
C) Bloklar arasında yaşanan gerginliğin yerini yumuşamaya bırakması
D) İki kutuplu dünya düzeninin sona ermesi
E) Asya'nın siyasi haritasının değişmesi

6. Orta Doğu; tarihî, coğrafî, stratejik ve ekonomik nedenlerle dünya politikasında önemli bir yere sahip olmuştur.

Aşağıdakilerden hangisinde Orta Doğu'ya yönelik kararların yer aldığı söylenemez?

A) Balfour Deklarasyonu'nda
B) Eisenhower Doktrini'nde
C) Camp David Antlaşmalarında
D) Schuman Bildirisi'nde
E) San Remo Konferansı'nda

7. **Atatürk** "Savaşın ciddiyetini dikkate almayan bazı önderler saldırının aracı olmuşlardır. Kontrolleri altındaki milletlere milliyetçiliği yanlış bir şekilde göstererek, kötüye kullanmışlardır." **sözü ile,**

I. Almanya,
II. İtalya,
III. İngiltere

devletlerinden hangilerinin politikalarını eleştirmiştir?

A) Yalnız I B) Yalnız II C) I ve II
D) I ve III E) I, II ve III

Prf Yayınları
PRF YAYINLARI

8.
- Molotof Planı
- Soğuk Savaş
- Varşova Paktı
- Cominform

Kavramlar ile aşağıdaki tanımlar eşleştirildiğinde hangisi dışarıda kalır?

A) Çekoslovakya'daki serbest seçimlerin takibinde Dubcek tarafından ortaya konan hareketi ifade eder.
B) SSCB ile Doğu Avrupa'da ülkelerindeki komünist partiler arasındaki ideolojik iş birliğini ifade eder.
C) İlk kez 1947'de ABD'li Bernard Barch tarafından dile getirilen Doğu ile Batı Bloku arasındaki gergin dönemi ifade eder.
D) NATO'ya karşı, komünist ülkeler tarafından kurulmuş askeri ve siyasi birliği ifade eder.
E) SSCB'nin Marshall Planı'na karşılık sosyalist ülkelere ekonomik yardımını ifade eder.

9. **27 Ağustos 1928 tarihinde Briand - Kellogg Paktını imzalayan devletler aşağıdakilerden hangisini kabul etmişlerdir?**

A) Türkiye'nin Milletler Cemiyetine katılmasını
B) Savunmaya dayanmayan savaşın kanun dışı olduğunu
C) Orta Doğu'daki manda yönetimlerinin kaldırılmasını
D) Türkiye'nin dış borçlarını taksitler hâlinde ödemesini
E) Almanya'nın, Avusturya ile birleşmesini

10. **Türkiye'nin 1937'de Sadabat Paktını imzalaması,**

I. İran,
II. Irak,
III. Suriye

devletlerinden hangileriyle sınır güvenliğini sağlamıştır?

A) Yalnız I B) Yalnız II C) I ve II
D) I ve III E) I, II ve III

11. Aslı'nın inkılap tarihi dersi ile ilgili doğru yanlış etkinliğine verdiği cevaplar aşağıdaki gibidir:

1. İran - Irak Savaşı'nda Suriye ve Libya İran'ı desteklerken; Suudi Arabistan, Ürdün ve Körfez Ülkeleri Irak'a destek vermiştir. ABD, SSCB, Avrupa ülkeleri ve Türkiye tarafsız kalmıştır. (D)
2. Bağlantısızlar Hareketi Mekik Diplomasisi ile başlamıştır. (Y)
3. Cengiz Topel, Türk Hava Kuvvetlerinin 1964'te Kıbrıs'a düzenlediği hava harekatında uçağının düşürülmesi sonucu Rumlar tarafından esir alınarak şehit edilmiştir. (Y)
4. 68 Kuşağı, Türkiye'de de etkili olan demokrasi adına yapılan gençlik hareketidir. (D)
5. "Susuz Yaz" filmi, 1963'te Berlin Film Festivali'nde "Altın Ayı" ödülünü kazanarak uluslararası alanda önemli bir ödülün sahibi olmuştur. (D)

Aslı'nın verdiği cevaplardan kaç tanesi doğrudur?

A) 1 B) 2 C) 3 D) 4 E) 5

12. **Atlantik Bildirisi, 14 Ağustos 1941 tarihinde aşağıdakilerin hangisindeki devletlerin imzasıyla yayımlanmıştır?**

A) Almanya - Japonya
B) Fransa - İngiltere
C) SSCB - ABD
D) İtalya - Japonya
E) İngiltere - ABD

13. Dünyada yaşanılan bazı anlaşmazlıklara çözüm bulmak amacıyla dönem dönem ara buluculuk faaliyetlerinde bulunulmuştur.

Bu doğrultuda yapılan,

I. Annan Planı,
II. Reval Görüşmeleri,
III. Camp David Görüşmeleri

arabuluculuk girişimlerinden hangileriyle İsrail - Mısır arasındaki sorunlara çözüm bulunması amaçlanmıştır?

A) Yalnız I B) Yalnız III C) I ve III
D) II ve III E) I, II ve III

Prf Yayınları
PRF YAYINLARI

ÖZEL TESTİN ÇÖZÜMLERİ

ÇÖZÜM

1. Türkiye'nin dış politikasında yaşanan gelişmelerle ilgili seçeneklerde verilen gelişmelerin oluş sırası şu şekildedir:

A)	Türkiye'nin Milletler Cemiyetine üye olması	1932
B)	Balkan Antantının imzalanması	1934
C)	Montrö Boğazlar Sözleşmesi'nin imzalanması	1936
D)	Hatay'ın anavatana katılması	1939
E)	Sadabat Paktının kurulması	1937

A	B	C	E	D

Cevap D

ÇÖZÜM

2. Atatürk döneminin Türk dış politikası iki dönemden oluşmaktadır. Birinci dönem 1923 - 1930 dönemidir. Bu dönemde öncelikle Lozan Antlaşması'ndan kalan sorunların çözümüne yönelik çalışmalar yapılmıştır. İkinci dönem ise 1931 - 1938 dönemidir. Bu dönem dünyada yeni bir savaş rüzgarlarının estiği, barışın tehlikeye girdiği dönemdir. Türkiye bu dönemde hem bölgesel hem de küresel anlamda barışın korunmasına yönelik çalışmalar yapmıştır.

Cevap B

ÇÖZÜM

3. Camp David Antlaşmalarını imzalayan devlet Mısır'dır. Mısır'ın bu tutumu bazı Arap devletleri tarafından tepkiyle karşılanmış, Libya, Cezayir, Irak ve Suriye Red Cephesi adı verilen oluşum kurmuşlardır. Mısır antlaşmayı imzalayan devlet olduğu için Red Cephesi'nde yer alan bir devlet değildir.

Cevap E

ÇÖZÜM

4. II. Dünya Savaşı'nda Alman ordusu 22 Haziran 1941'de SSCB'nin işgaline yöneldi. SSCB'nin kömür ve elektrik kaynaklarının yarısını ele geçirmesine rağmen Moskova'yı alamadı. SSCB orduları Stalingrad'a çekildi. 22 Ağustosta Stalingrad'da başlayan ve üç ay süren mücadele, Almanların yenilgisiyle sonuçlandı. Bu yenilgi Mihver Devletler için bir dönüm noktası oldu.

Cevap B

ÇÖZÜM

5. SSCB'nin 1991'de dağılması hem bölgesel hem de küresel alanda önemli sonuçlar ortaya çıkarmıştır. B, C, D ve E seçeneklerinde verilenler bu sonuçlar arasında gösterilebilir. A seçeneğinde verilen "NATO'nun güç kaybetmesi" seçeneği ise SSCB'nin dağılmasının bir sonucu değildir. Çünkü NATO ya da Kuzey Atlatik İttifakı ((North Atlantik Treaty Organization) SSCB'nin tehditlerine karşılık 4 Nisan 1949'da 12 Batılı ülke (İngiltere, Fransa, Belçika, Hollanda, İtalya, İzlanda, Danimarka, Lüksemburg, Norveç, Portekiz, ABD, Kanada) arasında kurulmuştur. NATO'nun kurulmasıyla Sovyet yayılmasına karşı etkili bir set oluşturulmuştur. Dolayısıyla SSCB NATO'nun bir üyesi olmadığı için bu devletin dağılmasıyla NATO'nun güç kaybetmesi gibi durum da söz konusu değildir.

Cevap A

ÇÖZÜM

6. Balfour Deklarasyonu: İngiliz Dışişleri Bakanı Balfour'un, 2 Kasım 1917de Siyonist Federasyonu Başkanı'na gönderdiği mektuptur. Bununla İngiltere Filistin'de bir Yahudi devleti kurulmasını kabul ettiğini resmen bildirmişti. "Balfour Deklarasyonu" adını alan bu belge, Yahudi devleti kurulması sorununun bir dönüm noktası sayılmaktadır.

Eisenhower Doktrini: ABD Başkanı Eisenhower'ın, Orta Doğu'nun SSCB'nin kontrolüne girmesini engellemek ve bölge halkını ABD'nin yanına çekmek için 5 Ocak 1957'de kongreye gönderdiği mesajdır.

Camp David Antlaşmaları: 1978'de ABD'nin aracılığıyla İsrail ve Mısır arasında Filistin meselesi ve iki ülke arasındaki barış esaslarını içeren antlaşmadır.

Schuman Bildirisi: 9 Mayıs 1950 tarihinde Fransız Dış İşleri Bakanı Schuman'ın yayımladığı bildiridir. Bu bildiri ile Avrupa devletleri arasında birliğin kurulmasının ilk adımı atılmıştır. Orta Doğu'ya yönelik değildir.

San Remo Konferansı: İngiltere ile Fransa'nın 1920'de Orta Doğu topraklarını kendi aralarında paylaştıkları konferanstır.

Cevap D

ÇÖZÜM

7. Atatürk, "Savaşın ciddiyetini dikkate almayan bazı önderler saldırının aracı olmuşlardır. Kontrolleri altındaki millete milliyetçiliği yanlış bir şekilde göstererek, kötüye kullanmışlardır." sözü ile I. Dünya Savaşı'ndan sonra İtalya'da Mussolini'nin, Almanya'da Hitler'in iktidara gelerek yayılmacı dış politika takip ederek istikrarı ve barış ortamını bozmalarını eleştirmiştir.

Cevap C

Prf Yayınları
PRF YAYINLARI

ÇÖZÜM

8.

Molotof Planı	SSCB'nin Marshall Planı'na karşılık sosyalist ülkelere ekonomik yardımını ifade eder.
Soğuk Savaş	İlk kez 1947'de ABD'li Bernard Barch tarafından dile getirilen Doğu ile Batı Bloku arasındaki gergin dönemi ifade eder.
Varşova Paktı	NATO'ya karşı, komünist ülkeler tarafından kurulmuş askeri ve siyasi birliği ifade eder.
Cominform	SSCB ile Doğu Avrupa'da ülkelerindeki komünist partiler arasındaki ideolojik iş birliğini ifade eder.

Cevap A

ÇÖZÜM

9. Briand-Kellogg Paktı 27 Ağustos 1928'de Paris'te ABD, İngiltere, Fransa, Almanya, İtalya, Japonya, Polonya, Çekoslovakya ve Belçika arasında imzalanmıştır. Aynı yıl Sovyetler Birliği ve Türkiye de antlaşmaya dâhil olmuştur. Briand-Kellogg Paktı ile "savunmaya dayanmayan savaş, kanun dışı sayılmış ve devletler arası ilişkilerde barışçı yollara başvurulması" esas alınmıştır.

Cevap B

ÇÖZÜM

10. Sadabat Paktı, Türkiye'nin öncülüğünde imzalanmıştır. Türkiye açısından pakt, Atatürk'ün barışçı dış politikasını ve ülkenin etrafını dostluk çemberi ile kuşatma isteğini yansıtmaktadır. Bölgesel nitelikli pakta Türkiye ile birlikte İran, Irak ve Afganistan katılmıştır. Paktı imzalayan devletler sınır güvenliğini de garanti etmişlerdir. Paktta Suriye yer almadığı için Türkiye'nin bu devlet ile sınır güvenliğini sağlama durumu olmamıştır.

Cevap C

ÇÖZÜM

11.

	Bilgi	Aslı'nın Cevabı	Doğru Cevap
1	İran - Irak Savaşı'nda Suriye ve Libya İran'ı desteklerken; Suudi Arabistan, Ürdün ve Körfez Ülkeleri Irak'a destek vermiştir. ABD, SSCB, Avrupa ülkeleri ve Türkiye tarafsız kalmıştır.	D	D
2	Bağlantısızlar Hareketi Mekik Diplomasisi ile başlamıştır.	Y	Y
3	Cengiz Topel, Türk Hava Kuvvetlerinin 1964'te Kıbrıs'a düzenlediği hava harekatında uçağının düşürülmesi sonucu Rumlar tarafından esir alınarak şehit edilmiştir.	Y	D
4	68 Kuşağı, Türkiye'de de etkili olan demokrasi adına yapılan gençlik hareketidir.	D	D
5	"Susuz Yaz" filmi, 1963'te Berlin Film Festivali'nde "Altın Ayı" ödülünü kazanarak uluslararası alanda önemli bir ödülün sahibi olmuştur.	D	D

Cevap D

ÇÖZÜM

12. Atlantik Bildirisi, II. Dünya Savaşı sırasında, 14 Ağustos 1941'de, İngiltere Başbakanı Winston Churchill ile o sırada henüz savaşa girmemiş olan ABD Başkanı Franklin D. Roosevelt arasında Kanada açıklarında bir savaş gemisinde yapılan görüşmeler sonucunda dünya barışını sağlamaya yönelik ortak bildiridir.

Cevap E

ÇÖZÜM

13. I. Annan Planı, Kıbrıs sorununun çözümüne yöneliktir.

II. Reval Görüşmeleri, 1908'de İngiltere ile Rusya'nın Osmanlı Devleti'nin Rumeli topraklarını parçalamaya yönelik kararlar aldığı görüşmedir.

III. Camp David Görüşmeleri, Mısır ile İsrail arasındaki sorunların çözümüne yöneliktir.

Cevap B

Prf Yayınları
PRF YAYINLARI

1. ÜNİTE: TARİH VE ZAMAN

TEST - 1	1-E	2-C	3-E	4-A	5-D	6-B	7-C	8-D	9-B	10-B	11-C	12-D	13-A	14-A	15-E	16-B
TEST - 2	1-E	2-A	3-C	4-B	5-E	6-A	7-D	8-D	9-C	10-D	11-A	12-B	13-C	14-E		

2. ÜNİTE: İNSANLIĞIN İLK DÖNEMLERİ

TEST - 1	1-B	2-D	3-A	4-A	5-E	6-B	7-C	8-E	9-B	10-B	11-C	12-D	13-D	14-E		
TEST - 2	1-B	2-A	3-C	4-E	5-D	6-A	7-C	8-B	9-D	10-A	11-E	12-D	13-C	14-B	15-E	
TEST - 3	1-A	2-A	3-E	4-D	5-B	6-E	7-C	8-D	9-A	10-D	11-E	12-E	13-B	14-C		
TEST - 4	1-E	2-D	3-B	4-D	5-A	6-E	7-D	8-A	9-D	10-B	11-E	12-A	13-C	14-E	15-C	
TEST - 5	1-E	2-C	3-D	4-E	5-A	6-B	7-C	8-B	9-D	10-A	11-B	12-B	13-C	14-E		
TEST - 6	1-B	2-C	3-A	4-A	5-C	6-E	7-D	8-E	9-E	10-C	11-A	12-C	13-B	14-B	15-D	16-E

3. ÜNİTE: ORTA ÇAĞ'DA DÜNYA

TEST - 1	1-C	2-A	3-E	4-D	5-D	6-E	7-D	8-B	9-E	10-A	11-C	12-B	13-B	14-D	15-C
TEST - 2	1-A	2-B	3-E	4-B	5-E	6-D	7-A	8-C	9-D	10-E	11-E	12-B	13-A	14-C	

4. ÜNİTE: İLK VE ORTA ÇAĞLARDA TÜRK DÜNYASI

TEST - 1	1-D	2-A	3-C	4-E	5-B	6-E	7-D	8-E	9-B	10-D	11-C	12-A	13-B			
TEST - 2	1-D	2-B	3-A	4-C	5-A	6-E	7-D	8-B	9-E	10-E	11-C	12-B	13-D	14-A	15-C	
TEST - 3	1-C	2-D	3-C	4-D	5-E	6-A	7-B	8-E	9-A	10-B	11-B	12-C	13-D			
TEST - 4	1-E	2-B	3-B	4-D	5-A	6-C	7-A	8-A	9-C	10-B	11-D	12-D	13-E	14-E		
TEST - 5	1-D	2-C	3-E	4-A	5-D	6-B	7-A	8-A	9-E	10-C	11-C	12-C	13-E	14-D	15-B	
TEST - 6	1-A	2-C	3-E	4-D	5-B	6-C	7-B	8-E	9-C	10-E	11-D	12-D	13-A	14-B	15-D	16-A

5. ÜNİTE: İSLAM MEDENİYETİNİN DOĞUŞU

TEST - 1	1-C	2-B	3-B	4-A	5-B	6-D	7-D	8-A	9-C	10-B	11-C	12-A	13-E	14-E	
TEST - 2	1-B	2-A	3-C	4-E	5-E	6-A	7-E	8-D	9-B	10-C	11-A	12-B	13-D	14-E	15-A
TEST - 3	1-D	2-B	3-E	4-A	5-C	6-E	7-B	8-C	9-E	10-C	11-D	12-E	13-A	14-A	15-D
TEST - 4	1-D	2-E	3-D	4-B	5-C	6-C	7-A	8-E	9-B	10-E	11-D	12-B	13-C	14-A	15-A

PRE YAYINLARI

6. ÜNİTE: TÜRKLERİN İSLAMİYET'İ KABULÜ VE İLK TÜRK İSLAM DEVLETLERİ

TEST - 1	1-D	2-B	3-A	4-B	5-E	6-E	7-C	8-A	9-E	10-D	11-B	12-C	13-A	14-D	15-C	16-E
TEST - 2	1-A	2-C	3-B	4-C	5-E	6-D	7-B	8-C	9-D	10-E	11-C	12-E	13-B	14-A		
TEST - 3	1-A	2-C	3-D	4-E	5-A	6-B	7-C	8-C	9-E	10-B	11-C	12-A	13-E	14-D	15-B	
TEST - 4	1-A	2-E	3-B	4-C	5-B	6-E	7-C	8-D	9-B	10-E	11-C	12-C	13-E	14-D	15-A	

GENEL TARAMA TESTLERİ (1 - 6. ÜNİTELER)

MEB KAZANIM TESTİ

TEST - 1	1-B	2-A	3-A	4-E	5-D	6-E	7-C	8-C	9-D	10-B	11-E	12-A	13-C	14-E
TEST - 2	1-C	2-C	3-A	4-B	5-C	6-D	7-E	8-B	9-A	10-E	11-D	12-D	13-E	

ÜNİTE ÖLÇME TESTİ

TEST - 1	1-B	2-E	3-C	4-D	5-E	6-B	7-D	8-C	9-A	10-A	11-B	12-E	13-D	
TEST - 2	1-D	2-A	3-E	4-C	5-E	6-A	7-B	8-D	9-C	10-B	11-E	12-C	13-A	
TEST - 3	1-A	2-E	3-B	4-E	5-A	6-C	7-D	8-A	9-B	10-B	11-D	12-E	13-E	14-A	15-C

ÖZEL TEST (İLERİ DÜZEY SORULAR)

TEST - 1	1-A	2-D	3-E	4-E	5-A	6-B	7-D	8-C	9-C	10-D	11-B	12-D	13-E	14-C
TEST - 2	1-B	2-C	3-C	4-B	5-E	6-D	7-C	8-D	9-D	10-A	11-E	12-A	13-B	

7. ÜNİTE: YERLEŞME VE DEVLETLEŞME SÜRECİNDE SELÇUKLU TÜRKİYESİ

TEST - 1	1-D	2-C	3-E	4-B	5-A	6-C	7-D	8-A	9-E	10-D	11-E	12-B	13-D	14-B		
TEST - 2	1-A	2-A	3-E	4-E	5-C	6-C	7-B	8-E	9-B	10-D	11-E	12-D	13-B	14-A	15-B	
TEST - 3	1-B	2-C	3-A	4-E	5-C	6-A	7-D	8-B	9-A	10-D	11-E	12-E	13-D	14-C	15-B	16-A

8. ÜNİTE: BEYLİKTEN DEVLETE OSMANLI SİYASETİ (1302-1453)

TEST - 1	1-A	2-D	3-B	4-C	5-D	6-E	7-E	8-E	9-D	10-B	11-C	12-A	13-A	14-C		
TEST - 2	1-A	2-D	3-C	4-B	5-E	6-A	7-B	8-C	9-E	10-B	11-D	12-A	13-C	14-E		
TEST - 3	1-B	2-E	3-C	4-B	5-E	6-A	7-C	8-D	9-D	10-A	11-A	12-D	13-C	14-D	15-E	16-C

9. ÜNİTE: DEVLETLEŞME SÜRECİNDE SAVAŞÇILAR VE ASKERLER

TEST - 1	1-A	2-B	3-D	4-D	5-B	6-C	7-E	8-C	9-B	10-A	11-A	12-C	13-E		
TEST - 2	1-B	2-E	3-D	4-E	5-C	6-D	7-A	8-C	9-B	10-D	11-A	12-B	13-B	14-E	15-D

PRF YAYINLARI

10. ÜNİTE: BEYLİKTEN DEVLETE OSMANLI MEDENİYETİ

TEST - 1	1-D	2-B	3-A	4-B	5-C	6-A	7-C	8-E	9-E	10-C	11-A	12-D	13-B	14-B	15-D	
TEST - 2	1-B	2-C	3-C	4-D	5-B	6-E	7-C	8-E	9-A	10-E	11-A	12-B	13-D	14-D	15-E	16-B

11. ÜNİTE: DÜNYA GÜCÜ OSMANLI (1453-1595)

TEST - 1	1-D	2-C	3-E	4-E	5-A	6-C	7-D	8-B	9-A	10-E	11-C	12-D	13-D	14-B	15-B	16-A
TEST - 2	1-A	2-E	3-E	4-D	5-B	6-C	7-D	8-B	9-C	10-C	11-A	12-E	13-B	14-A	15-D	16-C
TEST - 3	1-E	2-D	3-E	4-B	5-B	6-D	7-E	8-A	9-C	10-E	11-C	12-C	13-A	14-D	15-B	16-B
TEST - 4	1-A	2-B	3-E	4-C	5-A	6-C	7-E	8-E	9-B	10-A	11-B	12-D	13-A	14-D		
TEST - 5	1-C	2-E	3-B	4-A	5-C	6-E	7-D	8-B	9-C	10-A	11-D	12-A	13-B	14-A	15-E	
TEST - 6	1-B	2-E	3-C	4-A	5-B	6-E	7-C	8-C	9-A	10-A	11-C	12-B	13-E	14-A		

12. ÜNİTE: SULTAN VE OSMANLI MERKEZ TEŞKİLATI

TEST - 1	1-A	2-E	3-D	4-B	5-E	6-B	7-E	8-A	9-B	10-E	11-C	12-C	13-A	14-D	15-D	
TEST - 2	1-C	2-D	3-D	4-E	5-D	6-A	7-B	8-D	9-C	10-C	11-C	12-E	13-B	14-A	15-A	16-B

13. ÜNİTE: KLASİK ÇAĞDA OSMANLI TOPLUM DÜZENİ

TEST - 1	1-E	2-D	3-A	4-A	5-C	6-B	7-E	8-C	9-B	10-A	11-B	12-E	13-D	14-D		
TEST - 2	1-C	2-D	3-E	4-C	5-A	6-E	7-D	8-A	9-E	10-B	11-C	12-C	13-D	14-A	15-B	16-C

GENEL TARAMA TESTLERİ (7 - 13. ÜNİTELER)

MEB KAZANIM TESTİ

TEST - 1	1-C	2-E	3-A	4-D	5-B	6-C	7-A	8-C	9-E	10-B	11-E	12-D	13-C	
TEST - 2	1-B	2-E	3-B	4-E	5-C	6-D	7-A	8-A	9-A	10-C	11-B	12-A	13-D	14-C

ÜNİTE ÖLÇME TESTİ

TEST - 1	1-D	2-B	3-A	4-C	5-E	6-D	7-C	8-B	9-A	10-B	11-E	12-E	13-D	14-A
TEST - 2	1-D	2-B	3-C	4-B	5-E	6-C	7-A	8-E	9-D	10-D	11-C	12-E	13-A	14-B
TEST - 3	1-A	2-D	3-A	4-E	5-B	6-B	7-C	8-D	9-E	10-C	11-B	12-E	13-A	

ÖZEL TEST (İLERİ DÜZEY SORULAR)

TEST - 1	1-E	2-D	3-C	4-A	5-C	6-E	7-D	8-A	9-E	10-E	11-A	12-B	13-B	14-C
TEST - 2	1-B	2-C	3-E	4-A	5-C	6-E	7-C	8-E	9-C	10-A	11-E	12-E	13-B	

PRF YAYINLARI

14. ÜNİTE: DEĞİŞEN DÜNYA DENGELERİ KARŞISINDA OSMANLI SİYASETİ

TEST - 1	1-A	2-E	3-B	4-A	5-D	6-C	7-C	8-A	9-C	10-E	11-B	12-D	13-C		
TEST - 2	1-A	2-B	3-B	4-E	5-C	6-D	7-D	8-C	9-A	10-D	11-C	12-B	13-E		
TEST - 3	1-E	2-A	3-D	4-B	5-B	6-A	7-C	8-A	9-D	10-B	11-C	12-E	13-C	14-E	15-A
TEST - 4	1-A	2-B	3-E	4-D	5-D	6-B	7-D	8-C	9-E	10-B	11-C	12-C	13-D	14-E	15-A
TEST - 5	1-B	2-A	3-C	4-E	5-D	6-D	7-B	8-D	9-C	10-E	11-E	12-C			

15. ÜNİTE: DEĞİŞİM ÇAĞINDA AVRUPA VE OSMANLI

TEST - 1	1-E	2-B	3-C	4-A	5-D	6-D	7-E	8-C	9-B	10-E	11-A	12-A	13-C	14-E	15-D	16-C
TEST - 2	1-C	2-B	3-A	4-D	5-B	6-E	7-E	8-E	9-B	10-A	11-C	12-A	13-D	14-C		
TEST - 3	1-A	2-B	3-E	4-C	5-B	6-D	7-C	8-B	9-A	10-B	11-C	12-D	13-E	14-D		

16. ÜNİTE: ULUSLARARASI İLİŞKİLERDE DENGE STRATEJİSİ (1774-1914)

TEST - 1	1-B	2-C	3-E	4-D	5-E	6-D	7-A	8-C	9-B	10-A	11-D	12-D	13-B	14-B
TEST - 2	1-A	2-B	3-A	4-D	5-C	6-E	7-C	8-E	9-A	10-E	11-D	12-B	13-C	14-E
TEST - 3	1-C	2-D	3-A	4-A	5-E	6-C	7-B	8-A	9-E	10-C	11-B	12-D	13-A	14-A
TEST - 4	1-B	2-B	3-A	4-B	5-C	6-A	7-B	8-E	9-D	10-E	11-D	12-C	13-A	
TEST - 5	1-E	2-E	3-C	4-D	5-A	6-D	7-B	8-A	9-B	10-C	11-E	12-B	13-D	
TEST - 6	1-A	2-B	3-C	4-D	5-A	6-E	7-B	8-B	9-D	10-E	11-E	12-C	13-B	14-A

17. ÜNİTE: DEVRİMLER ÇAĞINDA DEĞİŞEN DEVLET-TOPLUM İLİŞKİLERİ

TEST - 1	1-B	2-E	3-A	4-A	5-E	6-A	7-B	8-C	9-D	10-D	11-E	12-E	13-C	14-B
TEST - 2	1-C	2-E	3-D	4-B	5-E	6-A	7-E	8-A	9-B	10-C	11-B	12-E	13-D	
TEST - 3	1-D	2-B	3-E	4-B	5-E	6-C	7-C	8-D	9-A	10-B	11-C	12-D	13-A	
TEST - 4	1-C	2-A	3-E	4-C	5-D	6-D	7-E	8-E	9-D	10-B	11-B	12-A	13-C	
TEST - 5	1-C	2-D	3-A	4-B	5-E	6-B	7-C	8-A	9-E	10-E				

PRF YAYINLARI

18. ÜNİTE: SERMAYE VE EMEK

TEST - 1	1-D	2-D	3-C	4-A	5-B	6-A	7-C	8-E	9-E	10-E	11-C	12-D	13-B	14-B
TEST - 2	1-D	2-A	3-B	4-D	5-A	6-A	7-C	8-B	9-B	10-E	11-D	12-E	13-C	
TEST - 3	1-E	2-D	3-C	4-A	5-B	6-C	7-A	8-E	9-E	10-B	11-A	12-C	13-D	

19. ÜNİTE: XIX VE XX. YÜZYILDA DEĞİŞEN GÜNDELİK HAYAT

TEST - 1	1-A	2-E	3-C	4-A	5-B	6-D	7-B	8-C	9-E	10-B	11-A	12-E	13-D
TEST - 2	1-B	2-E	3-C	4-E	5-A	6-C	7-E	8-D	9-C	10-B	11-A	12-D	13-B

GENEL TARAMA TESTLERİ (14 - 19. ÜNİTELER)

MEB KAZANIM TESTİ

TEST - 1	1-C	2-B	3-A	4-D	5-E	6-C	7-A	8-B	9-D	10-C	11-D	12-E
TEST - 2	1-D	2-E	3-D	4-E	5-C	6-B	7-B	8-A	9-A	10-B	11-C	12-E

ÜNİTE ÖLÇME TESTİ

TEST - 1	1-D	2-A	3-D	4-E	5-C	6-A	7-C	8-A	9-C	10-C	11-D	12-E	13-B
TEST - 2	1-C	2-D	3-A	4-E	5-E	6-B	7-E	8-C	9-A	10-E	11-B	12-A	
TEST - 3	1-B	2-D	3-D	4-C	5-B	6-A	7-C	8-E	9-A	10-B	11-C	12-E	

ÖZEL TEST (İLERİ DÜZEY SORULAR)

TEST - 1	1-E	2-B	3-D	4-C	5-E	6-A	7-D	8-E	9-C	10-B	11-A	12-C
TEST - 2	1-B	2-A	3-E	4-D	5-E	6-A	7-B	8-C	9-A	10-C	11-D	

20. ÜNİTE: XX. YÜZYIL BAŞLARINDA OSMANLI DEVLETİ VE DÜNYA

TEST - 1	1-E	2-E	3-D	4-A	5-C	6-B	7-A	8-C	9-D	10-B	11-D	12-B				
TEST - 2	1-C	2-A	3-E	4-D	5-B	6-E	7-C	8-E	9-B	10-A	11-C	12-D	13-B	14-A		
TEST - 3	1-B	2-C	3-D	4-A	5-A	6-E	7-E	8-C	9-B	10-E	11-C	12-E	13-A	14-A	15-D	16-B
TEST - 4	1-A	2-D	3-B	4-C	5-A	6-C	7-D	8-E	9-E	10-B	11-C	12-E	13-A	14-B	15-C	16-D

PRF YAYINLARI

21. ÜNİTE: MİLLÎ MÜCADELE

HAZIRLIK DÖNEMİ

TEST - 1	1-A	2-B	3-D	4-C	5-C	6-D	7-C	8-B	9-D	10-A	11-B	12-E	13-E		
TEST - 2	1-A	2-B	3-D	4-A	5-B	6-D	7-C	8-B	9-A	10-A	11-D	12-E	13-E	14-C	
TEST - 3	1-E	2-C	3-D	4-C	5-B	6-A	7-A	8-B	9-D	10-E	11-E	12-A	13-C		
TEST - 4	1-E	2-C	3-D	4-C	5-B	6-B	7-E	8-A	9-E	10-B	11-D	12-C	13-A	14-A	

I. BÜYÜK MİLLET MECLİSİ DÖNEMİ

TEST - 5	1-C	2-E	3-C	4-A	5-D	6-D	7-B	8-C	9-E	10-D	11-A	12-B	13-B	14-E	
TEST - 6	1-E	2-E	3-B	4-A	5-D	6-C	7-B	8-A	9-D	10-D	11-E	12-C	13-D	14-A	15-B

CEPHELER

TEST - 7	1-C	2-E	3-A	4-B	5-C	6-E	7-D	8-B	9-E	10-B	11-C	12-E	13-C	14-D	15-A	
TEST - 8	1-B	2-D	3-C	4-B	5-A	6-E	7-E	8-D	9-E	10-A	11-A	12-D	13-D	14-C	15-B	
TEST - 9	1-A	2-E	3-B	4-B	5-E	6-D	7-A	8-C	9-A	10-C	11-A	12-D	13-D	14-C	15-E	16-B
TEST - 10	1-D	2-C	3-E	4-A	5-B	6-E	7-B	8-D	9-E	10-E	11-C	12-A	13-B	14-C	15-A	16-D

MUDANYA'DAN LOZAN'A

TEST - 11	1-D	2-A	3-D	4-E	5-E	6-C	7-B	8-B	9-B	10-C	11-E	12-C	13-A	14-D	
TEST - 12	1-E	2-E	3-A	4-C	5-B	6-B	7-D	8-A	9-C	10-A	11-A	12-B	13-E	14-D	15-C

22. ÜNİTE: ATATÜRKÇÜLÜK VE TÜRK İNKILABI

ATATÜRK İLKELERİ

TEST - 1	1-B	2-A	3-E	4-E	5-B	6-A	7-C	8-B	9-D	10-C	11-A	12-D	13-E	
TEST - 2	1-B	2-C	3-A	4-E	5-D	6-C	7-A	8-B	9-D	10-B	11-E	12-E	13-D	14-C
TEST - 3	1-C	2-C	3-E	4-D	5-B	6-A	7-D	8-E	9-C	10-B	11-A	12-A		

PRF YAYINLARI

İNKILAPLAR

TEST - 4	1-A	2-C	3-E	4-D	5-A	6-C	7-D	8-B	9-A	10-E	11-D	12-C	13-C	14-B
TEST - 5	1-D	2-E	3-A	4-E	5-A	6-C	7-E	8-C	9-D	10-D	11-B	12-B		
TEST - 6	1-B	2-C	3-C	4-D	5-A	6-E	7-A	8-E	9-B	10-D	11-B	12-A	13-C	
TEST - 7	1-B	2-C	3-A	4-C	5-E	6-C	7-E	8-D	9-A	10-E	11-B	12-C	13-D	
TEST - 8	1-C	2-E	3-A	4-C	5-B	6-D	7-E	8-B	9-C	10-A	11-E	12-A	13-D	14-B

GENEL TARAMA TESTLERİ (20 - 22. ÜNİTELER)

MEB KAZANIM TESTİ

TEST - 1	1-D	2-C	3-B	4-B	5-A	6-E	7-A	8-C	9-B	10-D	11-E	12-A
TEST - 2	1-C	2-D	3-C	4-A	5-B	6-E	7-E	8-D	9-A	10-B	11-A	12-C

ÜNİTE ÖLÇME TESTİ

TEST - 1	1-B	2-D	3-A	4-D	5-E	6-B	7-C	8-D	9-E	10-C	11-A		
TEST - 2	1-B	2-E	3-D	4-A	5-D	6-C	7-D	8-B	9-E	10-B	11-A	12-C	13-C
TEST - 3	1-B	2-C	3-D	4-D	5-C	6-E	7-A	8-E	9-A	10-B	11-C	12-A	13-B	14-E

ÖZEL TEST (İLERİ DÜZEY SORULAR)

TEST - 1	1-E	2-A	3-E	4-C	5-B	6-D	7-B	8-C	9-D	10-B	11-D	12-A
TEST - 2	1-E	2-A	3-E	4-B	5-A	6-D	7-A	8-E	9-D	10-C	11-B	12-C

23. ÜNİTE: İKİ SAVAŞ ARASINDAKİ DÖNEMDE TÜRKİYE VE DÜNYA

TEST - 1	1-A	2-C	3-B	4-E	5-E	6-D	7-A	8-B	9-C	10-E	11-D			
TEST - 2	1-A	2-D	3-E	4-E	5-D	6-B	7-B	8-D	9-C	10-C	11-C	12-E	13-A	
TEST - 3	1-E	2-B	3-A	4-D	5-D	6-B	7-B	8-C	9-E	10-C	11-D	12-A		
TEST - 4	1-E	2-E	3-A	4-D	5-D	6-C	7-A	8-E	9-D	10-B	11-B	12-C	13-E	14-C

24. ÜNİTE: II. DÜNYA SAVAŞI SÜRECİNDE TÜRKİYE VE DÜNYA

TEST - 1	1-E	2-D	3-E	4-C	5-A	6-B	7-D	8-A	9-C	10-E	11-A	12-B
TEST - 2	1-A	2-C	3-B	4-E	5-C	6-A	7-B	8-D	9-E	10-D	11-B	12-D
TEST - 3	1-A	2-B	3-D	4-B	5-E	6-E	7-A	8-C	9-C	10-E	11-D	12-D

PRF YAYINLARI

25. ÜNİTE: II. DÜNYA SAVAŞI SONRASINDA TÜRKİYE VE DÜNYA

TEST - 1	1-C	2-B	3-D	4-C	5-A	6-D	7-B	8-E	9-E	10-D	11-A	12-C			
TEST - 2	1-A	2-D	3-D	4-B	5-E	6-C	7-A	8-E	9-E	10-C	11-D	12-B	13-C	14-A	15-B
TEST - 3	1-A	2-A	3-B	4-C	5-B	6-E	7-C	8-D	9-E	10-D	11-B	12-E			

26. ÜNİTE: TOPLUMSAL DEVRİM ÇAĞINDA DÜNYA VE TÜRKİYE

TEST - 1	1-D	2-A	3-C	4-E	5-E	6-B	7-B	8-D	9-E	10-A	11-C	12-A	13-B		
TEST - 2	1-B	2-A	3-D	4-A	5-C	6-B	7-D	8-E	9-E	10-A	11-E	12-A	13-C	14-D	
TEST - 3	1-A	2-C	3-A	4-E	5-B	6-E	7-D	8-C	9-D	10-B	11-A	12-B	13-E	14-D	15-C

27. ÜNİTE: XXI. YÜZYILIN EŞİĞİNDE TÜRKİYE VE DÜNYA

TEST - 1	1-E	2-B	3-C	4-B	5-C	6-A	7-A	8-E	9-A	10-E	11-D	12-D	
TEST - 2	1-E	2-C	3-E	4-C	5-A	6-B	7-D	8-A	9-D	10-B	11-B	12-C	13-A
TEST - 3	1-A	2-E	3-C	4-C	5-B	6-A	7-B	8-D	9-C	10-E	11-D	12-B	13-A

GENEL TARAMA TESTLERİ (23 - 27. ÜNİTELER)

MEB KAZANIM TESTİ

TEST - 1	1-C	2-D	3-C	4-A	5-A	6-B	7-D	8-B	9-A	10-E	11-B	12-B	13-D	14-D	15-E
TEST - 2	1-C	2-A	3-E	4-B	5-C	6-D	7-B	8-E	9-D	10-C	11-A	12-B	13-E	14-D	

ÜNİTE ÖLÇME TESTİ

TEST - 1	1-C	2-D	3-A	4-E	5-E	6-B	7-A	8-D	9-A	10-B	11-E	12-C	13-B	14-C		
TEST - 2	1-E	2-B	3-C	4-A	5-B	6-C	7-E	8-A	9-D	10-D	11-C	12-E				
TEST - 3	1-B	2-E	3-B	4-D	5-A	6-E	7-C	8-C	9-D	10-B	11-A	12-A				
TEST - 4	1-C	2-A	3-B	4-D	5-E	6-D	7-A	8-C	9-B	10-D	11-E	12-C	13-B	14-E	15-A	16-A

ÖZEL TEST (İLERİ DÜZEY SORULAR)

TEST	1-D	2-B	3-E	4-B	5-A	6-D	7-C	8-A	9-B	10-C	11-D	12-E	13-A

PRF YAYINLARI

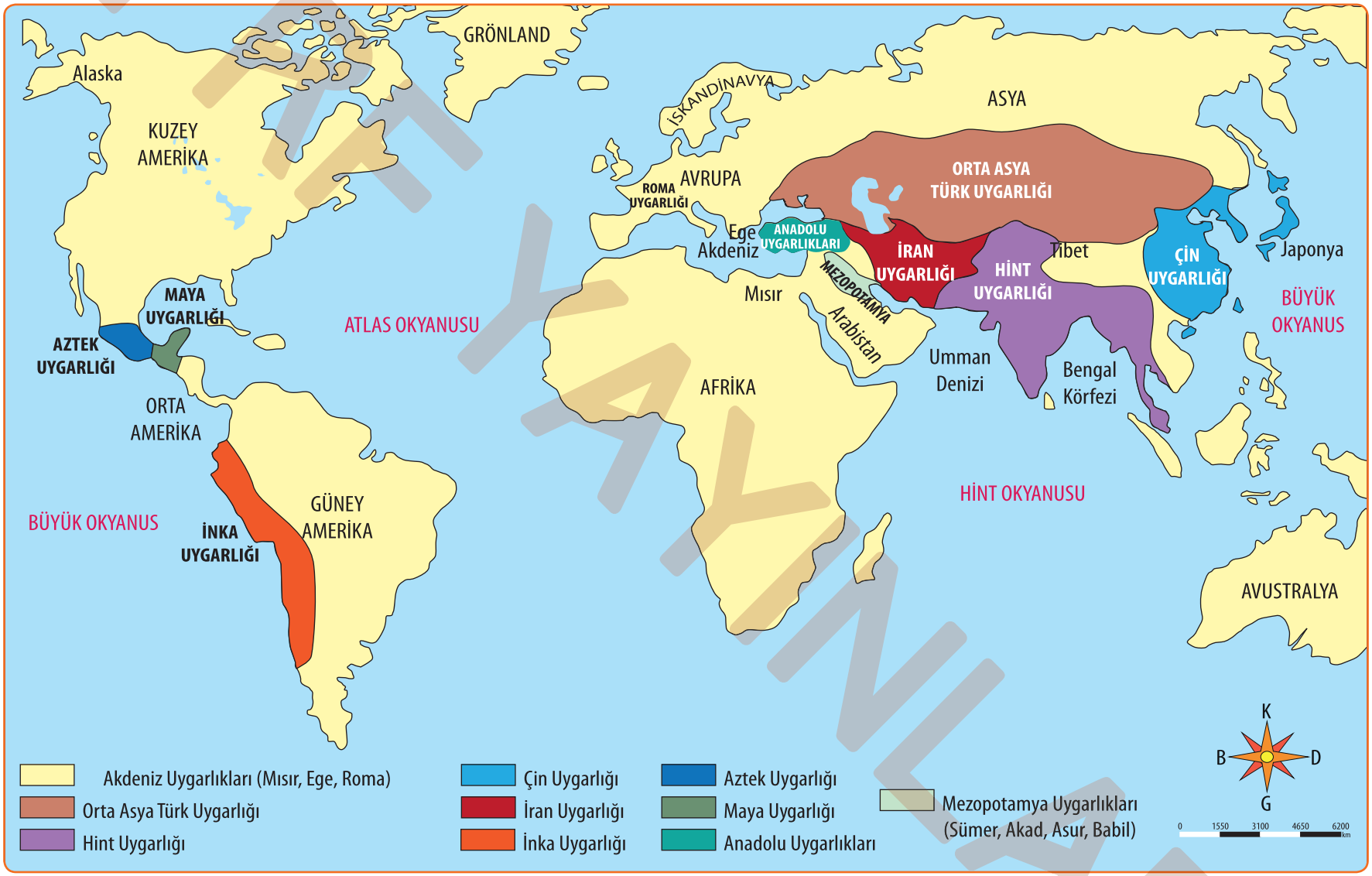

DÜNYA ÜZERİNDEKİ İLK UYGARLIKLAR

PRF YAYINLARI
Hedefine Paraf At

PRF YAYINLARI
Hedefine Paraf At

İSLAMİYET'İN YAYILIŞI

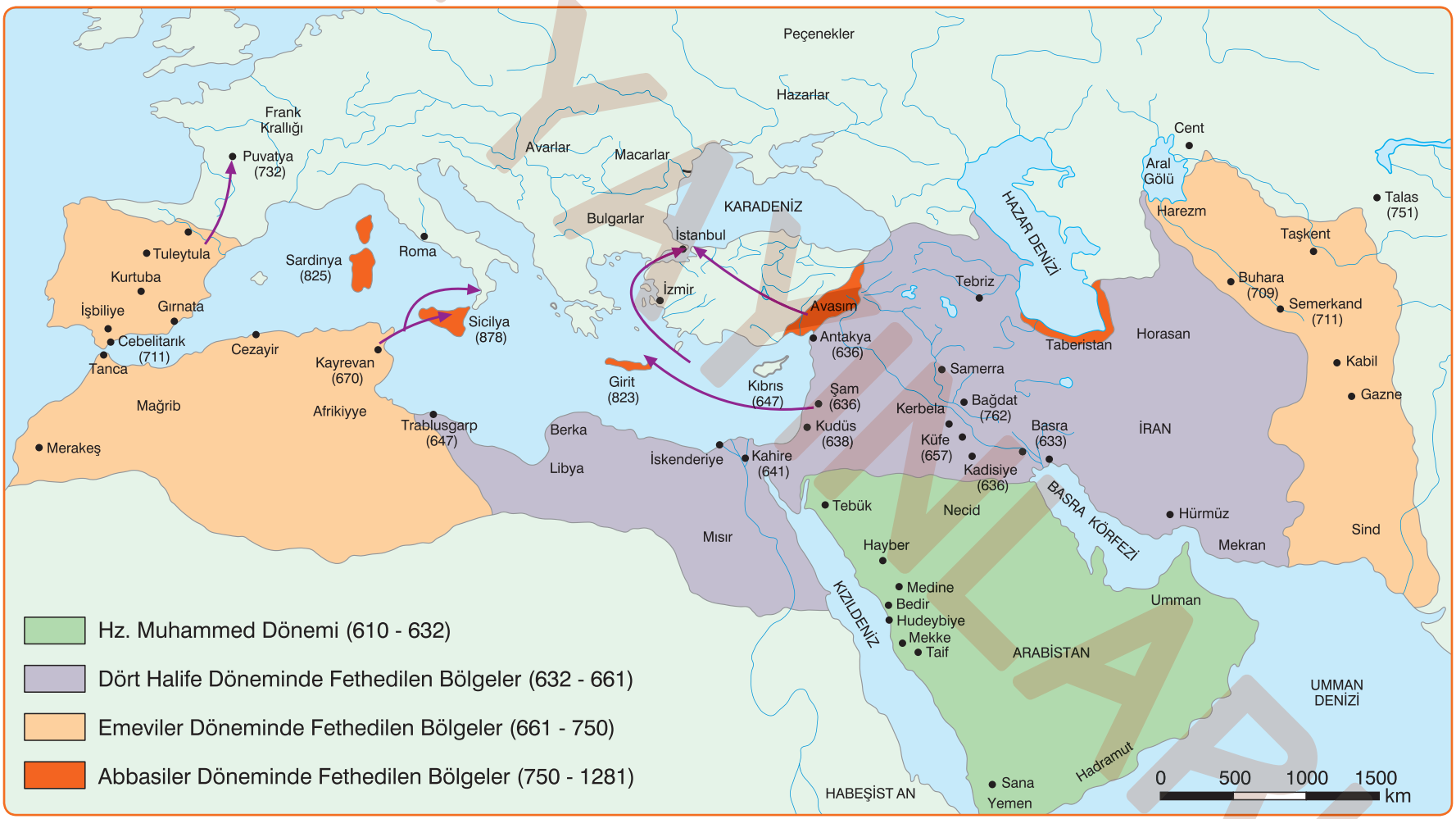

PRF YAYINLARI

İLK TÜRK DEVLETLERİ

PRF YAYINLARI

PRF YAYINLARI
Hedefine Paraf At

İLK VE ORTA ÇAĞLARDA TİCARET YOLLARI

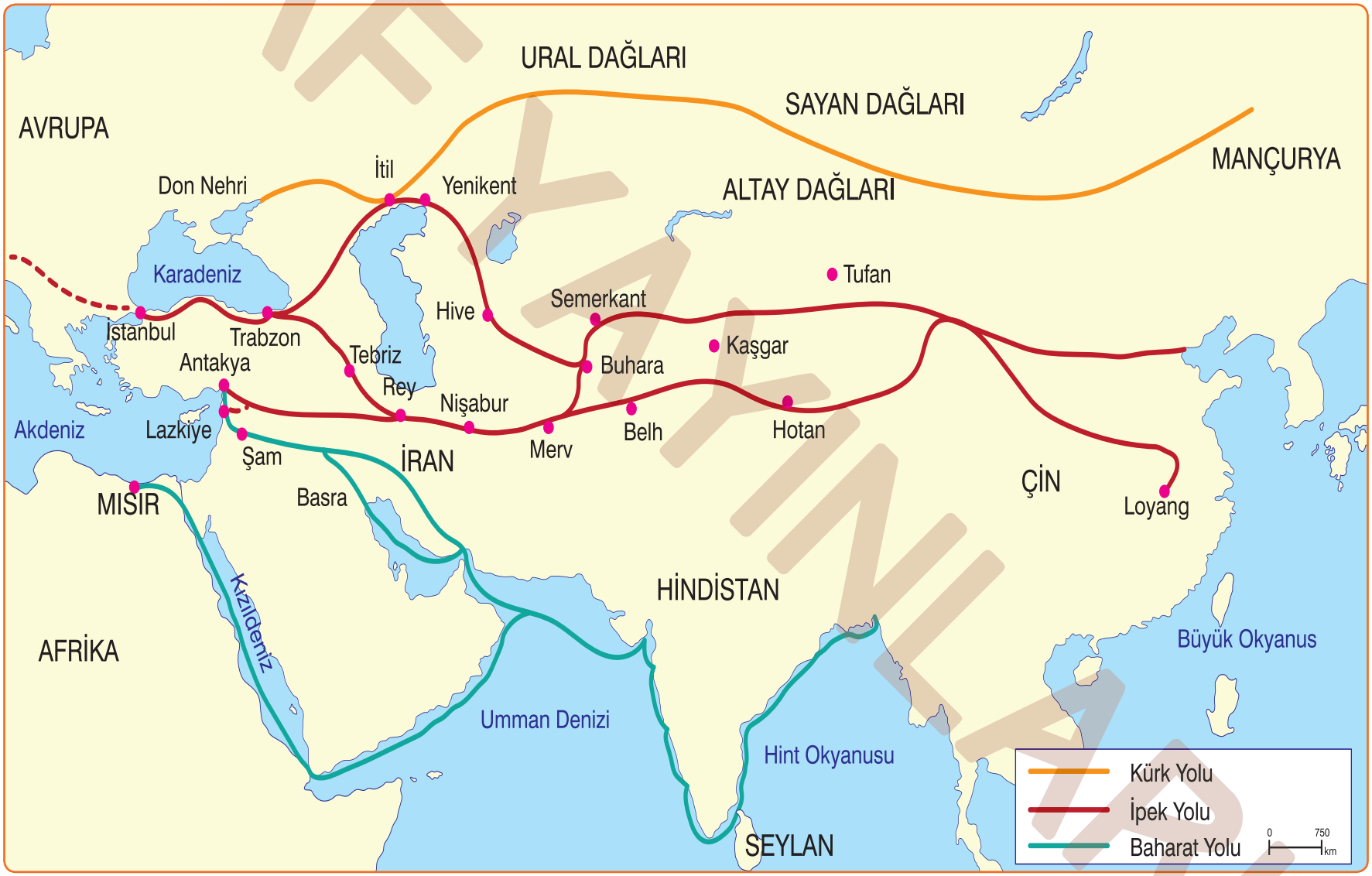

PRF YAYINLARI

KANUNİ DÖNEMİ OSMANLI SINIRLARI

PRF YAYINLARI
Hedefine Paraf At

BİRİNCİ DÜNYA SAVAŞI DÖNEMİ'NDE İTTİFAK VE İTİLAF DEVLETLERİ

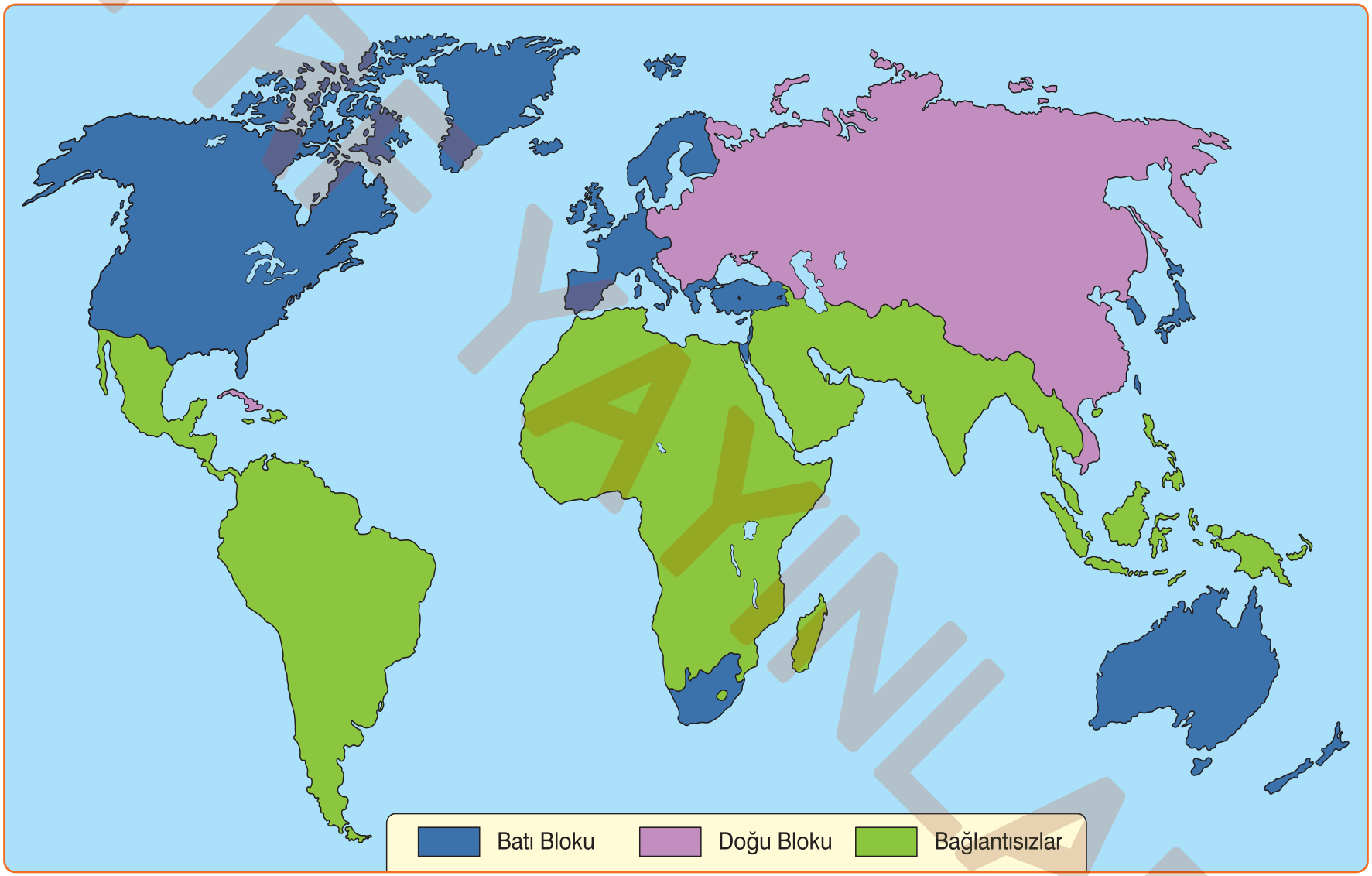

SOĞUK SAVAŞ DÖNEMİ DEVLETLERİ

PRF YAYINLARI
Hedefine Paraf At

PRF YAYINLARI
Hedefine Paraf At

TÜRK DÜNYASI

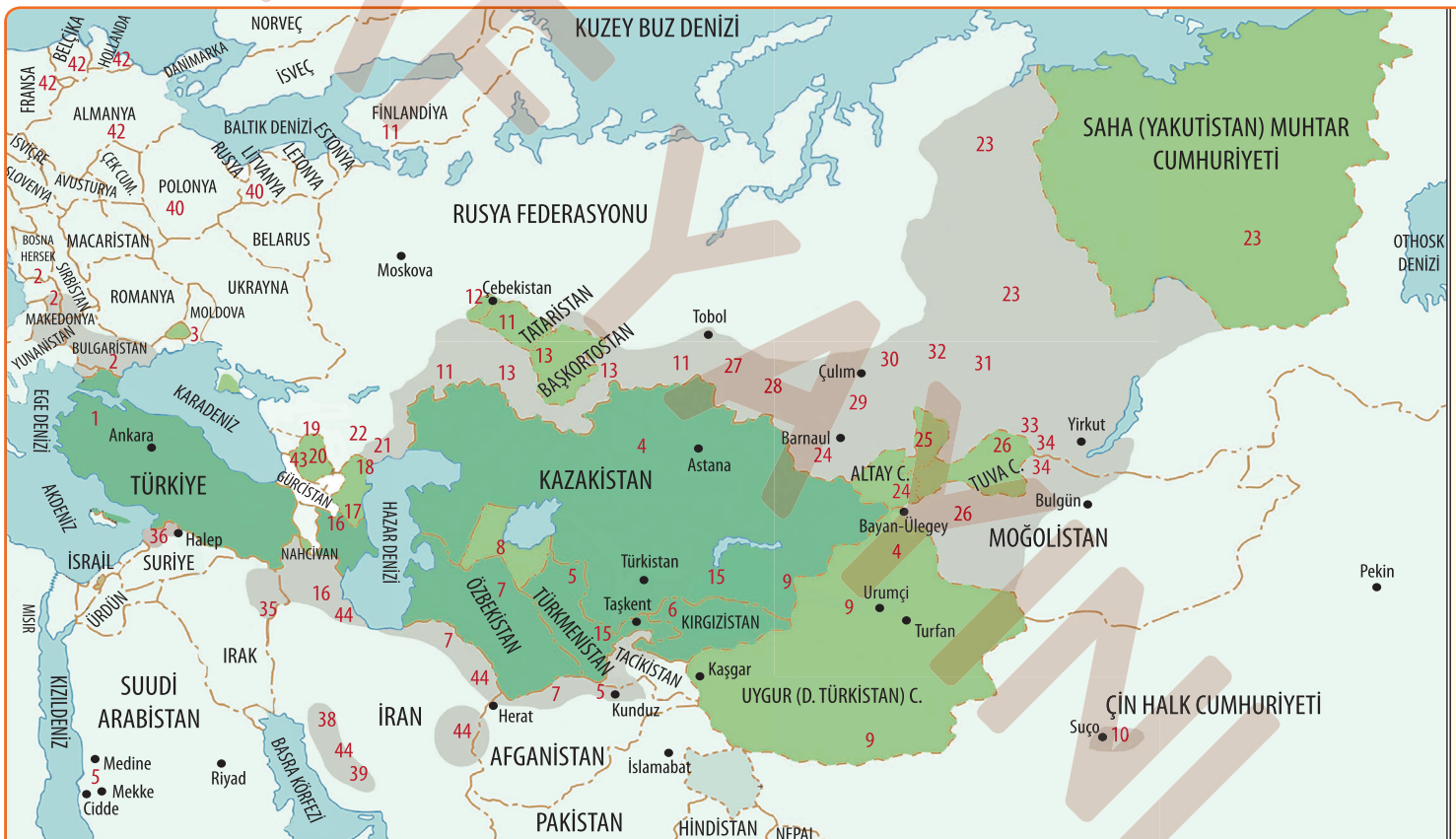

1. Türkiye Türkleri
2. Balkan Türkleri
3. Gagavuz Türkleri
4. Kazaklar
5. Özbekler
6. Kırgızlar
7. Türkmenler
8. Karakalpaklar
9. Uygurlar
10. Sarı uygurlar ve Salarlar
11. Tatarlar
12. Çavuşlar
13. Başkurtlar
14. Kırımçaklar
15. Ahıska Türkleri
16. Azerbaycan Türkleri
17. Dağıstan Türkleri
18. Kumuklar
19. Karaçaylar
20. Balkarlar (Malkarlar)
21. Nogaylar
22. Stavropol Türkmenleri
23. Saha (Yakut) Türkleri
24. Altay Türkleri
25. Hakaslar
26. Tuva Türkleri
27. Tobol Tatarları
28. Barabalar
29. Şorlar
30. Çulım
31. Kumandı
32. Kandak
33. Karagas
34. Uranhay
35. Irak Türkleri
36. Suriye Türkleri
37. Kıbrıs Türkleri
38. Kaşgaylar
39. Hamse Türkmenleri
40. Karaim Türkleri
41. Kırım Türkleri
42. Avrupa'daki Türkler
43. Kabardin-Balkar Türkleri
44. İran Türkleri

BAĞIMSIZ DEVLETLER

a) Azerbaycan C.
b) Kazakistan C.
c) Kırgız C.
ç) Kuzey Kıbrıs Türk C.
d) Özbekistan C.
e) Türkiye Cumhuriyeti
f) Türkmenistan C.

ÖZERK CUMHURİYETLER

a) Başkortostan C.
b) Çuvaşistan C.
c) Dağıstan C.
ç) Gagavuz C.
d) Kabardin-Balkar C.
e) Karakalpakistan C.
f) Nahcivan C.
g) Saha (Yakutistan) Muhtar C.
ğ) Tuvan C.
h) Uygur (D. Türkistan) C.
ı) Tataristan C.
i) Altay C.
j) Hakasya C.
k) Karaçay-Çerkes C.

İŞARETLER

Devlet sınırı
Bağımsız Türk devletleri
Özerk cumhuriyet, eyalet ve vilayetler
Özerk olmayan Türk bölgeleri

K
B D
G

0 320 640 km

PRF YAYINLARI